Мирас ®
Университеті

Программа вступительных испытаний по ОП 6В11101 – «Туризм. Управление гостеприимством»

Университет «Мирас»

Сектор бизнеса, управления и сферы обслуживания

«УТВЕРЖДАЮ»
Председатель рабочей группы по реализации эксперимента для апробации новых образовательных технологий и программ
_____ Даниярова А.Б.-П.
(подпись) (Ф.И.О.)
21 » августа 2023 г.

ПРОГРАММА
вступительных испытаний

6В11101 « Туризм. Управление гостеприимством »
(шифрОП) (наименование ОП)

Рассмотрена и утверждена на заседании рабочей группы по реализации эксперимента для апробации новых образовательных технологий и программ
Протокол № 2 от « 21 » августа 2023 г.

Шымкент, 2023г.

Программа вступительных испытаний составлена на основании программ учебных дисциплин, входящих в образовательную программу ОП 6В11101 – «Туризм. Управление гостеприимством»

Программу подготовили: магистр, старший преподаватель Калкабаев А.М., магистр, старший преподаватель Саниева З.Р.

Менеджер сектора Коптаева Г.П.

Содержание

1 Термины и определения..... 5
2 Нормативные документы..... 5
3 Общие положения..... 5
4 Проведение вступительных испытаний..... 5
5 Ключевые компетенции образовательной программы..... 6
Приложение 1 Примерный перечень тестовых вопросов по Блоку «Всемирная история»..... 8
Приложение 2 Примерный перечень тестовых вопросов по Блоку «Человек.Общество.Право+Основы права..... 36
Приложение 3 Примерный перечень тестовых вопросов по Блоку «Педагогика и психология (решения педагогических ситуации)»..... 68

1. Термины и определения

1. *Бакалавриат* – высшее образование, образовательные программы которого направлены на подготовку кадров с присуждением степени «бакалавр» по соответствующей специальности;
2. *ГОСО* – Государственный общеобязательный стандарт образования;
3. *Образовательная программа* – единый комплекс основных характеристик образования, включающий цели, результаты и содержание обучения, организацию образовательного процесса, способы и методы их реализации, критерии оценки результатов обучения;
4. *Учебные достижения обучающихся* – знания, умения, навыки и компетенции обучающихся, приобретаемые ими в процессе обучения и отражающие достигнутый уровень развития личности.

2. Нормативные документы

Программа вступительных испытаний по образовательной программе 6В11101 – «Туризм. Управление гостеприимством» разработана на основе следующих нормативно-правовых актов:

1. Типовых правил приема на обучение в организации образования, реализующие образовательные программы высшего и послевузовского образования;
2. Приказа МНВО от 16 августа 2023 года №406 «Об определении Университета «Мирас» экспериментальной площадкой»;
3. Закона Республики Казахстан «Об образовании» от 27 июля 2007 года № 319-III (с изменениями и дополнениями);
4. Академической политики университета «Мирас».

3. Общие положения

1. Для зачисления на платное обучение по образовательной программе 6В11101 – «Туризм. Управление гостеприимством» допускаются лица, имеющие среднее, техническое и профессиональное либо послесреднее образование, за исключением поступающих по родственным направлениям подготовки кадров высшего образования, предусматривающим сокращенные сроки обучения.
2. Поступающие, прошедшие единое национальное тестирование (ЕНТ), должны набрать не менее 50 баллов, в том числе включая:
– не менее 5 баллов по предмету «История Казахстана»;
– не менее 5 баллов по каждому из двух профильных предметов;
– не менее 3 баллов по предметам «Грамотность чтения» и «Математическая грамотность».
3. Поступающие в рамках эксперимента, предусмотренного Приказом МНВО РК от 16 августа 2023 года №406 «Об определении Университета «Мирас» экспериментальной площадкой», принимаются без ЕНТ и сдают вступительное испытание по данной Программе.

4. Проведение вступительных испытаний

1. Вступительные испытания проводятся в рамках настоящей Программы, разработанной на основе рабочих учебных программ дисциплин, входящих в образовательную программу.

2. Вступительное испытание по образовательной программе 6В11101 – «Туризм. Управление гостеприимством» проводится в форме компьютерного тестирования.

3. Проведение вступительного испытания организуется техническими секретарями, назначаемыми приказом ректора университета или уполномоченного лица на период проведения вступительных испытаний.

4. В качестве технических секретарей могут быть назначены преподаватели, сотрудники университета, представители общественных организаций и средств массовой информации, обучающиеся, а также лица, имеющие профильное образование.

5. Для участия во вступительном испытании поступающий предоставляет:

- документ об образовании (с подлинником для сверки);
- при наличии — документ, подтверждающий освоение академических кредитов;
- при наличии — документ, дающий право на освобождение от вступительного испытания.

6. Подача заявлений на участие в испытании осуществляется в течение календарного года через образовательный портал университета. После обработки заявления поступающему направляется уведомление о дате и времени экзамена.

7. Доступ к тестированию предоставляется через систему идентификации личности на образовательном портале университета.

8. Университет обеспечивает возможность дистанционной сдачи вступительного испытания с использованием информационных технологий и видеоконференцсвязи. В целях обеспечения прозрачности и исключения нарушений академической честности осуществляется аудио- и видеозапись процесса тестирования.

9. Записи хранятся в течение одного месяца и подлежат уничтожению по акту с участием председателя экзаменационной комиссии, ответственного секретаря и не менее трёх членов комиссии.

10. Результаты тестирования оформляются в электронной ведомости и передаются ответственному секретарю приёмной комиссии для публикации. Протокол заседания подписывается с использованием цифровой подписи всеми членами комиссии.

11. Результаты вступительного испытания объявляются в день проведения экзамена. Поступающему предоставляется электронный сертификат, сформированный системой автоматически.

12. На период проведения вступительных испытаний создается апелляционная комиссия по приказу ректора или уполномоченного лица. Комиссия формируется из нечетного числа членов и включает председателя.

13. Заявление на апелляцию подается поступающим лично на имя председателя апелляционной комиссии до 13:00 следующего дня после публикации результатов.

14. При подаче апелляции поступающий обязан предъявить удостоверение личности.

15. Апелляционная комиссия рассматривает каждое заявление индивидуально. В случае неявки поступающего заявление не рассматривается.

16. Комиссия рассматривает только вопросы, указанные в апелляционном заявлении.

17. Заседание апелляционной комиссии считается правомочным при наличии не менее 2/3 её состава. Решения принимаются большинством голосов. При равенстве голосов решающим является голос председателя. Результаты оформляются протоколом и подписываются всеми присутствующими членами комиссии

5. Ключевые компетенции образовательной программы ОП 6В11101 – «Туризм. Управление гостеприимством»

Профессиональные компетенции (ПК):

ПК-1 Проектные компетенции

- Использование инновационных и информационных технологий для создания туристского продукта;
- Применение методов анализа, разработки и поиска решений в деятельности предприятий туристской индустрии

ПК-2 Исследовательские компетенции

- Сбор, анализ и обработка научно-технической информации в сфере туризма и гостеприимства с использованием информационно-коммуникационных технологий;
- Использование современных достижений науки и передовой технологии в научно-исследовательских работах в сфере туризма, гостиничного и ресторанного бизнеса

ПК-3 Сервисные компетенции

- Умение организовать процесс обслуживания потребителя;
- Определение форм и методов обслуживания в ресторанах, гостиницах и туристских комплексах;
- Определение технологии приема и размещения в ресторанах, гостиницах и туристских комплексах

ПК-4 Развивающие компетенции

- Способность учиться, приобретать новые знания, умения в области туризма и использовать их в профессиональной деятельности;
- Способность критически оценивать свои достоинства и недостатки, наметить пути и выбрать средства развития достоинств и устранения недостатков;
- Способность осознавать социальную значимость своей будущей профессии, иметь высокую мотивацию к выполнению профессиональной деятельности;
- Стремление к постоянному саморазвитию, повышению своей квалификации и мастерства

ПК-5 Креативные компетенции

- Владеть знаниями в области инновационной деятельности, умениями и навыками перестраивать профессиональную деятельность, реализовывать авторские новаторские идеи, находить нестандартные и альтернативные решения, быть способным к генерации новых идей, к критическому мышлению.
- Умение формулировать проблему, креативно подойти к ее решению;
- Проявление интереса к творческим задачам, способность действовать не только по стандартной предложенной схеме

ПК-6 Профессионально-коммуникативные компетенции

- Уметь вести переговоры, знать технику ведения деловых переговоров

ПК-7 Экспертно-аналитические компетенции

- Выявление и анализ проблемы, умение аргументировать выводы и грамотно оперировать информацией

Приложение 1

Примерный перечень тестовых вопросов по Блоку «География»

1. Ветер, меняющий направление 2 раза в год:
A) Муссон
B) Бриз
C) Горный
D) Западный
E) Пассат

2. Восточная крайняя точка Казахстана находится в горах:
A) Алтая
B) Мугоджар
C) Урала
D) Жунгарского Алатау
E) Тянь-Шаня

3. Крупные районы рисосеяния Казахстана сложились:
A) На юге
B) В центре
C) На востоке
D) На западе
E) На севере

4. Широту и долготу точки земной поверхности называют:
A) Географическими координатами
B) Точками измерения
C) Указателями карты
D) Точками ориентирования
E) Горизонталями

5. Основная сельскохозяйственная культура Канады:
A) Пшеница
B) Лен
C) Кукуруза
D) Овес
E) Картофель

6. Перемещение населения из одного района в другие районы страны:
A) Миграция
B) Эмиграция
C) Ассимиляция
D) Иммиграция
E) Депопуляция

7. У людей экваториальной расы:
A) Темный цвет кожи, черные курчавые волосы, толстые губы, широкий нос.
B) Черный цвет кожи, голубые глаза
C) Желтоватый цвет кожи, светлые прямые волосы
D) Светлая кожа, волосы волнистые
E) Узкий разрез глаз, светлая кожа

8. Главная цель создания заповедников:
A) Сохранение эталонов природных ландшафтов
B) Культурная
C) Туристическая
D) Хозяйственное использование природных объектов
E) Лечебная

9. В Казахстане наибольшее развитие из видов транспорта получили:
A) Железнодорожный и автомобильный
B) Автомобильный и морской
C) Речной и автомобильный
D) Трубопроводный и железнодорожный
E) Морской и речной

10. Урбанизация — это:
A) Рост городского населения
B) Естественный прирост населения
C) Рост сельского населения
D) Население крупного города
E) Миграция населения

11. Оазисы характерны для:
A) Пустыни
B) Лесостепи
C) Тайги
D) Саванны
E) Степи

12. Самые длинные горы на земле:
A) Анды
B) Гималаи
C) Тибет
D) Альпы
E) Кавказ

13. Топливная промышленность включает в свой состав добычу:
A) Угля, нефти и газа
B) Торфа, горючих сланцев, бокситов
C) Нефти, фосфоритов, угля
D) Соли, нефти, угля
E) Угля, железной руды, газа

14. Государство — лидер по производству товаров народного потребления и сбору риса:
A) Китай
B) Пакистан
C) Япония
D) Турция
E) Индия

15. В регионе Персидского залива по добыче и запасам нефти лидирует:
A) Саудовская Аравия

B) Катар
C) ОАЭ
D) Оман
E) Иран

16. Назовите особенность Южного Казахстана:
A) Самый многонаселенный район Казахстана
B) Основной район угольной промышленности
C) Важнейший в республике район производства дешевой гидроэлектроэнергии
D) Самый большой район Казахстана
E) Основной нефтеносный район

17. Ученый, исследовавший Жунгарский Алатау:
A) Ш.Уалиханов
B) И.Г.Герасимов
C) Л.С.Берг
D) К.И.Сатпаев
E) Н.Н.Баранский

18. Город — исторический памятник Узбекистана:
A) Самарканд
B) Фергана
C) Наманган
D) Андижаа
E) Ташкент

19. Знаменитый ученый, доказавший равенство рас:
A) Миклухо-Маклай
B) Семенов
C) Птолемей
D) Магеллан
E) Колумб

20. Основной вид топлива в Казахстане:
A) Уголь
B) Дрова
C) Газ
D) Торф
E) Горючие сланцы

21. Крупнейший ледник в Казахстане:
A) Корженевского
B) Богатырь
C) Федченко
D) Большой Берель
E) Абай

22. Часть географической оболочки, заселенная и измененная живыми организмами:
A) Биосфера
B) Литосфера
C) Гидросфера

D) Часть литосферы и часть гидросферы
E) Часть атмосферы и часть литосферы

23. Получил приставку к своей фамилии за исследование горной страны:
A) П.П.Семенов.
B) Ш.Уалиханов.
C) Н.А.Северцев.
D) П.И.Рычков.
E) И.А.Мушкетов.

24. Узбеки составляют значительный процент населения Казахстана в:
A) Южном регионе.
B) Восточном регионе.
C) Центральном регионе.
D) Западном регионе.
E) Северном регионе.

25. Меридианом называют кратчайшую линию между:
A) Географическими полюсами Земли
B) Магнитными полюсами Земли
C) Экватором и северным полюсом
D) 0° и 180° меридианами
E) Экватором и южным полюсом

26. Важнейшим угольно-металлургическим центром Республики Казахстан является:
A) Центральный Казахстан
B) Восточный Казахстан
C) Западный Казахстан
D) Южный Казахстан
E) Северный Казахстан

27. Все неровности земной поверхности — это:
A) Рельеф
B) Горные породы
C) Нагорья
D) Впадины и горы
E) Плоскогорья и низменности.

28. Новый Южный Уэльс находится в:
A) Австралии
B) Аргентине
C) Бразилии
D) Канаде
E) Великобритании

29. Главная сельскохозяйственная культура Кубы:
A) Сахарный тростник
B) Рис
C) Бананы
D) Кофе
E) Цитрусовые

30. Ритмические явления в географической оболочке — это:
A) Периодичность и повторяемость одних и тех же явлений во времени
B) Взаимосвязь и взаимозависимость компонентов природы
C) История формирования природного комплекса
D) Хозяйственная деятельность человека
E) Изменение всех компонентов природы и природных комплексов от экватора к полюсам

31. Завод по выпуску гигантских прессов-автоматов находился в:
A) Шымкенте
B) Темиртау
C) Караганде
D) Таразе
E) Текели

32. Водная оболочка Земли:
A) Гидросфера
B) Биосфера
C) Атмосфера
D) Литосфера
E) Стратосфера

33. Усть-Каменогорский завод выпускает машины и оборудование для предприятий:
A) Цветной металлургии и электростанций
B) Черной металлургии
C) Нефтяной промышленности
D) Пищевой промышленности
E) Угольной промышленности

34. В районах полупустынь Казахстана значительное развитие получило:
A) Овцеводство
B) Мараловодство
C) Скотоводство
D) Птицеводство
E) Свиноводство

35. Важнейший из угольных бассейнов Казахстана для развития металлургии:
A) Карагандинский
B) Убаганский
c) Майкобенский
D) Кушмурунский
E) Экибастузский

36. Сахарные заводы находятся в районах:
A) Свеклосеяния
B) Хлопкосеяния
C) Садоводства
D) Виноградарства
E) Рисосеяния

37 . Наурзумский заповедник находится в:
A) Костанайской области

B) Северо-Казахстанской области
C) Карагандинской области
D) Акмолинской.области
E) Павлодарской области

38. Сильный ветер на территории Казахстана, дующий с северо-запада на юго-восток:
A) Сайкан
B) Муссон
C) Арыстанды-карабас
D) Пассат
E) Эбинский

39. Укажите страну, которой принадлежит корпорация «Хонда»:
A) Япония
B) Сингапур
C) Китай
D) Вьетнам
E) Лаос

40. Область распространения видов животных:
A) Ареал
B) Материк
C) Район
D) Заповедник
E) Регион

41. Океан называют «накопителем тепла» потому что:
A) Вода нагревается и остывает медленнее, чем суша
B) Вода нагревается быстрее, а остывает медленнее, чем суша
C) Вода нагревается и остывает быстрее, чем суша
D) Вода нагревается равномерно
E) Вода нагревается медленнее, ко остывает быстрее, чем суша

42. Масштаб указывает на:
A) Уменьшение расстояния на плане по сравнению с действительностью
B) Объекты на местности
C) Направления на плане
D) Увеличение расстояния на плане по сравнению с действительностью
E) Вид земной поверхности

43. Самая низкая суточная температура бывает:
A) Перед восходом солнца
B) Через 3 часа после захода солнца
C) Через 2 часа после захода солнца
D) В полночь
E) Через час после захода солнца

44. Основное богатство Западной Сибири:
A) Нефть
B) Хромиты
C) Поваренная соль

D) Апатиты
E) Каменный уголь

45. Эмиграция это:
A) Выезд из страны
B) Въезд в страну
C) Переезд из города в город
D) Переезд из села в город
E) Переезд из города в село

46. Алматинский заповедник находится в горах:
A) Заилийского Алатау
B) Жунгарского Алатау
C) Мангистау
D) Таласского Алатау
E) Мугоджары

47. Австралия была владением:
A) Англии
B) Аргентины
C) Германии
D) Португалии
E) Испании

48. Среди технических культур ведущее место в Южном Казахстане занимает:
A) Хлопчатник
B) Соя
C) Картофель
D) Подсолнечник
E) Лён

49. Алюминиевый завод в Северном Казахстане расположен в городе:
A) Павлодар
B) Костанай
C) Астана
D) Экибастуз
E) Петропавловск

50. Природная зона — среда проживания пигмеев:
A) Экваториальный лес
B) Широколиственный лес
C) Смешанный лес
D) Саванна
E) Тайга

51. Климат Туранской равнины характеризуется как:
A) Резко-континентальный
B) Субтропический
C) Тропический
D) Континентальный
E) Умеренно-континентальный

52. Великая Сибирская магистраль проходит в Республику Казахстан через:
A) Петропавловск
B) Астану
C) Костанай
D) Кокшетау
E) Павлодар

53. Гигантский хребет, почти посередине вытянулся с севера на юг в океане:
A) Атлантическом
B) Тихом
C) Южном
D) Индийском
E) Северном Ледовитом

54. Древнее население Южной Мексики:
A) Ацтеки и майя
B) Майя и эскимосы
C) Индейцы и алеуты
D) Эскимосы и индейцы
E) Инки и алеуты

55. Состояние тропосферы в данном месте и в данный момент называют:
A) Погодой
B) Фенологией
C) Климатом
D) Облачностью
E) Прогнозом

56. Наука о происхождении народов:
A) Этнология
B) Социология
C) Демография
D) Парапсихология
E) Психология

57. Самая соленая вода Мирового океана в:
A) Красном море
B) Средиземном море
C) Балтийском море
D) Черном море
E) Желтом море

58. К эндогенным процессам относятся:
A) Землетрясения
B) Сели
C) Наводнения
D) Бури
E) Засухи

59. Высочайшая точка Евразии:
A) Джомолунгма
B) Пик Коммунизма

C) Эльбрус
D) Пик Победы
E) Хан-Тенгри

60. Река, на берегу которой расположена столица Казахстана:
A) Ишим
B) Нура
C) Урал
D) Или
E) Иртыш

61. Самый крупный город Китая:
A) Шанхай
B) Таншань
C) Харбин
D) Ухань
E) Пекин

62. Родственница жирафа:
A) Окапи
B) Фламинго
C) Кенгуру
D) Зебра
E) Антилопа

63. Курортная зона «Боровое» находится в:
A) Акмолинской области
B) Восточно-Казахстанской области
C) Северо-Казахстанской области
D) Алматинской области
E) Костанайской области

64. Главный угольный штат США:
A) Аляска.
B) Кентукки.
C) Индиана.
D) Мериленд.
E) Огайо.

65. Отрасль, в которой в основном используется женский труд:
A) Текстильная промышленность
B) Производство оборудования
C) Цветная металлургия
D) Черная металлургия
E) Нефтяная промышленность

66. Железные руды являются основным сырьем для развития:
A) Черной металлургии
B) Лесной промышленности
C) Топливной промышленности
D) Химической промышленности
E) Приборостроения

67. Главной отраслью земледелия в Казахстане являются:
A) Зерновые
B) Овощи, бахчевые и картофель
C) Многолетние насаждения
D) Технические культуры
E) Кормовые

68. Количество жителей, проживающих на 1 км^2 называется:
A) Плотностью
B) Этносом
C) Нацией
D) Народом
E) Племенем

69. Фактором роста городского населения явилось:
A) Развитие промышленности
B) Развитие сельского хозяйства
C) Развитие культуры
D) Развитие транспорта
E) Развитие связи

70. Капчагайское водохранилище находится на реке:
A) Или
B) Ишим
C) Сырдарья
D) Иртыш
E) Урал

71. Скорость ветра и характер почвенного покрова способствуют образованию:
A) Пыльной бури
B) Джута
C) Заморозков
D) Засухи
E) Суховея

72. Последним был открыт материк:
A) Антарктида
B) Африка
C) Австралия
D) Южная Америка
E) Северная Америка

73. Метеорология — это наука о:
A) Погоде
B) Реках
C) Озёрах
D) Рельефе
E) Ледниках

74. Крупнейшее государство Южной Америки:
A) Бразилия

B) Аргентина
C) Боливия
D) Чили
E) Венесуэла

75. Наиболее важная и специфическая отрасль Австралийского животноводства:
A) Овцеводство
B) Коневодство
C) Скотоводство
D) Свиноводство
E) Птицеводство

76. АЭС республики расположена близ города:
A) Актау
B) Алматы
C) Уральска
D) Атырау
E) Актобе

77. Дерево пустынь:
A) Саксаул
B) Ковыль
C) Типчак
D) Чий
E) Житняк

78. Самый многочисленный народ Евразии:
A) Китайцы
B) Японцы
C) Немцы
D) Русские
E) Турки

79. Ресурсы, используемые для отдыха, туризма, лечения.
A) Рекреационные
B) Культурные
C) Природные
D) Археологические
E) Исторические

80. Русские, украинцы, белорусы относятся к:
A) Европеоидной расе
B) Смешанной расе
C) Монголоидной расе
D) Австралонезийской семье
E) Экваториальной расе

81. Повышение плодородия почвы и улучшение земель:
A) Мелиорация
B) Денудация
C) Эрозия

D) Популяция
E) Деградация

82. Причины неравномерного размещения населения в Казахстане:
A) Природные условия и социально-экономические факторы
B) Почвы и климат
C) Природные зоны и рельеф
D) Климат и природные зоны
E) Рельеф и климат

83. На склонах Таласского Алатау расположен заповедник:
A) Аксу-Джабаглинский
B) Маркакольский
C) Устюртский
D) Кургальджинский
E) Наурзумский

84. Колебания земной коры регистрирует прибор:
A) Сейсмограф
B) Гигрометр
C) Анемометр
D) Тонометр
E) Барометр

85. Старейшая казахстанская железная дорога:
A) Оренбург — Ташкент
B) Карталы — Павлодар
C) Семипалатинск — Алматы
D) Петропавловск-Чу
E) Петропавловск-Омск

86. Механическое перемещение населения — это:
A) Миграция
B) Транспортные расходы
C) Воспроизводство
D) Бюджет
E) Естественный прирост

87. Иммиграция — это:
A) Въезд в страну
B) Переезд из города в село
C) Выезд из страны
D) Переезд из села в город
E) Переезд из города в город

88. Страна, лидирующая по производству бытовой радиоэлектроники и роботов:
A) Япония
B) Китай
C) Франция
D) США
E) Германия

89. Сверхбедные страны на материке Африка:
A) Мали, Чад, Уганда
B) Буркина-Фасо, Египет, ЮАР
C) Уганда, Индия, Индонезия
D) Судан, Алжир, Эфиопия
E) Бурунди, Мозамбик, Израиль

90. Страна Латинской Америки:
A) Аргентина
B) Канада
C) Ирак
D) Турция
E) Китай

91. Самые высокие показатели индекса человеческого развития имеют:
A) США, Канада, Япония
B) Швейцария, Австрия, Польша
C) Сомали, ЮАР, Нигер
D) Швеция, Чехия, Великобритания
E) Франция, Италия, Греция

92. Художественное стекло и бижутерию поставляет на мировой рынок:
A) Чехия
B) Румыния
C) Польша
D) Словакия
E) Болгария

93. Курорт «Бурабай» (Боровое) расположен в горах:
A) Кокшетау
B) Каркаралы
C) Баянаул
D) Мугоджары
E) Мангистау

94. Нулевой меридиан проходит через город:
A) Лондон
B) Мадрид
C) Париж
D) Берлин
E) Рим

95. Самое высокогорное озеро в мире:
A) Титикака
B) Большое Солёное
C) Ньяса
D) Атабаска
E) Маракайбо

96. Типичные представители животного мира пустыни:
A) Ящерицы, черепахи, паукообразные
B) Зайцы-песчаники, лисицы, белки

C) Барсуки, горностаи
D) Лоси, ласки
E) Суслики, полевые мыши, лисы

97. Гора, с углублением на вершине, через которое происходит извержение:
A) Вулкан
B) Горст
C) Плато
D)Пик
E) Кратер

98. Самый большой из океанов:
A) Тихий
B) Южный
C) Северный ледовитый
D) Индийский
E) Атлантический

99. Циклический учет численности населения Земли:
A) Перепись населения
B) Иммиграция
C) Демографическая политика
D) Демография
E) Беседа

100. Страна - главный производитель и экспортер автомобилей, морских судов, телевизоров:
A) Япония
B) Индия
C) Турция
D) Израиль
E) Республика Корея

101. Какой метод географических исследований основан на наблюдении и измерении природных явлений?
A) Эмпирический метод
B) Теоретический метод
C) Математический метод
D) Логический метод
E) Исторический метод

102. Кто считается "отцом географии"?
A) Эратосфен
B) Аристотель
C) Птолемей
D) Геродот
E) Страбон

103. Какой океан является самым глубоким на планете?
A) Тихий океан
B) Атлантический океан
C) Индийский океан

D) Северный Ледовитый океан
E) Южный океан

104. Как называется самая высокая точка на Земле?
A) Эверест
B) Килиманджаро
C) Мак-Кинли
D) Эльбрус
E) Монблан

105. Какая река является самой длинной в Казахстане?
A) Иртыш
B) Урал
C) Сырдарья
D) Или
E) Тобол

106. Какой город является столицей Казахстана?
A) Астана
B) Алматы
C) Шымкент
D) Караганда
E) Павлодар

107. Какая отрасль промышленности наиболее развита в Казахстане?
A) Горнодобывающая промышленность
B) Легкая промышленность
C) Химическая промышленность
D) Машиностроение
E) Пищевая промышленность

108. Какой регион Казахстана известен своими запасами нефти?
A) Атырауская область
B) Восточно-Казахстанская область
C) Южно-Казахстанская область
D) Северо-Казахстанская область
E) Жамбылская область

109. Какой термин обозначает устойчивое развитие, учитывающее экологические, экономические и социальные аспекты?
A) Устойчивое развитие
B) Индустриализация
C) Урбанизация
D) Глобализация
E) Модернизация

110. Какой из перечисленных факторов способствует глобальному потеплению?
A) Выбросы парниковых газов
B) Озеленение территорий
C) Использование возобновляемых источников энергии
D) Снижение промышленного производства
E) Развитие экологического туризма

111. Какая страна является крупнейшей по территории?
A) Россия
B) Канада
C) Китай
D) США
E) Бразилия

112. Какой материк полностью находится в Южном полушарии?
A) Австралия
B) Африка
C) Южная Америка
D) Антарктида
E) Евразия

113. Самое большое озеро в мире по площади:
A) Каспийское море
B) Верхнее
C) Виктория
D) Байкал
E) Гурон

114. Самая высокая плотность населения наблюдается в:
A) Монако
B) Казахстан
C) Канада
D) Австралия
E) Монголия

115. Крупнейший по объему пресной воды водоем:
A) Байкал
B) Танганьика
C) Виктория
D) Аральское
E) Гурон

116. Самая длинная река мира:
A) Нил
B) Амазонка
C) Янцзы
D) Миссисипи
E) Лена

117. Какой океан самый маленький по площади?
A) Северный Ледовитый
B) Индийский
C) Южный
D) Атлантический
E) Тихий

118. Самый высокий вулкан в мире:
A) Охос-дель-Саладо
B) Этна

C) Килиманджаро
D) Фудзияма
E) Эребус

119. Самая высокая гора в Казахстане:
A) Хан-Тенгри
B) Бесбастау
C) Айгыржик
D) Талгар
E) Широкий

120. Страна с наибольшим населением в мире:
A) Индия
B) Китай
C) США
D) Индонезия
E) Пакистан

121. Самая длинная река Казахстана:
A) Иртыш
B) Сырдарья
C) Или
D) Урал
E) Тобол

122. Самая высокая точка в Казахстане:
A) Хан-Тенгри
B) Белуха
C) Талгар
D) Айгыржик
E) Каратау

123. Река, впадающая в Аральское море:
A) Сырдарья
B) Или
C) Ертис
D) Тобол
E) Чу

124. Климат Казахстана в основном:
A) Континентальный
B) Субтропический
C) Морской
D) Тропический
E) Арктический

125. Главная причина высыхания Аральского моря:
A) Орошение хлопка
B) Навигация
C) Рыбная ловля
D) Туризм
E) Промышленность

126. Самая большая пустыня в Казахстане:
A) Бетпак-Дала
B) Кызылкум
C) Мойынкум
D) Каракумы
E) Туранская

127. Какой город является портом на Каспийском море?
A) Актау
B) Атырау
C) Уральск
D) Кызылорда
E) Талдыкорган

128. Природная зона северного Казахстана:
A) Степь
B) Пустыня
C) Лес
D) Тундра
E) Полупустыня

129. Самая крупная система орошаемого земледелия в Казахстане:
A) Юг Казахстана (Шымкент, Туркестан)
B) Север
C) Восток
D) Запад
E) Центр

130. Какая река течёт через Алматы?
A) Малая Алматинка
B) Или
C) Ертис
D) Сырдарья
E) Тобол

131. Самая крупная озерная система Казахстана:
A) Балхаш-Алакольская
B) Арал
C) Зайсан
D) Тенгиз
E) Маркаколь

132. Полезное ископаемое в Карагандинской области:
A) Каменный уголь
B) Нефть
C) Золото
D) Уран
E) Газ

133. Главный источник электроэнергии в Казахстане:
A) ТЭС

B) ГЭС
C) АЭС
D) Солнечные станции
E) Ветропарки

134. В какой области Казахстана больше всего нефти?
A) Атырауская
B) Жамбылская
C) Туркестанская
D) Костанайская
E) Павлодарская

135. Основной экспорт Казахстана:
A) Сырьевые ресурсы (нефть, металлы)
B) Одежда
C) Электроника
D) Продукты
E) Дерево

136. Самый большой мегаполис мира:
A) Токио
B) Нью-Йорк
C) Шанхай
D) Дели
E) Джакарта

137. Основная причина загрязнения атмосферы:
A) Промышленные выбросы
B) Вулканы
C) Сельское хозяйство
D) Туризм
E) Рыбная ловля

138. Как называется зона, где чаще всего происходят землетрясения и вулканы?
A) Огненное кольцо
B) Северная зона
C) Пояс мира
D) Восточная дуга
E) Атлантический шов

139. Вид миграции внутри одной страны:
A) Внутренняя
B) Международная
C) Обратная
D) Этническая
E) Сезонная

140. Какой вид энергии считается возобновляемым?
A) Солнечная
B) Нефтяная
C) Угольная

D) Атомная
E) Газовая

141. На каком материке расположен экватор наибольшую часть пути?
A) Африка
B) Южная Америка
C) Азия
D) Австралия
E) Европа

142. Какая страна имеет наибольшее количество соседей по границе?
A) Китай
B) Россия
C) Бразилия
D) Индия
E) Германия

143. Крупнейший в мире полуостров:
A) Аравийский
B) Индостан
C) Скандинавский
D) Индокитай
E) Камчатка

144. Какой остров самый большой по площади?
A) Гренландия
B) Новая Гвинея
C) Калимантан
D) Мадагаскар
E) Суматра

145. Самая глубокая впадина на Земле:
A) Марианская впадина
B) Байкал
C) Перуанская
D) Курило-Камчатская
E) Зондская

146. Самая холодная точка на Земле:
A) Восток (Антарктида)
B) Якутск
C) Норильск
D) Барроу
E) Магадан

147. Главный газ, вызывающий парниковый эффект:
A) Углекислый газ
B) Азот
C) Кислород
D) Аргон
E) Гелий

148. Какой океан омывает восточное побережье Казахстана?
A) Ни один
B) Тихий
C) Индийский
D) Атлантический
E) Северный Ледовитый

149. Основной тип почвы в степной зоне Казахстана:
A) Чернозем
B) Подзолистая
C) Солончак
D) Песчаная
E) Глинистая

150. Какой город был столицей Казахстана до Астаны?
A) Алматы
B) Караганда
C) Шымкент
D) Кокшетау
E) Тараз

151. Какой природный ресурс НЕ относится к возобновляемым?
A) Уголь
B) Вода
C) Ветер
D) Биомасса
E) Солнце

152. Самый высокий водопад в мире:
A) Анхель
B) Виктория
C) Игуасу
D) Ниагара
E) Тугела

153. Самая населённая страна Европы:
A) Германия
B) Франция
C) Великобритания
D) Италия
E) Украина

154. Где располагается Великая Китайская стена?
A) Китай
B) Монголия
C) Индия
D) Япония
E) Южная Корея

155. В какой части Казахстана находится плато Устюрт?
A) Запад
B) Восток

C) Юг
D) Север
E) Центр

156. Самый высокий уровень урбанизации в Казахстане:
A) Нур-Султан (Астана)
B) Костанай
C) Кызылорда
D) Тараз
Ед) Семей

157. Страна с наибольшей долей сельского населения:
A) Непал
B) Германия
C) Япония
D) США
E) Австралия

158. Как называется процесс прироста численности населения?
A) Естественный прирост
B) Механический прирост
C) Урбанизация
D) Миграция
E) Перепись

159. Как называется граница между Европой и Азией?
A) Уральские горы
B) Пиренеи
C) Альпы
D) Карпаты
E) Кавказ

160. Самая крупная горная система мира:
A) Гималаи
B) Анды
C) Альпы
D) Кавказ
E) Кордильеры

161. Главная проблема Аральского моря:
A) Исчезновение воды
B) Рыбный промысел
C) Загрязнение
D) Туризм
E) Охота

162. В какой природной зоне находится озеро Балхаш?
A) Полупустыня
B) Лес
C) Тундра
D) Пустыня
E) Степь

163. В каком поясе находится Казахстан?
A) Умеренном
B) Тропическом
C) Арктическом
D) Субэкваториальном
E) Экваториальном

164. Что обозначает термин «трансграничная река»?
A) Протекает через несколько стран
B) Имеет плотины
C) Служит границей
D) Искусственная
E) Сухая

165. Крупнейшая угольная шахта Казахстана:
A) Богатырь
B) Сарыарка
C) Майкубен
D) Жезказган
E) Лисаковск

166. В какой части Казахстана больше всего пастбищ?
A) Юг
B) Восток
C) Север
D) Центр
E) Запад

167. Основная транспортная сеть в Казахстане:
A) Железные дороги
B) Водный транспорт
C) Метро
D) Авиация
E) Велодорожки

168. Самое крупное месторождение нефти в Казахстане:
A) Кашаган
B) Карачаганак
C) Жетыбай
D) Кенкияк
E) Прорва

169. Сколько стран входит в ООН (на 2024 год)?
A) 193
B) 198
C) 200
D) 190
E) 182

170. Что такое ВВП?
A) Валовой внутренний продукт

B) Валовая внешняя прибыль
C) Внутренний валютный потенциал
D) Выход валютных поступлений
E) Всеобщее валютное положение

171. Солнце — это:
A) Звезда
B) Планета
C) Комета
D) Астероид
E) Спутник

172. Планета, самая близкая к Солнцу:
A) Меркурий
B) Венера
C) Земля
D) Марс
E) Юпитер

173. Географическая оболочка — это:
A) Оболочка, где взаимодействуют атмосфера, литосфера, гидросфера и биосфера
B) Только атмосфера
C) Только суша
D) Только океаны
E) Только биосфера

174. Как называется схема объектов на карте?
A) Легенда
B) Масштаб
C) Пояснение
D) График
E) Расстояние

175. Какой масштаб обозначает уменьшение в 100 000 раз?
A) 1:100000
B) 1:100
C) 1:1000
D) 1:10
E) 1:10000

176. Крупнейшая страна Южной Америки по площади:
A) Бразилия
B) Аргентина
C) Перу
D) Колумбия
E) Венесуэла

177. Основной экспорт Канады:
A) Лес и ресурсы
B) Автомобили
C) Электроника

D) Текстиль
E) Рыба

178. Самый большой остров Индонезии:
A) Калимантан (Борнео)
B) Ява
C) Суматра
D) Сулавеси
E) Бали

179. Какой океан не омывает Россию?
A) Индийский
B) Тихий
C) Атлантический
D) Северный Ледовитый
E) Все омывают

180. Какой город Казахстана находится ближе всех к Китаю?
A) Жаркент
B) Алматы
C) Талдыкорган
D) Аягоз
E) Семей

181. Как называется наука, изучающая население?
A) Демография
B) Геология
C) Метеорология
D) Геодезия
E) Политология

182. Самая густонаселённая страна в мире:
A) Бангладеш
B) Индия
C) Китай
D) Япония
E) Пакистан

183. Какая река самая длинная в Казахстане?
A) Ертис (Иртыш)
B) Сырдарья
C) Или
D) Урал
E) Чу

184. Какой регион Казахстана знаменит своими яблоневыми садами?
A) Алматинская область
B) Жамбылская
C) Туркестанская
D) Актюбинская
E) Северо-Казахстанская

185. Основной источник энергии в Казахстане:
A) Уголь
B) Газ
C) Нефть
D) Гидроэнергия
E) Атом

186. Какой регион Казахстана граничит с Узбекистаном и Туркменистаном?
A) Мангистауская область
B) Атырауская
C) Кызылординская
D) Туркестанская
E) Алматинская

187. Какая страна граничит с Казахстаном на востоке?
A) Китай
B) Россия
C) Кыргызстан
D) Туркменистан
E) Узбекистан

188. Что такое субэкваториальный климат?
A) Смена влажного и сухого сезонов
B) Круглогодичная жара
C) Постоянный холод
D) Преобладание осадков
E) Морозная зима

189. Какой из видов природных ресурсов НЕ исчерпаемый?
A) Солнечная энергия
B) Уголь
C) Нефть
D) Железо
E) Газ

190. Какая страна занимает весь материк?
A) Австралия
B) Индия
C) Канада
D) Бразилия
E) Россия

191. Какое государство считается островным?
A) Япония
B) Германия
C) Франция
D) Китай
E) Казахстан

192. В какой стране расположен Эверест?
A) Непал
B) Индия

C) Пакистан
D) Китай
E) Бутан

193. Что является основной причиной движения воздушных масс?
A) Разность давления
B) Смена климата
C) Географическая широта
D) Влажность
E) Облачность

194. Как называется основная карта в географии?
A) Физическая
B) Политическая
C) Историческая
D) Тематическая
E) Контурная

195. Какой элемент НЕ входит в географическую оболочку?
A) Мантия Земли
B) Литосфера
C) Биосфера
D) Гидросфера
E) Атмосфера

196. Самое крупное месторождение меди в Казахстане:
A) Жезказган
B) Балкаш
C) Риддер
D) Актогай
E) Коныpат

197. Какой международный день посвящён окружающей среде?
A) 5 июня
B) 22 марта
Св) 15 апреля
D) 10 октября
E) 25 сентября

198. Какое озеро в Казахстане частично солёное, частично пресное?
A) Балхаш
B) Зайсан
C) Алаколь
D) Сасыкколь
E) Маркаколь

199. Где в Казахстане находится плато Бетпакдала?
A) Центральная часть
B) Южная часть
C) Восток
D) Север
E) Запад

200. Какой тип климата преобладает в Казахстане?
A) Континентальный
B) Тропический
C) Умеренно-морской
D) Субэкваториальный
E) Экваториальный

Приложение 2

Примерный перечень тестовых вопросов по Блоку «Иностранный язык»

1. Choose the correct words.

1.She sang more _____than ever.
A) Beautifully
B) Beautiful

2.People who work _____ are the _____.
A) The hardest, the most successful
B) Less hard, successfully
C) Less hard, the most successful
D) The hardest, successfully

3.The children played _____ while their parents were chatting _____.
A) Noisily, happily
B) Noisy, happy
C) Noisy happily
D) Noisily, happy

4.I'm _____ now.
A) Less optimistic
B) Optimistically

5.He did _____ in the exam. He got the _____.
A) Well, best results
B) Well, the better
C) Good, the best results
D) Good, the better

6.The police officer _____the driver to get out of his car.

A) Ordered
B) Refused

7.He _____that he had taken the wallet.
A) Admitted
B) Complained

8.I _____her to join us for a coffee.
A) Invited
B) Ordered

9.He _____me that he wasn't lying.
A) Convinced
B) Insisted

10.They _____ to help me, so I did it myself.

A) Refused
B) Agreed

11.I don't like the actor in that film. He's really_____.
A) Annoying.
B) Annoy

12.I fell over in class. It was so_____ .
A) Embarrassing.
B) Embarrassed

SCORE: 12

2. Complete the sentences with correct tense of the words.

1. My grandfather_____stamps when he was young. He sold them for a lot of money a few years ago.
A) Collected
B) Collects
C) Was collecting
D) Is collecting

2.I really like____short stories. I tell them to my younger brother and sister.
A) Writing
B) Wrote
C) Is writing
D) Writes

3.My friends and I often_____music. We all play instruments and write songs.
A) Make
B) Is making
C) Makes
D) Made

4.When we're on a long journey, my sister and I usually___puzzles.
A) Do
B) Does
C) Did
D) Were doing

5.That dress is really unusual. Did you__it yourself?
A) Make
B) Made

C) Makes
D) Is making

6.I'd like to learn how to_____woodwork. I think it must be great to be creative.
A) Do
B) Does
C) Did
D) Is doing

7. If I_____your jacket, I_____ you. (find / ring)
A) Find, will ring
B) Will find, will ring
C) Will find, ring

8._____You _____with me if I _____the tickets? (come / buy)
A) Will, come, buy
B) Do, come, will buy
C) Will, come, will buy

9.I_____to the party unless you_____ to go. (not go / decide)
A) Will not go, decide
B) Will not go, will decide
C) Do not go, will decide

10.I_____this cd unless it_____ in the sale. (not buy / be)
A) Will not buy, is
B) Will not buy, will be
C) Do not buy, will be

11.If she____the election, she_____ the environmental laws. (win / change)
A) Wins, will change
B) Will win, will change
C) Will win, changes

12.The minister_____ to you unless you_____her your email address. (not reply / send)

A) Will not reply, send
B) Does not reply, will send
C) Will not reply, will send

SCORE: 12

3.Read the interview summary. Match paragraphs a–e with interview questions 1–5.

1.What are your special memories?

A) His special memories were of lazy evenings outdoors with his friends during the long hot summer of ’76.it was so dry that there wasn’t enough water and some houses had their supply cut off!
B) Steve was into bands like led zeppelin, queen and Pink Floyd. He remembers that the Beatles were breaking up then. There weren’t any Cds in those days. People played vinyl records on big record players.
C) Steve and his friends used to ride bikes and spend time at each other’s homes. There were no video games, so he used to read a lot of books!
D) Fashion was fun and very colorful. Trousers with wide bottoms were trendy and skirts were all different lengths. It was fashionable for both girls and guys to have long hair.
E) there was a lot less technology in those days. People didn’t have mobile phones and they didn’t text. They didn’t have the internet either, so when he wanted to research something for school, he had to go to the library!

2.What was different in the seventies?

A) There was a lot less technology in those days. People didn’t have mobile phones and they didn’t text. They didn’t have the internet either, so when he wanted to research something for school, he had to go to the library!
B) Steve was into bands like led zeppelin, queen and Pink Floyd. He remembers that the beatles were breaking up then. There weren’t any Cds in those days. People played vinyl records on big record players.
C) Steve and his friends used to ride bikes and spend time at each other’s homes. There were no video games, so he used to read a lot of books!
D) Fashion was fun and very colorful. Trousers with wide bottoms were trendy and skirts were all different lengths. It was fashionable for both girls and guys to have long hair.
E) his special memories were of lazy evenings outdoors with his friends during the long hot summer of ’76. It was so dry that there wasn’t enough water and some houses had their supply cut off!

3.What did teenagers wear then?

A) Fashion was fun and very colorful. Trousers with wide bottoms were trendy and skirts were all different lengths. It was fashionable for both girls and guys to have long hair.
B) Steve was into bands like led zeppelin, queen and Pink Floyd. He remembers that the Beatles were breaking up then. There weren’t any CDS in those days. People played vinyl records on big record players.
C) Steve and his friends used to ride bikes and spend time at each other’s homes. There were no video games, so he used to read a lot of books!
D) There was a lot less technology in those days. People didn’t have mobile phones and they didn’t text. They didn’t have the internet either, so when he wanted to research something for school, he had to go to the library!
E) His special memories were of lazy evenings outdoors with his friends during the long hot summer of ’76. It was so dry that there wasn’t enough water and some houses had their supply cut off!

4.What music did you like?

A) Steve was into bands like led zeppelin, queen and Pink Floyd. He remembers that the Beatles were breaking up then. There weren't any CDS in those days. People played vinyl records on big record players.
B) There was a lot less technology in those days. People didn't have mobile phones and they didn't text. They didn't have the internet either, so when he wanted to research something for school, he had to go to the library!
C) Steve and his friends used to ride bikes and spend time at each other's homes. There were no video games, so he used to read a lot of books!
D) Fashion was fun and very colorful. Trousers with wide bottoms were trendy and skirts were all different lengths. It was fashionable for both girls and guys to have long hair.
E) His special memories were of lazy evenings outdoors with his friends during the long hot summer of '76. It was so dry that there wasn't enough water and some houses had their supply cut off!

5.What did you do in your free time?

A) Steve and his friends used to ride bikes and spend time at each other's homes. There were no video games, so he used to read a lot of books!
B) Steve was into bands like led zeppelin, queen and Pink Floyd. He remembers that the Beatles were breaking up then. There weren't any CDS in those days. People played vinyl records on big record players.
C) There was a lot less technology in those days. People didn't have mobile phones and they didn't text. They didn't have the internet either, so when he wanted to research something for school, he had to go to the library!
D) Fashion was fun and very colorful. Trousers with wide bottoms were trendy and skirts were all different lengths. It was fashionable for both girls and guys to have long hair.
E) His special memories were of lazy evenings outdoors with his friends during the long hot summer of '76. It was so dry that there wasn't enough water and some houses had their supply cut off!

SCORE: 5

4. Complete the dialogue with the correct words.

1. Lucy: is something _____, Phil? You look upset.
A) Wrong

B) So

C) Were

D) Let

E) Wish

F) Not

2.Phil: it's my science project. I _____ my little brother use my computer and he deleted the file.
A) Let
B) So
C) Were
D) Wrong
E) Wish
F) Not

3.Lucy: you mean Adam deleted your science project?
Phil: I'm afraid _____ . I _____ I hadn't let him use the computer.

a) So, wish
B) So wrong
C) Not, were
D) Let, wish
E) So wish
F) Not, wrong

4.Lucy: didn't you make a copy?
Phil: I'm afraid ____. I've told Mr. Butler. I've got until next Monday to redo it.

A) Not
B) So
C) Were
D) Let
E) Wish
F) Wrong

5.Lucy: If I ____ you, I'd make Adam do it!

A) Were
B) So
C) Wrong
D) Let
E) Wish
F) Not

SCORE: 5

5. Read the webpage. Match headings 1–4 with sections a–d.

1-Learning and skills

A) The organization trains volunteers, community groups and other organizations, delivering a wide range of opportunities to learn and develop skills through non-accredited and accredited training courses. There is a range of programmes that offer people a chance to learn more about their natural environment and take part in scientific research and surveying.

B) The organization delivers practical volunteering programmes, providing people with everything they need to play an active role in creating, protecting and improving green spaces. Volunteers work on a wide range of wildlife habitats including woodlands, hedgerows, grassland, waterways and wetlands.

C) The organization brings residents and experts together and provides the practical expertise, resources and training they need to take part in a wide range of activities and projects. They take a local approach, working with people and communities to co-design solutions that meet local needs.
D) A wide range of outdoor activities provide opportunities to improve physical and mental health through physical activity and social interaction. Volunteers are led through a warm-up in preparation for a range of light to vigorous activities to suit all abilities, and a cool-down before heading off for the rest of their day.

2- Environment

A) The organization delivers practical volunteering programmes, providing people with everything they need to play an active role in creating, protecting and improving green spaces. Volunteers work on a wide range of wildlife habitats including woodlands, hedgerows, grassland, waterways and wetlands.
B) A wide range of outdoor activities provide opportunities to improve physical and mental health through physical activity and social interaction. Volunteers are led through a warm-up in preparation for a range of light to vigorous activities to suit all abilities, and a cool-down before heading off for the rest of their day.
C) THE organization brings residents and experts together and provides the practical expertise, resources and training they need to take part in a wide range of activities and projects. They take a local approach, working with people and communities to co-design solutions that meet local needs.
D) The organization trains volunteers, community groups and other organizations, delivering a wide range of opportunities to learn and develop skills through non-accredited and accredited training courses. There is a range of programmes that offer people a chance to learn more about their natural environment and take part in scientific research and surveying.

3- Community

A) The organization brings residents and experts together and provides the practical expertise, resources and training they need to take part in a wide range of activities and projects. They take a local approach, working with people and communities to co-design solutions that meet local needs.
B) A wide range of outdoor activities provide opportunities to improve physical and mental health through physical activity and social interaction. Volunteers are led through a warm-up in preparation for a range of light to vigorous activities to suit all abilities, and a cool-down before heading off for the rest of their day.
C) The organization delivers practical volunteering programmes, providing people with everything they need to play an active role in creating, protecting and improving green spaces. Volunteers work on a wide range of wildlife habitats including woodlands, hedgerows, grassland, waterways and wetlands.
D) The organization trains volunteers, community groups and other organizations, delivering a wide range of opportunities to learn and develop skills through non-accredited and accredited training courses. There is a range of programmes that offer people a chance to learn more about their natural environment and take part in scientific research and surveying.

4 Health and well-being

A) A wide range of outdoor activities provide opportunities to improve physical and mental health through physical activity and social interaction. Volunteers are led through a warm-up in

preparation for a range of light to vigorous activities to suit all abilities, and a cool-down before heading off for the rest of their day.

B) The organization delivers practical volunteering programmes, providing people with everything they need to play an active role in creating, protecting and improving green spaces. Volunteers work on a wide range of wildlife habitats including woodlands, hedgerows, grassland, waterways and wetlands.

C) The organization brings residents and experts together and provides the practical expertise, resources and training they need to take part in a wide range of activities and projects. They take a local approach, working with people and communities to co-design solutions that meet local needs.

D) The organization trains volunteers, community groups and other organizations, delivering a wide range of opportunities to learn and develop skills through non-accredited and accredited training courses. There is a range of programmes that offer people a chance to learn more about their natural environment and take part in scientific research and surveying.

SCORE: 4

6. Complete the sentences with the verbs.

1.Why did you_____your promise?

A) Break
B) Hurt
C) Make
D) Feel
E) Keep
F) Pretend
J) Tell
K) Do

2.She really_____my feelings.
A) Hurt
B) Tell
C) Make
D) Feel
E) Keep
F) Pretend
J) Break
K) Do

3.You should always_____the truth.
A) Tell
B) Hurt
C) Make
D) Feel
E) Keep
f) Pretend
J) Break
K) Do

4.You shouldn't_guilty. It wasn't your fault.

A) Feel
B) Hurt
C) Make
D) Tell
E) Keep
F) Pretend
J) Break
K) Do

5.I wish they'd__quiet.
A) Keep
B) Hurt
C) Make
D) Feel
E) Tell
F) Pretend
J) Break
K) Do

6.My mum is very strict – if I_____something wrong, she stops my pocket money.
A) Do
B) Hurt
C) Make
D) Feel
E) Keep
F) Pretend
J) Break
K) Tell

7.Giles doesn't__a good excuse when he forgets his homework.
A) Make
B) Hurt
C) Tell
D) Feel
E) Keep
F) Pretend
J) Break
K) Do

8.Don't_____to be happy if you aren't.
A) Pretend
B) Hurt
C) Make
D) Feel
E) Keep
F) Tell
J) Break
K) Do

SCORE: 8

7.Choose the correct answers

1. It would be great if you could clear the table.
A) OK, I'll do it right away.

B) Why you ask me?

C) I'm not agree.

2.Would you mind not saying anything?

A) OK. I can't keep quiet.

B) No, I would.

C) I'm mind it.

3.I was wondering if you've seen Phil.
A) No, I haven't.

B) Yes, OK.

C)No, I hasn't.

4. I heard you went to a party last night.
A) Who told you that?

B) Honestly, I'm going to the party.

C) Are you going to the party?

5. Could you tell me where the post office is?
A) Yes, it's in West Street.

B) That's OK.

C) Why did you ask?

6. How come you didn't tell me about the party?
A) Because I was only there for an hour.

B) But I heard that you were at a party.

C) Because I 'm going there for an hour.

7.Do you like his hairstyle?
A) No, it doesn't suit him.

B) No, it wouldn't.

C) It looks like it.

8.She's dyed her hair green!

A) I think it looks cool.
B) It really suits you.
C) It doesn't fit her.

9.Those shoes really suit you.

A) I'll take them then.

B) Why do you ask?

C) Yes, it suits her.

10.Can I try this on, please?

A) Yes, sure.

B) I don't agree.

C) That's OK.

11.It isn't too short, is it?

A) No, I don't think so.

B) I'm sure.

C)I don't like it.

12.Those piercings look really cool, don't they?

A) No, they look awful!

B) They aren't fit him.

C) Yes, they are.

SCORE: 12

8. Put the words in order to make sentences and questions.

1. Will / what / be / you / at 6 p.m. / tomorrow / doing / ?
A) What will you be doing tomorrow at 6 p.m.?
B) What you will be doing tomorrow at 6 p.m.?
C) What will be doing you tomorrow at 6 p.m.?

2.to / the author / will / sign / books / be / the / visiting / Friday / bookshop / on
A) Will the author be visiting the bookshop on Friday to sign books?
B) The author will be visiting the bookshop on Friday to sign books?
C) Will be the author visiting the bookshop on Friday to sign books?

3. Leaving / morning / we / early / be / won't / tomorrow /. It's the weekend.
A) We won't be leaving early tomorrow morning. It's the weekend.
B) We be won't leaving early tomorrow morning. It's the weekend.
C) We won't be leaving tomorrow morning early. It's the weekend.

4.you're / where / London / will / staying / you / while / in / be / ?
A) Where will you be staying while you're in London?
B) Where will be you staying while you're in London?

C) Where you will be staying while you're in London?

5.this / house / I / be / grandparents' / staying / won't / at / summer / my
A) I won't be staying at my grandparents' house this summer.
B) I won't be staying this summer at my grandparents' house.
C) I won't be staying at my grandparents' house this summer.

6.will / camping / weekend / we / maybe / go / this

A) Maybe we will go camping this weekend.
B) We will go maybe camping this weekend.
C) We will go camping maybe this weekend.

7.definitely / flights / book / will / I / the

A) I will definitely book the flights.
B) I definitely will book the flights.
C) I will definitely the flights book.

8.will / next / weather / be / perhaps / the / better /week
A) Perhaps the weather will be better next week.
B) The weather will perhaps be better next week.
C) The weather will be better next week Perhaps.

9.Certainly / will / he / match / the / win
A) He will certainly win the match.
B) He will win the match certainly.
C) He will win certainly the match.

10.won't / year / on / probably / holiday / go / I / this

A) I probably won't go on holiday this year.
B) I won't go on holiday this year probably.
C) I won't go probably on holiday this year.

SCORE: 10

9.Complete the dialogue with the correct verb form.

1. Ainur I'm going on a writing course next week.
I've just got the timetable.
Batyr Really? That sounds interesting. Do you know what you _____ every day?
A) Will be doing
B) Will do
C) Do

2.Ainur Not exactly, but I think we _____out ideas for our books on the first day.
A) Will be developing
B) Will develop
C) Develop

3.Batyr Have you got any ideas?
Ainur I have a few. I ____ them while I'm there.
A) Will be sketching
B) Sketching
C) Will sketch

4.Batyr Who is going to teach on the course?
Ainur I think the teachers are all authors.
Batyr So you _____people who know a lot about writing and publishing.
A) Will be meeting
B) Will meet
C) Meet

5.Ainur That's the idea.
Batyr Fantastic. _____you on your experiences or _____ from your imagination.
A) Will be drawing, writing
B) Be drawing, will be writing
C) Draw, write

6.Ainur I _____both. I _____other people's, too, so be careful what you tell me!
A) Will be doing, will be drawing
B) Will be doing, draw
C) Will do, will be drawing

SCORE: 6

10. Read the text.

A Famous Kazakh Writer

Abai Kunanbaiuly is one of Kazakhstan's best- known writers. But he was more than that: he was a poet, translator, composer and philosopher. He was born near Semipalatinsk in the Chingis mountains in 1845, at a time when literature was becoming an important art form across the world. For his secondary education, he went to a religious school where he studied oriental classical literature. He also learned a number of languages including Russian, Arabic and Persian, and read Russian authors such as Tolstoy, Dostoyevsky, Pushkin and Turgenev. However, he left school when his father decided to train him to take over his role leading the local community and to become head of the family. Although he accepted this role to begin with, it didn't interest him, and when he was twenty-eight he decided he wanted to study literature instead.

Abai had a number of talents. He started writing poems when he was only twelve, but at first he did not sign them in his own name. In fact, the first poem he wrote in his own name was *summer*, when he was thirty-one. Like many of his poems, it was about Kazakhstan and its people. Abai also translated a number of poems from some of the great European poets, such as Goethe, Byron and Pushkin, the Russian poet. His translation of Eugene Onegin was one of fifty classic Russian works of literature he translated into Kazakh.

Before Abai, stories were passed on by one person telling others. There were no books of Kazakh stories, but Abai changed that and as a result people often call him the founder of Kazakh literature. However, his most famous work, *the book of words*, is not a fictional story but a book of his philosophical thoughts About Kazakh life, how people should behave and

what makes a wise man or woman. Because of this book, and because of the role he played in the lives of his people, people remember him as a spiritual leader in Kazakhstan.

Are the sentences true or false?

1.Abai Kunanbaiuly studied Russian authors at religious school.
A) True
B) False

2.His father was important in the local town.
A) True
B) False

3.When he was twenty-eight, he changed career.
A) False
B) True

4.He wrote the poem summer when he was twelve.
A) False
B) True

5.He wrote fifty books in Russian.
A) False
B) True

6.He changed how people learned and enjoyed stories in Kazakhstan.
A) True
B) False

SCORE: 6

11. Complete the sentences with who, which, where or whose.

1.I'm not sure _____pen this is.
A) Whose
B) Which
C) Where
D) Who

2.Is that the shop _____ tom works?
A) Where
B) Which
C) Who
D)Whose

3.The police officer, _____ loved animals, returned the lost dog to its owner.
A) Who
B) Which
C) Where
D)Whose

4.Football is a sport _____I find really boring.

A) Which
B) Who
C) Where
D)Whose

5.That's the boy_____ skateboard was stolen.
A) Whose
B) Which
C) Where
D) Who

6.Do you know the guy_____ is singing?
A) Who
B) Which
C) Where
D)Whose

7.I visited Bratislava, _____ I was born.
A) Where
B) Which
C) Who
D)Whose

8. I met a fascinating artist last night, _____intricate paintings were imbued with emotion and depth.
A) Whose
B) Who
C) Which
D) Where

SCORE: 8

12.Choose a, b or c

1.In my opinion, she doesn't have the right _____ to be a vet.
A) Ability
B) Quality
C) Personality

2.Mrs. Porter was so fed ____ with the noise the neighbors were making, she called the police.
A) Up
B) On
C) Off

3.Susan is never late for appointments – she's the most _____ girl I know.
A) Reliable
B) Miserable
C) Ambitious

4.When tom's parents went out for the evening, they let him ____ charge of his younger siblings.
A) In
B) With

C) To

5. I need you to give me a book by next Friday at _____.
A) Last
B) The least
C) The end

6. The film _____ a really beautiful horse called willow.
A) Features
B) Involves
C) Concentrates

7.Our grandson _____ after both his parents he has his father's eyes but his mother's smile.
A) Takes
B) Shows
C) Looks

8. Guess who I _____ the other day!
A) Ran into
B) Showed out
C) Tried out

9.I don't know how to deal _____ the situation. Any ideas?
A) With
B) At
C) By

10. I'm going to work for my dad in the summer to _____ some work experience.
A) Gain
B) Win
C) Achieve

11. _____ me a line sometime. I really want to find out about your new school.
A) Drop
B) Give
C) Send

12. Jack and I are really enthusiastic _____ our trip to Astana.
A) About
B) For
C) With

SCORE: 12

1 Choose the right variant

1. Which sentence is correct?
a) My car is faster than yours.
b) My car is the most faster.
c) My car is fastly than yours.
d) My car is more fast than yours.
e) My car is fast than yours.

2. Choose the correct form:
This book is _____ than that one.
a) better
b) more good
c) gooder
d) best
e) the most good

3. Complete the sentence:
Today is the _____ day of the year.
a) coldest
b) colder
c) most cold
d) the most colder
e) cold

4. Which adjective is in the comparative form?
a) taller
b) tallest
c) tall
d) the tall
e) more tall

5. Choose the correct sentence:
a) She is more beautiful than her sister.
b) She is the more beautiful girl in the class.
c) She is the beautifulest girl in the class.
d) She is beautifuller than her sister.
e) She is most beautiful than her sister.

6. Choose the correct sentence:
a) This exam is more difficult than the last one.
b) This exam is difficulter than the last one.
c) This exam is most difficult than the last one.
d) This exam is difficult than the last one.
e) This exam is the more difficult than the last one.

7. Complete the sentence:
Of all the runners, John was the _____.
a) fastest

b) faster
c) the more fast
d) more faster

8. Choose the correct form of the adjective:
This hotel is _____ than the one we stayed at last year.
a) more comfortable
b) comfortabler
c) most comfortable
d) comfortablest
e) the more comfortable

9. Which word correctly completes the sentence?
I think history is _____ than science.
a) more interesting
b) interestinger
c) the most interesting
d) interestinger
e) most interesting

10. Identify the sentence with correct usage of the superlative form:
a) She is the most intelligent student in the class.
b) She is most intelligent student in the class.
c) She is the intelligentest student in the class.
d) She is the more intelligent student in the class.
e) She is more intelligent student in the class.

SCORE: 10

2. Choose the correct word

1. Where does the adverb of frequency usually go in this sentence?
She _____ goes to the gym.
a) always goes
b) goes always
c) goes to always
d) go always
e) always go

2. Choose the correct sentence:
a) I never go to bed late.
b) I to bed never go late.
c) I go never to bed late.
d) Never I go to bed late.
e) I go to never bed late.

3. Which adverb shows the highest frequency?
a) Always
b) Rarely
c) Never
d) Sometimes
e) Occasionally

4. Complete the sentence:
My parents _____ watch TV after dinner.
a) usually
b) neverly
c) many
d) sometime

5. Which two adverbs of frequency mean "not very often"?
a) Rarely
b) Occasionally
c) Sometimes
d) Never
e) Always
f) Usually
g) Often

6. Choose the two grammatically correct sentences with proper word order:
a) I usually go for a walk in the evening.
b) We often eat dinner at 7.
c) They always are late.
d) He never is at home.
e) She goes usually to the gym.
f) Always she arrives on time.
g) They eat sometimes pizza on Fridays.

7. Which two adverbs show the highest frequency?
a) Always
b) Usually
c) Rarely
d) Occasionally
e) Seldom
f) Sometimes
g) Never

8. Choose the correct sentence:
a) He always goes to school by bike.
b) He goes always to school by bike.
c) Always he goes to school by bike.
d) He go to school always by bike.
e) He goes to always school by bike.

9. Which adverb of frequency means "100% of the time"?
a) Always
b) Never
c) Rarely
d) Sometimes
e) Usually

10. Where does the adverb go in this sentence?
We _____ have dinner at 7 p.m.
a) never
b) neverly

c) nevers
d) don't never
e) didn't never

SCORE: 10

3. Choose the right variant

1. Read the text and answer the question: What do many people in England eat for a light breakfast?

English Meals
In England, people usually eat three main meals a day: breakfast, lunch, and dinner. Traditional English breakfast is quite big and may include eggs, bacon, sausages, baked beans, toast, and tea or coffee. However, many people today prefer a lighter breakfast, such as cereal or just toast.
Lunch is often a quick and simple meal. Many people have sandwiches, salad, or soup. Students and workers usually take lunch around 12 or 1 p.m. Dinner is the main meal of the day and is usually eaten in the evening, between 6 and 8 p.m. It often includes meat or fish, vegetables, and sometimes dessert. Families often eat dinner together at home.

a) Cereal or toast
b) Eggs and sausages
c) Fish and chips
d) Salad
e) Sandwiches

2. Read the text and answer the question: When do people usually eat lunch in England?

English Meals
In England, people usually eat three main meals a day: breakfast, lunch, and dinner. Traditional English breakfast is quite big and may include eggs, bacon, sausages, baked beans, toast, and tea or coffee. However, many people today prefer a lighter breakfast, such as cereal or just toast.
Lunch is often a quick and simple meal. Many people have sandwiches, salad, or soup. Students and workers usually take lunch around 12 or 1 p.m. Dinner is the main meal of the day and is usually eaten in the evening, between 6 and 8 p.m. It often includes meat or fish, vegetables, and sometimes dessert. Families often eat dinner together at home.

a) Around 12 or 1 p.m.
b) At 10 a.m.
c) Between 8 and 9 a.m.
d) At 6 p.m.
e) After dinner

3. Read the text and answer the question: Which meal is usually the biggest and most important?

English Meals
In England, people usually eat three main meals a day: breakfast, lunch, and dinner. Traditional English breakfast is quite big and may include eggs, bacon, sausages, baked beans, toast, and tea or coffee. However, many people today prefer a lighter breakfast, such as cereal or just toast.

Lunch is often a quick and simple meal. Many people have sandwiches, salad, or soup. Students and workers usually take lunch around 12 or 1 p.m. Dinner is the main meal of the day and is usually eaten in the evening, between 6 and 8 p.m. It often includes meat or fish, vegetables, and sometimes dessert. Families often eat dinner together at home.

a) Dinner
b) Lunch
c) Breakfast
d) Afternoon tea
e) Supper

4. What do you call a place where you get on a train?
a) Railway station
b) Garage
c) Bus stop
d) Airport
e) Taxi stand

5. Which vehicle is used for long-distance air travel?
a) Airplane
b) Helicopter
c) Bicycle
d) Subway
e) Scooter

6. ___ is my favorite book.
A) This
B) Those
C) These
D) That
E) Them

7. I don't like ___ shoes over there.
A) Those
B) That
C) These
D) This
E) It

8. ___ apples in the basket are fresh.
A) These
B) That
C) This
D) Those
E) It

9. Can you pass me ___ pen next to you?
A) That
B) This
C) These
D) Those
E) It

10. ___ are my new headphones here on the table.
A) These
B) That
C) This
D) Those
E) Them

SCORE: 10

4. Choose the right variant

1. ___ sugar do you take in your tea?
A) How much
B) How many
C) How long
D) How often
E) How big

2. ___ books do you read every year?
A) How many
B) How much
C) How long
D) How far
E) How often

3. ___ money do you need?
A) How much
B) How many
C) How often
D) How far
E) How old

4. ___ apples are in the basket?
A) How many
B) How much
C) How heavy
D) How often
E) How fast

5. ___ milk do we have left?
A) How much
B) How many
C) How deep
D) How long
E) How far

6. ___ chairs are in the room?
A) How many
B) How much

C) How full
D) How tall
E) How big

7. ___ rice should I cook?
A) How much
B) How many
C) How often
D) How far
E) How high

8. ___ students came to class today?
A) How many
B) How much
C) How big
D) How often
E) How old

9. ___ water is in the bottle?
A) How much
B) How many
C) How soon
D) How full
E) How far

10. ___ pencils do you have in your bag?
A) How many
B) How much
C) How big
D) How little
E) How tall

SCORE: 10

5. Choose the right variant

1. If I won the lottery, I ___ a new house.
A) would buy
B) could buy
C) buy
D) would have bought
E) will buy
F) am buying

2. If she studied more, she ___ better grades.
A) would get
B) could get
C) would have gotten
D) will get
E) gets
F) get

3. If we had more time, we ___ on vacation.

A) would go
B) could go
C) went
D) go
E) will go
F) are going

4. If he were taller, he ___ a basketball player.
A) would be
B) could be
C) was
D) will be
E) is
F) has been

5. If I were you, I ___ that job.
A) would take
B) could take
C) will take
D) would have taken
E) take
F) am taking

6. If I had studied harder, I ___ the exam.
A) would have passed
B) passed
C) would pass
D) pass
E) will pass

7. She ___ if she had left earlier.
A) would have arrived
B) arrived
C) arrives
D) would arrive
E) is arriving

8. If we had known about the traffic, we ___ a different route.
A) would have taken
B) took
C) would take
D) take
E) will take

9. They would have helped you if you ___ them.
A) had asked
B) asked
C) ask
D) will ask
E) would ask

10. If he ___ more careful, he wouldn't have broken the glass.

A) had been
B) was
C) is
D) would be
E) has been

SCORE: 10

6. Choose the correct option:

1. The verb with the similar meaning “to begin”
A) to start
B) to continue
C) to end
D) to stop
E) to break

2. The proverb about knowledge
A) Knowledge is power.
B) All roads lead to Rome.
C) East or West, home is best.
D) Actions speak louder than words.
E) A friend in need is a friend indeed.

3. Complete the sentence with the appropriate verb
They decided … a new book.
A) to write
B) writing
C) write
D) wrote
E) have written

4. The appropriate verb form in the sentence
The letter … yesterday was very important.
A) written
B) writing
C) wrote
D) write
E) to write

5. The right variant of sentence
A) She is too old to drive.
B) She too old to drive is.
C) She is too old driving.
D) She is enough old to drive.
E) She is too driving old.

6. The correct preposition for the phrasal verb.
“They ran … sugar, so they went to the store.”
A) out of
B) away from
C) in for
D) off
E) over

7. The verb with the similar meaning "to finish"
A) to stop
B) to begin
C) to play
D) to work
E) to plan

8. The proverb about hard work
A) No pain, no gain.
B) A journey of a thousand miles begins with a single step.
C) Better late than never.
D) A penny saved is a penny earned.
E) Easy come, easy go.

9. Complete the sentence with the appropriate verb
She promised … me later.
A) to call
B) called
C) calling
D) have called
E) call

10.The appropriate verb form in the sentence
The homework … by the student was excellent.
A) written
B) to write
C) writing
D) wrote
E) write

SCORE: 10

7. Choose the correct option:

1. The right variant of sentence
A) I am too tired to walk.
B) I too tired am to walk.
C) I am tired too to walk.
D) I am too tired walk.
E) Too tired I am to walk.

2. The correct preposition for the phrasal verb
“She takes care … her younger brother.”
A) of
B) on
C) after
D) with
E) to

3. The opposite meaning of the word "happy"
A) sad
B) angry

C) tired
D) proud
E) kind

4. The opposite meaning of the word "fast"
A) slow
B) strong
C) early
D) late
E) short

5. The opposite meaning of the word "easy"
A) difficult
B) soft
C) hard
D) smooth
E) light

6. The opposite meaning of the word "clean"
A) dirty
B) fresh
C) new
D) wet
E) dry

7.The opposite meaning of the word "light"
A) heavy
B) bright
C) thin
D) warm
E) dark

8. The correct form of the verb in the sentence
She ... to the gym every morning.
A) goes
B) going
C) go
D) gone
E) went

9. The correct word order in the sentence
A) They are playing football in the park.
B) In the park they football are playing.
C) Are football playing they in the park.
D) They are playing in the park football.
E) Football they are playing in park the.

10. Exclamatory sentence
A) How beautiful this garden is!
B) Where do you live?
C) They have three cats.
D) He is a teacher.

E) Please open the door.

SCORE: 10

8. Choose the correct option:

1. Complete the sentence
The Eiffel Tower is located in ... .
A) Paris
B) Berlin
C) London
D) Rome
E) Madrid

2. The correct form of the adjective
This exercise is ... than the previous one.
A) easier
B) easiest
C) more easy
D) easy
E) most easy

3. Choose the correct sentence
A) We can play the guitar.
B) She cans swim fast.
C) They can to run quickly.
D) He can sings very well.
E) Can he to drive a car?

4. Negative sentence
A) I don't like loud music.
B) Do you like tea?
C) How old are you?
D) Open the window, please.
E) What's your name?

5. Complete the sentence
The Statue of Liberty is located in ... .
A) New York
B) Los Angeles
C) Chicago
D) Boston
E) Miami

6. The opposite meaning of the word "brave"
A) scared
B) kind
C) strong
D) serious
E) proud

7. The sentence in the Future Perfect Continuous

A) She will have been working here for five years.
B) She has worked here for five years.
C) She had worked here for five years.
D) She is working here for five years.
E) She works here for five years.

8. Suitable suffix
He is a very help... person.
A) -ful
B) -ness
C) -tion
D) -ment
E) -ed

9. The opposite meaning of the word "difficult"
A) easy
B) strange
C) hard
D) serious
E) boring

10. The sentence in the Present Perfect
A) She has read the book.
B) She reads a book every day.
C) She had read the book.
D) She was reading a book.
E) She is reading the book.

SCORE: 10

9. Choose the correct option:

1. The verb with the similar meaning "to look"
A) to watch
B) to see
C) to hear
D) to smell
E) to touch

2. The verb with the similar meaning "to help"
A) to assist
B) to ignore
C) to avoid
D) to block
E) to push

3. The verb with the similar meaning "to help"
A) to ignore
B) to assist
C) to avoid
D) to block
E) to push

4. The verb with the similar meaning "to talk"
A) to speak
B) to listen
C) to write
D) to read
E) to watch

5. The verb with the similar meaning "to buy"
A) to purchase
B) to pay
C) to sell
D) to borrow
E) to rent

6. Choose the correct reported speech sentence for: He said, "I have finished my homework."
A) He said that he had finished his homework.
B) He said he has finished his homework.
C) He said he will finish his homework.
D) He said he is finishing his homework.
E) He said he finished his homework.

7. Choose the correct reported speech sentence for: They said, "We are going to the park."
A) They said that they were going to the park.
B) They said they are going to the park.
C) They said they will go to the park.
D) They said they go to the park.
E) They said they have gone to the park.

8. Choose the correct reported speech sentence for: She said, "I can help you."
A) She said that she could help me.
B) She said she can help me.
C) She said she will help me.
D) She said she helps me.
E) She said she helped me.

9. Choose the correct reported speech sentence for: He said, "I will call you tomorrow."
A) He said that he would call me the next day.
B) He said he will call me tomorrow.
C) He said he calls me tomorrow.
D) He said he called me tomorrow.
E) He said he is calling me tomorrow.

10. Choose the correct reported speech sentence for: She said, "I am studying English."
A) She said that she was studying English.
B) She said she is studying English.
C) She said she studies English.
D) She said she has studied English.
E) She said she studied English.

SCORE: 10

10. Choose the correct option:

1. The sentence with Complex Object
A) We watched them build the new house.
B) She always drinks coffee in the morning.
C) The children are playing in the garden.
D) He traveled to Spain last summer.
E) I like listening to music.

2. The sentence with phrasal verb
A) I'll warm up some soup for lunch.
B) He plays computer games.
C) I have got three cousins.
D) We live in the capital of the country.
E) I am watching TV tonight.

3. The sentence with Complex Object
A) I saw Emur get into his car.
B) Your friend drives very fast.
C) Will you be going away this summer?
D) I haven't watched TV for ages.
E) Don't phone between 7 and 8.

4. The correct sentence in the Subjunctive Mood
A) I wish you would listen to me.
B) Sam always knows how to realize his wishes.
C) My brother has a wish to become a policeman.
D) Wish a lot, and you can get something at least.
E) Give my best wishes to your Mom.

5. The sentence with phrasal verb
A) She looked after her little brother all afternoon.
B) The cat is sleeping on the sofa.
C) They visited the museum yesterday.
D) We have two dogs and one cat.
E) I read a book every evening.

6. The sentence with phrasal verb
A) They set off early in the morning.
B) The sun shines brightly today.
C) I am learning English at school.
D) We bought a new car last week.
E) She sings beautifully.

7. The correct sentence in the Subjunctive Mood
A) If I were you, I would take that opportunity.
B) He goes to school every day.

C) She loves to read books.
D) We have been friends for years.
E) They are playing football now.

8. The correct sentence in the Subjunctive Mood
A) It is important that he be on time tomorrow.
B) I visited my grandparents last weekend.
C) She likes to travel during the summer.
D) We will have a party next Saturday.
E) He studies English every day.

9. The sentence with Complex Object
A) I heard Anna sing a beautiful song.
B) They usually play football on Sundays.
C) She is reading a new novel now.
D) We went to the cinema last night.
E) He often cooks dinner for his family.

10. The sentence with Complex Object
A) We watched them build the new house.
B) She always drinks coffee in the morning.
C) The children are playing in the garden.
D) He traveled to Spain last summer.
E) I like listening to music.

SCORE: 10

Приложение 3

Примерный перечень тестовых вопросов по Блоку «Логика и критическое мышление»

1. Имеется перекрёсток двух дорог. Вдоль каждой из улиц перекрёстка можно посадить по 11 деревьев. Вдоль одной улицы, образующей перекрёсток, нужно посадить 11 деревьев, а вдоль второй улицы, образующей перекрёсток еще 11 деревьев. Какое минимальное количество деревьев нужно посадить на двух улицах, образующих перекресток?

A) Количество деревьев 21
B) Количество деревьев 23
C) Количество деревьев 15
D) Количество деревьев 17
E) Количество деревьев 19



2. Тетрадь дешевле ручки, но дороже карандаша. Что дешевле?

A) Дешевле карандаш
B) Дешевле ручка
C) Дешевле тетрадь
D) Дешевле книга
E) Дешевле Закраска

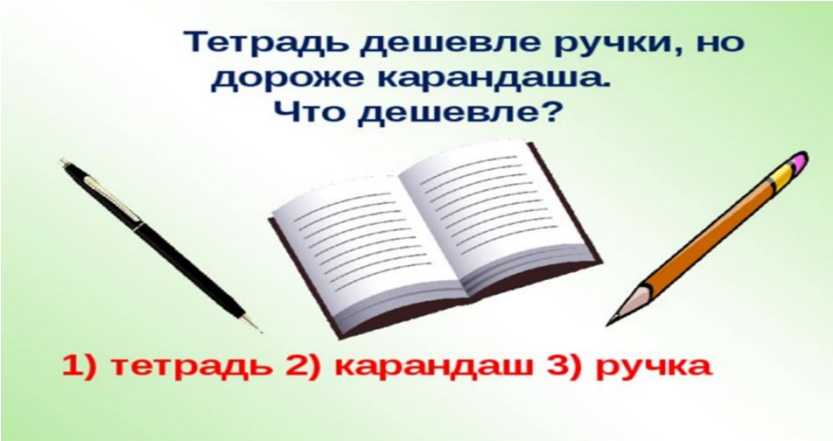

3. Отца одного гражданина зовут Николай Петрович, а сына – Алексей Владимирович. Как зовут гражданина?

A) Владимир Николаевич
B) Николай Владимирович
C) Алексей Владимирович
D) Николай Петрович
E) Алексей Петрович

4. Ваня живет выше Пети, но ниже Сени, а Коля живет ниже Пети. На каком этаже четырёхэтажного дома живёт каждый из них?

A) 1 этаж – Коля, 2 этаж – Петя, 3 этаж – Ваня, 4 этаж – Сеня
B) 1 этаж – Ваня, 2 этаж – Коля, 3 этаж – Сеня, 4 этаж – Петя
C) 1 этаж – Петя, 2 этаж – Коля, 3 этаж – Сеня, 4 этаж – Ваня
D) 1 этаж – Коля, 2 этаж – Ваня, 3 этаж – Сеня, 4 этаж – Петя
E) 1 этаж – Сеня, 2 этаж – Петя, 3 этаж – Ваня, 4 этаж – Коля

5. Двое подошли к реке. Лодка, на которой можно переправиться, выдерживает массу только одного человека! И все же, без посторонней помощи, они переправились на этой лодке. Как им это удалось?

A) Двое были на разных берегах реки. Сначала переправился один, а потом другой.

B) Двое были на одном берегу реки. Один переправился на лодке, другой - вплавь. Временами менялись местами.

C) Двое были на одном берегу реки. Оба переправились на лодке.

D) Двое были на одном берегу реки. Оба переправились вплавь.

E) Двое были на разных берегах реки. Никто переправился.

6. Полтора лимона стоят 150 теңге. Сколько стоят 10 лимонов?

A) 1000 теңге
B) 150 теңге
C) 200 теңге
D) 300 теңге
E) 1500 теңге

7. За книгу заплатили 1000 теңге и ещё половину стоимости книги. Сколько стоит книга?

A) Ответ: 2000 теңге
B) Ответ: 1000 теңге
C) Ответ: 3000 теңге
D) Ответ: 4000 теңге
E) Ответ: 5000 теңге

8. Каждую минуту от бревна отпиливают метровый кусок. За сколько минут распилят на такие куски бревно длиной 6 метров?

A) Ответ: Бревно распилят за 5 минут
B) Ответ: Бревно распилят за 10 минут
C) Ответ: Бревно распилят за 15 минут
D) Ответ: Бревно распилят за 20 минут
E) Ответ : Бревно распилят за 30 минут

9. Что тяжелее: килограммовая гиря или килограмм шариков?
A) Ответ: между ними равный вес
B) Ответ: килограммовая гиря тяжелее
C) Ответ: тяжелее килограмм шариков
D) Ответ: сначала будет равный вес, но постепенно, из-за того, что шарики имеют больший объём, на них действует бóльшая архимедова сила - чаша весов с ними будет выше.
E) Ответ: сначала будет равный вес, но масса у них разная, поэтому постепенно гири будут давить (с учетом архимедовой силы).

10. Сосчитай-ка! Ехал автобус. В нем сидело 5 человек. На остановке вошло 6 человек. На следующей вышли 4 человека и зашло 2, на следующей вышли 3 человека и зашло 4, на следующей никто не вышел, но зашло 8 человек, на следующей вышли 6 человек и зашёл 1, на следующей вышло 5, зашло 4. Сколько было остановок?

A) 8
B) 9
C) 7
D) 6
E) 5

11. Представьте, что у Вас 5 палочек. Сколько станет палочек, если разломать две из них на половинки?

A) Семь палочек.
B) Три палочки.
C) Пять палочек.
D) Десять палочек.
E) Одиннадцать палочек.

12. В одной семье у каждой из двух сестёр по три брата. Сколько всего детей в семье? Если у каждой сестры по три брата, то сколько в семье мальчиков?

A) Ответ: 5 детей: три мальчика и две девочки.
B) Ответ: 8 детей: шесть мальчиков и две девочки.

C) Ответ: 6 детей: три мальчика и три девочки.
D) Ответ: 7 детей: три мальчика и четыре девочки.
E) Ответ: 9 детей: пять мальчиков и четыре девочки.

13. В магазин пошли 4 мальчика: Дима, Коля, Никита и Андрей, по пути в магазин они нашли 4000 теңге. Сколько бы денег нашёл Никита, если бы пошёл в магазин один?

A) Ответ: 4000 теңге.
B) Ответ: 2000 теңге.
C) Ответ: 16000 теңге.
D) Ответ: 12000 теңге.
E) Ответ: 1000 теңге.

14. Сколько живут насекомые-однодневки “поденки”?

A) Ответ: 1 день
B) Ответ: 1 месяц
C) Ответ: 1 год
D) Ответ: 1 неделя
E) Ответ: 10 лет

15. Во дворе были куры и овцы. У них 3 головы и 8 ног. Сколько было кур и сколько овец?

A) Ответ: 2 курицы и 1 овца.
B) Ответ: 3 курицы и 2 овцы.
C) Ответ: 2 курицы и 2 овцы.
D) Ответ: 3 курицы и 3 овцы.
E) Ответ: 1 курица и 2 овцы.

16. Когда моему отцу было 31 год, мне было 8 лет, а теперь отец старше меня вдвое. Сколько мне лет теперь?

A) Ответ: 23, отцу 46.
B) Ответ: 16, отцу 40.
C) Ответ: 18, отцу 42.
D) Ответ: 20, отцу 40.
E) Ответ: 22, отцу 44.

17. Брату 14 лет, а сестре 10. Сколько лет будет брату, когда сестре будет столько, сколько ему сейчас?

A) Ответ: 18 лет.
B) Ответ: 16 лет.
C) Ответ: 20 лет.
D) Ответ: 22 лет.

E) Ответ: 21 лет.

18. Какое насекомое самое быстрое?
A) Ответ: Жук-скакун
B) Ответ: **Таракан**
C) Ответ: Улитка
D) Ответ: Муравьи
E) Ответ: Сороконожка

19. Рассеянный мальчик вышел из дома и пошел к своему другу Андрею. Расстояние между их домами 2 км. Когда он прошел половину пути и сел отдохнуть, то вспомнил, что забыл дома книгу. Мальчик вернулся домой, взял книгу и снова пошел к Андрею. Когда он подошел к дому Андрея, то вспомнил, что забыл сумку на том месте, где присел чуть отдохнуть. Мальчику пришлось вернуться за сумкой и снова идти к другу. Когда он пришел к Андрею, то понял, что вместо двух километров прошел гораздо больше. Сколько километров прошел мальчик?

A) Ответ: 6 км.
B) Ответ: 2 км.
C) Ответ: 4 км.
D) Ответ: 7 км.
E) Ответ: 8 км.

20. Две матери, две дочки и бабушка с внучкой. Сколько всех?

A) Ответ: 3
B) Ответ: 6
C) Ответ: 4
D) Ответ: 5
E) Ответ: 7

21. Чтобы разрезать бревно на 2 части, нужно уплатить за работу 1000 теңге. Сколько стоит работа по разрезанию бревна на 4 части?

A) Ответ: 3000 теңге.
B) Ответ: 4000 теңге.
C) Ответ: 2000 теңге.
D) Ответ: 1000 теңге.
E) Ответ: 5000 теңге.

22. На подоконнике лежали 8 зеленых помидоров. Через три дня они покраснели. Сколько зеленых помидоров осталось?

A) 0
B) 8
C) 16
D) 4
E) 2

23. Два маляра могут перекрасить две комнаты за два часа. Сколько потребуется маляров, чтобы покрасить 18 комнат за шесть часов?

A) 6
B) 24
C) 8
D) 18
E) 12

23. Ваня с Колей старше Сережи и Саши. Сережа и Саша старше Пети. Кто из мальчиков моложе всех?

A) Петя
B) Саша
C) Сережа
D) Ваня
E) Коля

25. В квартире живут собаки и кошки. Из всех животных только одно не является собакой, при этом все питомцы, кроме одного, — кошки. Сколько всего кошек и собак?

A) Одна собака и одна кошка
B) Три собаки и одна кошка
C) Одна собака и три кошки
D) Четыре собаки и много кошек
E) Две собаки и две кошки

26. У Маши и Вани по 9 леденцов. Маша съела 4 леденца. Ваня сделал тоже самое. Сколько леденцов осталось у Вани?

A) 5
B) 2
C) 0
D) 1
E) 3

27. Если вы принимаете участие в гонке и обошли человека, который был на третьем месте, то какое место займете вы?

A) Третье
B) Первое
C) Второе
D) Четвертое
E) Пятое

28.Сколько раз можно вычесть 2 из 100?

A) 1 раз, 100-2=98. Последующие вычитания уже будут не из 100.
B) 10

C) 100
D) 0
E) 25
F) 50

29. На ферме было два коня, один кролик, один щенок, одна кошка, свинья и поросенок, корова и теленок, индюк и гусь. Пришел хозяин с собакой. Сколько на ферме стало ног?

A) Две
B) 44
C) 46
D) 34
E) 26

30. Кто лишний в этом списке? Сельдь, кит, акула, тунец, треска.

A) Кит
B) Сельдь
C) Акула
D) Тунец
E) Треска

31. Может ли это быть?
Одного человека спросили:
— Сколько вам лет?
— Я старше некоторых моих родственников в шестьсот раз — ответил он.
Может ли это быть правдой?

A) Если деду 50 лет, а его внуку 1 месяц, то дед старше внука в 600 раз.
B) Если деду 50 лет, а его внуку 1 месяц, то дед старше внука в 50 раз.
C) Если деду 50 лет, а его внуку 1 месяц, то дед старше внука в 100 раз.
D) Если деду 50 лет, а его внуку 1 месяц, то дед старше внука в 200 раз.
E) Если деду 50 лет, а его внуку 1 месяц, то дед старше внука в 60 раз.

32. У семерых братьев на каждого по одной сестрице.
Сколько сестриц всего?

A) Одна
B) Семеро
C) Трое
D) Пятеро

E) Шесть



33. Летела стая гусей, одного убили.
Сколько осталось?

A) Остался один убитый, остальные улетели
B) Два
C) Три
D) Десять
E) Пять.

34. Летела стая уток: одна утка впереди, а две позади; одна позади и две впереди; одна между двумя и три в ряд. Сколько всего было уток?

A) 3 утки
B) 10 уток
C) 4 уток
D) 5 уток
E) 1 утка.

35. Ты да я, да мы с тобою.
Много ли нас?

A) Двое
B) Трое
C) Семеро
D) Десять
E) Один

36. Сын с отцом, да сын с отцом, да дедушка с внуком.
Много ли их было?

A) Трое
B) Двое
C) Семеро
D) Десять
E) Один

37. Шли гурьбой: тёща с зятем да муж с женой,
Мать с дочерью да бабушка с внучкой, да дочь с отцом.
Много ли всех?

A) Четверо
B) Двое
C) Трое
D) Семеро
E) Один

38. На груше росло 37 груш, а на иве меньше. Сколько груш росло на иве?

A) Груши на иве не растут

B) Бесконечное количество
C) 37
D) Много
E) 100

39. Сколько часов вместе длятся день и ночь?
A) 24 часа.
B) 48 часов.
C) 72 часов.
D) 12 часов.
E) 10 часов.

40. Последний дом на одной из сторон улицы имеет номер 27. Сколько всего домов на этой стороне улицы?
A) 14
B) 100
C) 27
D) 13
E) 12

41. Два лыжника выехали одновременно навстречу друг другу. Первый ехал до встречи 2 часа. Сколько времени ехал до встречи второй лыжник?
A) 2 часа
B) 0 минут
C) 1 час
D) 4 часа
E) 3 часа



42. Две девочки идут из школы домой, а навстречу им три мальчика. Сколько всего детей идет домой?
A) 2
B) 5
C) 7
D) 10
E) 1

43. На столе лежит яблоко. Его разделили на 4 части. Сколько яблок лежит на столе?

A) 1
B) 2
C) 4
D) 5
E) 0



44. Летели три страуса. Охотник одного подстрелил. Сколько страусов осталось?

A) 0
B) 3
C) 2
D) 1
E) 4

45. У девочки 5 яблок. Она съела все, кроме 3. Сколько яблок у нее осталось?

A) 3
B) 1
C) 2
D) 4
E) 5

46. Почему тараканы не болеют заразными болезнями, ползая по грязным местам?

A) Мозги тараканов содержат антибиотики.
B) Кольчугообразная кожа таракана защищает его от зараз.
C) Усы таракана сразу обезвреживают заразу.
D) Крылья таракана защищают его от зараз.
E) Организм таракана с ходу убивает любую внешнюю заразу.

47. У трех братьев по одной сестре. Сколько всего детей в семье?

A) 4
B) 5
C) 1
D) 2
E) 3

48. Поле пахали 6 тракторов.
2 из них остановились.
Сколько тракторов в поле?

A) 6
B) 1
C) 2
D) 3
E) 4

50. В комнате 4 угла. В каждом углу сидит кошка. Напротив каждой кошки сидят по 3 кошки. Сколько всего кошек в комнате?

A) 4
B) 1
C) 2
D) 3
E) 5

51. У палки 2 конца. Если один отпилить, то сколько останется концов?

A) 2
B) 1
C) 3
D) 0
E) 4

52. Петух, стоя на одной ноге, весит 3 кг. Сколько он будет весить, стоя на двух ногах?

A) 3кг.
B) 1кг.
C) 2кг.
D) 4кг.
E) 0 кг.

53. Тройка лошадей в час пробежала 24 км. Сколько километров пробежала каждая лошадь?

A) 24 км
B) 0 км.
C) 12 км
D) 2 км
E) 10 км

53. Одно яйцо нужно варить 5 минут. Сколько времени потребуется, чтобы сварить 6 таких яиц?

A) 5 минут.
B) 10 минут.
C) 15 минут.
D) 20 минут.
E) 30 минут.

54. Четверо играли в домино 20 минут. По сколько минут играл каждый?
A) По 20 минут.
B) По 10 минут.
C) По 30 минут.
D) По 5 минут.
E) По 40 минут.

55. В семье двое детей. Саша - брат Жени, но Женя Саше не брат.
Может ли такое быть?
Кто Женя?
A) Сестра
B) Братик
C) Дядя
D) Племянник
E) Кузен

56. По направлению в город ехало 3 автомобиля, а навстречу им ехало 5 автобусов.
Сколько машин ехало в город?
A) 3 машины
B) 0 машин
C) 1 машина
D) 2 машины
E) 5 машин

57. Три мальчика играли в шашки. Всего было сыграно три партии. По сколько партий сыграл каждый мальчик?
A) По две партии.
B) По три партии.
C) По шесть партий.
D) По пять партий.
E) По одной партии.

58. Какому насекомому “аплодирует” весь мир?
A) Моли
B) Бабочкам
C) Стрекозам
D) Комарам
E) Мухам

59. Шесть ног, две головы, а хвост один. Что это?

A) Всадник на лошади.
B) Крокодил
C) Дракон
D) Улитка
E) Горгона

60. Где находятся города без домов, реки без воды и леса без деревьев?

A) На географической карте
B) В фильмах
C) В фантазии
D) В раю
E) Во снах

61. Кто “ходит” сидя?

A) Шахматист
B) Инвалид-колясочник
C) Водитель
D) Тракторист
E) Наркоман

62. «Завязать» можно, а развязать не получится.

A) Разговор
B) Шнур
C) Ремень
D) Конфликт
E) Отношения

63. Что не является вопросом, но требует ответа?

A) Звонок в двери или по телефону.
B) Письмо
C) Телеграмма
D) Дружба
E) Конфликт

64. Когда всё видишь, то её не видишь, а когда ничего не видишь, то её видишь.

A) Темень
B) Туман
C) Огонь
D) Зарево
E) Дождь

65. Профессор решил угостить друзей своим фирменным овощным салатом. Для этого ему понадобилось: перца - 3 штуки и столько же помидоров; огурцов меньше, чем помидоров, но больше, чем редисок. Сколько всего штук разных овощей использовал Профессор в салате?

A) 9
B) 5
C) 6
D) 7
E) 8

66. То, что принадлежит вам, однако другие им пользуются чаще, чем вы?

A) Ваше имя
B) Ваш ум
C) Ваш рост
D) Ваша доброта
E) Ваше расположение

67. Единственная птица, у которой есть ушные раковины?

F) Сова
G) Орел
H) Страус
I) Феникс
J) Фазан

68. Римляне внесли в конструкцию вилки революционное новшество – все последующие модели стали лишь вариациями найденного решения. А какой вилка была до этого новшества?

A) Однозубой
B) Многозубой
C) Сплошной
D) Трехзубой
E) Четырехугольной

69. Назовите растение, у которого самые большие плоды.

A) Тыква
B) Кокос
C) Арбуз
D) Дыня
E) Помидор

70. Что теряет в полёте любой космонавт?

A) Вес
B) Кислород
C) Связь с миром
D) Сон
E) Страх

71. У человека двенадцать пар рёбер. А у кого рёбер около трёхсот?

A) У змеи
B) У слона
C) У сороконожки
D) У черепахи
E) У кита

72. Назовите сельскохозяйственную культуру, которая на 90% сгорает, а на 10% выбрасывается.
A) Табак
B) Кукуруза
C) Просо
D) Пшеница
E) Ячмень

73. Обладателем самого большого рога является белый носорог (до 158 см). А у какого животного самые мягкие рога?
A) У улиток
B) У коров
C) У коз
D) У сайги
E) У лягушек

74. Почему быстро погибают насекомые-однодневки “поденки”
A) Они не имеют пищеварительной системы и даже рта
B) Они заразные
C) Они не переносят холод
D) Они не переносят жару
E) Они не переносят шум и свет

75. “Это болезнь. Но очень редкая. К сожалению незаразная”, говорил Гиппократ. О чем говорил Гиппократ?
A) О гениальности
B) Об экстрасенсорике
C) О сне
D) О мужестве
E) Об юморе

76. Если тюрки хотели сказать “охраняй селение”, они говорили “кара авыл”. А как мы говорим сейчас?
A) “Карауль”
B) “Стой”
C) “Замри”
D) “Не отходи”
E) “Не смотри”

77. Юлий Цезарь приказал своим солдатам украсить щиты и оружие драгоценностями. Зачем?
A) Чтобы жалко было бросать
B) Для мотивации
C) Для престижа
D) Для поднятия духа
E) Для смелости

78. Если в 12 часов ночи идет дождь, то можно ли ожидать, что через 72 часа будет солнечная погода?

A) Нет, так как через 72 часа снова будет полночь
B) Да, будет солнечная погода
C) Будет ночь
D) Будет день
E) Будет снег

79. В светильнике было 20 лампочек, 5 из них перегорели. Сколько лампочек осталось?

A) Двадцать лампочек (15 работающих и 5 перегоревших).
B) 15
C) 19
D) 10
E) 12

80. У кого усы длиннее ног?

A) У таракана
B) У жирафа
C) У лани
D) У медузы
E) У улитки

81. Один джентльмен, показывая своему другу портрет, нарисованный по его заказу одним художником, сказал: “У меня нет ни сестер, ни братьев, но отец этого человека был сыном моего отца”. Кто изображен на портрете?

A) Сын джентльмена.
B) Дядя этого джентльмена.
C) Дед этого джентльмена.
D) Внук этого джентльмена.
E) Сам джентльмен.

82. В парке 8 скамеек. Три покрасили. Сколько скамеек стало в парке?

A) Восемь
B) Пять
C) Шесть
D) Семь
E) Десять.

83. Термометр показывает плюс 15 градусов. Сколько градусов покажут два таких термометра?

A) + 15 градусов
B) + 30 градусов
C) + 45 градусов
D) + 60 градусов
E) 0 градусов

84. Что легче: 1 кг ваты или 1 кг железа?

A) Одинаково
B) 1 кг ваты
C) 1 кг яблок
D) 1 кг пшеницы

E) 1 кг соли

85. Два раза рождается, один раз умирает. Кто это?
A) Цыплёнок
B) Лягушка
C) Черепаха
D) Краб
E) Раки

86. Что всегда увеличивается и никогда не уменьшается?
A) Возраст
B) Гордость
C) Ум
D) Вес
E) Дружба.

87. Чем больше из нее берешь, тем больше становится. Что это?
A) Яма
B) Деньги
C) Память
D) Любовь
E) Непрязнь

88. Что идет то в гору, то с горы, но остается на месте?
A) Дорога
B) Солнце
C) Луна
D) Дождь
E) Речка

89. Единственное животное, в которое забивают гвозди. Кто это?
A) Лошадь
B) Бык
C) Носорог
D) Слон
E) Собака

90. Из кожи именно этого животного были впервые изготовлены напильники, которыми полировали дерево и даже мрамор.
A) Акулы
B) Быка
C) Носорога
D) Слона
E) Лошади

91. Сколько яиц можно съесть натощак?
A) Одно (остальные уже будут не натощак).
B) 10
C) 2
D) 3
E) 0

92. Сын моего отца, но мне не брат.

A) Я сам
B) Кузен
C) Дядя
D) Собственный сын
E) Мой внук

93. Накормите его, и он оживет. Напоите его, и он умрет. Что это такое?

A) Огонь
B) Животные
C) Растения
D) Дружба
E) Конфликты

94. Что в огне не горит и в воде не тонет?

A) Лёд
B) Титан
C) Стекло
D) Пластик
E) Труды ученых

95. Кого австралийцы называют морской осой?

A) Медузу
B) Пингвинов
C) Тюленей
D) Морских ежей
E) Инфузории

96. Три курицы несут три яйца за три дня. Сколько яиц снесут 12 куриц за 12 дней?

A) 48
B) 12
C) 24
D) 36
E) 48

97. Какие насекомые одомашнены человеком?

A) Пчёлы
B) Бабочки
C) Стрекоза
D) Комары
E) Мухи

98. На какой вопрос невозможно ответить “да”?

A) «Ты спишь?»
B) «Ты гуляешь?»
C) «Ты занимаешься?»
D) «Ты счастлив?»
E) «Ты умный?»

99. Какой узел нельзя развязать?

A) Железнодорожный
B) Родственных отношений

C) Государственный
D) Любовный
E) Преступный

100. Какие животные всегда спят с открытыми глазами?
A) Рыбы
B) Малыши
C) Обезьяны
D) Крокодилы
E) Совы

101. Двое солдат подошли к левому берегу реки, где им предстояло переправиться на следующий берег. Двое подростков катались на лодке недалеко от берега, других надувных лодок в воде не было. Однако лодка не может выдержать на воде вес более 100 кг.
Как организовать переброску солдат на правый берег и за сколько рейсов это можно сделать? Если, чтобы переправить одного солдата, требуется две поездки: в первой поездке двое подростков переправляются на противоположный берег, один из них остается там, а второй подросток возвращается на исходный берег на лодке. Во время второго рейса подросток передает лодку одному из солдат, солдат переходит на правый берег и возвращает лодку второму подростку. Второй подросток достигает первоначального берега. Итак, если для того, чтобы доставить одного солдата на паром, требуется две поездки, сколько поездок понадобится, чтобы переправить двоих из них через реку?

A) Потребуется 4 рейса
B) Потребуется 3 рейса
C) Потребуется 2 рейса
D) Потребуется 5 рейсов
E) Потребуется 1 рейс

102. В Англии этот цветок воспет поэтами в сказках. Он служит колыбелью для малюток фей и нежных эльфов. Его родина Персия, оттуда он перекочевал в Турцию, а в XIX в. в Европу. В Голландии существовал культ этого цветка. В Амстердаме за три луковицы были куплены два каменных дома.

A) Тюльпаны
B) Розы
C) Орхидеи
D) Магнолии
E) Лиандры

103. Что бывает страшнее огня?

A) Дым
B) Пробуждение вулкана
C) Землетрясение
D) Война
E) Сель

104. Как называется исполнение песни без музыки?

A) Акапелла
B) Ария
C) Хор
D) Соло
E) Речитатив

105. Вес какого животного может достигать 190 тонн?

A) Синий кит
B) Бегемот
C) Слон
D) Носорог
E) Крокодил

106. Катя быстрее Иры,
Ира быстрее Лены.
Кто быстрее всех?
A) Катя
B) Ира
C) Лена
D) Надя
E) Оля

107. Один из двух автомобилей едет по широкой дороге, другой — по узкой.
Грузовик не едет по узкой дороге.
По какой дороге едет легковой автомобиль?
А грузовик?

A) Грузовик едет по широкой дороге
B) Легковой автомобиль едет по широкой дороге
C) Грузовик не едет по широкой дороге
D) Грузовик не едет по широкой дороге
E) Легковой автомобиль не едет по узкой дороге

108. Вера немного темнее, чем Люда.
Вера намного светлее Кати.
Кто светлее всех?

A) Вера
B) Люда
C) Катя
D) Оля
E) Наташа

109. Что можно приготовить, но нельзя съесть?
A) Домашнее задание по уроку
B) Пирог
C) Еда
D) Напиток
E) Баурсаки

Если нужно, могу дать дополнительные пояснения по значениям или употреблению.

110. Толя выше Игоря,
Игорь выше Коли.
Кто выше всех?
A) Толя
B) Игорь
C) Коля
D) Юра
E) Андрей

111. Какой болезнью на суше никто не болеет?
A) Морской болезнью
B) Бешенством
C) Тифом
D) Летаргическим сном
E) Синдромом Туретто

112. Саша веселее Толи,
Толя веселее Вани.
Тогда кто самый весёлый?
A) Саша
B) Толя
C) Ваня
D) Юра
E) Андрей

113. Какие черви не имеют кишечника?

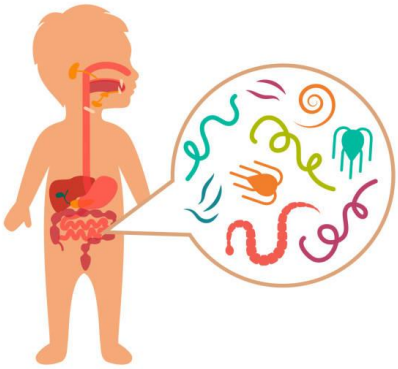

A) Ленточные черви
B) Безногие земноводные
C) Звездчатые черви
D) Земляные черви
E) Ледяные черви

114. Каких моллюсков едят живыми?

A) Устрицы (Ostreidae)
B) Панцирные (Polyplacophora)
C) Двустворчатые (Bivalvia)
D) Лопатоногие (Scaphopoda)
E) Брюхоногие (Gastropoda)

115. Кто самый крупный зверь?

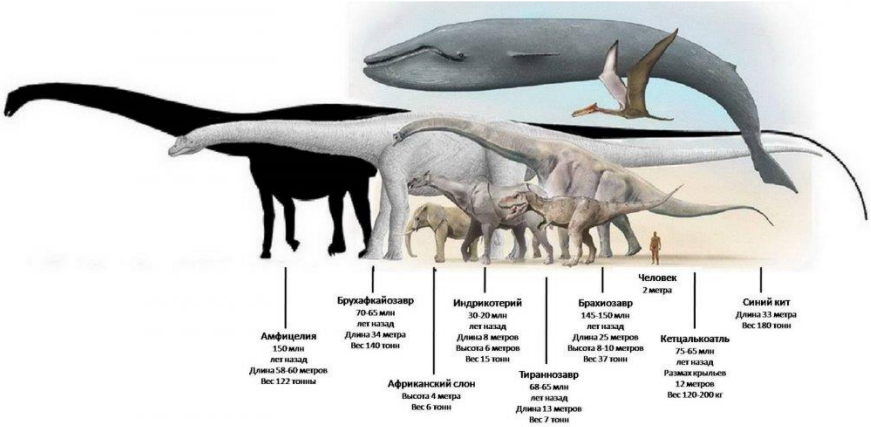

A) Синий кит – «полосатик»

B) Бегемот
C) Носорог
D) Слон
E) Мегалодон

116. Как называются организмы, живущие за счет других, питаясь соками его тела?

A) Паразиты
B) Ч*ервяк*
C) Тунеядец
D) Чужеяд
E) **Н***ахлебник*

117. Кто умеет строить острова?

A) Коралловые полипы
B) Рыбы
C) Черви
D) Осы
E) Птицы

118. Какие птицы не умеют летать?

A) Страусы
B) Попугаи
C) Голуби
D) Совы
E) Грачи

119. Пирог был разрезан на три части.
Сколько всего разрезов было сделано, чтобы разделить пирог на три части?
A) Два
B) Три
C) Один
D) Четыре
E) Пять

120. Один из пяти братьев разбил окно.
Андрей сказал: «Это или Витя, или Толя».
Витя сказал: «Это сделал не я и не Юра».
Дима сказал: «Нет, один из них сказал правду, а другой неправду».
Юра сказал: «Нет, Дима, ты не прав».
Их отец, которому можно доверять, уверен, что не менее трех братьев сказали правду.
Кто разбил окно?
A) Окно разбил Толя
B) Окно разбил Андрей
C) Окно разбил Витя
D) Окно разбил Дима
E) Окно разбил Юра

121. Маша бегает быстрее, чем Света.
Света быстрее Оли.
Кто из девочек быстрее всех?
A) Маша
B) Света
C) Оля
D) Надя
E) Галя

122. Лиза и Петя пошли в лес собирать грибы и ягоды.
Лиза грибы не собирала.
Что собирал Петя?
А) Петя собирал грибы
Б) Петя не собирал грибы
В) Петя собирал ягоды

Г) Петя не собирал ягоды
Д) Лиза собирала грибы

123. Ира на 3 см ниже Клавы.
Клава на 5 см ниже, чем Люба.
Кто выше всех?
A) Люба
B) Клава
C) Ира
D) Мая
E) Надя

124. Растут две березы. На каждой березе по четыре шишки.
Сколько всего шишек?
A) На березе шишки не растут
B) Всего 8 шишек
C) Всего 7 шишек
D) Всего 6 шишек
E) Всего 12 шишек

125. Какое насекомое может поднять груз в 10 раз превышающий его собственный вес?

A) Муравей
B) Ежик
C) Белка
D) Оса
E) Черепаха

126. Температура воды в водоеме 17 градусов Цельсия.
Какова температура тела, рыб обитающих в нем?
A) 18 градусов Цельсия
B) 20 градусов Цельсия
C) 25 градусов Цельсия
D) 22 градусов Цельсия
E) 23 градусов Цельсия

127. Вы поймали карася. Как узнать, сколько ему лет?

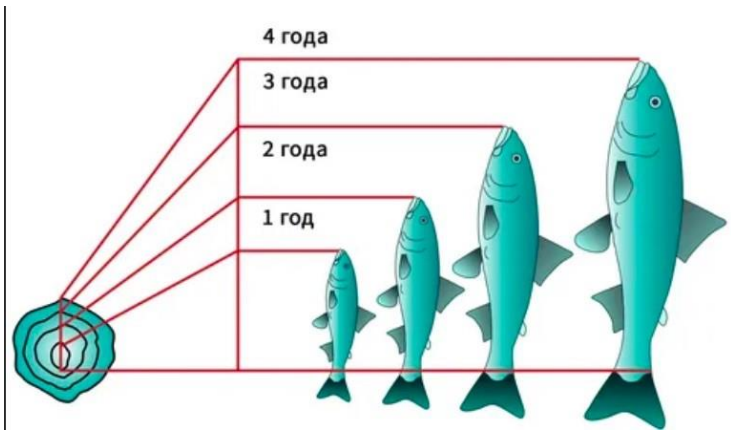

A) Сосчитать кольца на чешуе
B) Измерить длину рыбы
C) Измерить от вершины рыла до лопасти хвостового плавника
D) Измерить чешуйчатый покров
E) Измерить толщину рыбы

128. Какие организмы растут всю жизнь?

A) Кораллы
B) Киты
C) Караси
D) Инфузории
E) Осьминоги

129. Существа, которые не могут жить в среде, не содержащей кислорода?

A) Рыбы
B) Водоросли
C) Гельминты
D) Анаэробные микроорганизмы
E) Аскариды

130. В колесе 8 спиц.
Сколько между спицами промежутков?
A) 7
B) 8
C) 6
D) 5
E) 3

131. Летела стая птиц на рощу.
Сели по две на дерево - одно осталось;
сели по одной - одного не досталось.
Сколько в роще деревьев, а в стае птиц?

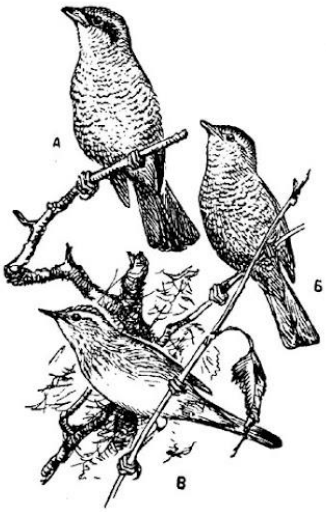

A) Три дерева, четыре птицы
B) Четыре дерева, четыре птицы
C) Четыре дерева, три птицы
D) Три дерева, три птицы

E) Четыре дерева, пять птиц

132. Толя и Игорь рисовали.
Один — дом, другой — ветку с листьями.
Что рисовал Толя, если Игорь не рисовал дом?
A) Толя рисовал дом
B) Толя рисовал листик
C) Толя рисовал самолет
Д) Толя рисовал машину
E) Толя рисовал дерево

133. Три подруги вышли в белом, зеленом и синем платьях и туфлях. Известно, что только у Ани цвета платья и туфель совпадали. Ни туфли, ни платье Вали не были белыми. Наташа была в зеленых туфлях.

Определите цвет платья и туфель на каждой из подруг.
A) Наташа вышла в синем платье и зеленых туфлях, Валя — в зеленом платье и синих туфлях, Аня — в белом платье и белых туфлях. Наташа вышла в синем платье и зеленых туфлях, Аня — в зеленом платье и синих туфлях. Валя — в зеленом платье и синих туфлях
B) Наташа вышла в синем платье и зеленых туфлях, Аня — в зеленом платье и синих туфлях
C) Валя — в зеленом платье и синих туфлях
D) Валя — в зеленом платье и синих туфлях
E) Аня — в белом платье и белых туфлях

134. На международном конгрессе встретились четверо ученых: физик, историк, биолог и математик. Национальности их были различными и, хотя каждый из ученых владел двумя языками из четырех (русский, английский, французский и итальянский), не было такого языка, на котором они могли бы разговаривать вчетвером. Был язык, на котором могли разговаривать сразу трое. Никто из ученых не владел французским и русским одновременно. Хотя физик не говорил по-английски, он мог быть переводчиком, если биолог и историк хотят поговорить друг с другом. Историк говорит по-французски и может говорить с математиком, хотя тот не знает ни одного русского слова. Физик, биолог и математик не могут беседовать втроем на одном языке.
Какими двумя языками владеет каждый из ученых?

A) Физик владеет французским и итальянским языками, историк — русским и итальянским, биолог — английским и французским, математик — английским и итальянским

B) Физик владеет русским и итальянским, биолог — английским и французским, математик — английским и итальянским

C) Физик владеет английским и французским языками, историк — русским и итальянским, биолог — английским и французским, математик —французским и итальянским

D) Физик владеет арабским и итальянским языками, историк — французским и испанским, биолог — английским и французским, математик — английским и итальянским

E) Физик владеет французским и итальянским языками, историк — русским и итальянским, биолог — английским и французским, математик — английским и итальянским

135. В очереди за билетами в кино стоят: Юра, Миша, Володя, Саша и Олег.
Известно, что:
1) Юра купит билет раньше, чем Миша, но позже Олега
2) Володя и Олег не стояли рядом
3) Саша не находится рядом ни с Олегом, ни с Юрой, ни с Володей

Кто за кем стоит?

A) Мальчики стоят в очереди в следующем порядке: Олег, Юра, Володя, Миша и Саша

B) Миша и Саша, Олег, Юра, Володя
C) Юра, Володя, Миша и Саша, Олег
D) Саша, Олег, Юра Миша и Володя
E) Саша, Миша, Володя, Олег, Юра

136. В семье трое детей.
Сестёр больше, чем братьев.
Сколько сестёр в семье?
A) Сестер двое
B) Сестер двое
C) Одна сестра
D) Четыре
E) Пять

137. В семье четверо детей. Им 5, 8, 13 и 15 лет. Детей зовут Аня, Боря, Вера и Галя. Сколько лет каждому ребенку, если одна девочка ходит в детский сад, Аня старше Бори, и сумма лет Ани и Веры делится на три?
A) Вере 5 лет, Боре 8 лет, Ане 13 лет, Гале 15 лет
B) Вере 5 лет, Боре 8 лет, Ане 13 лет, Гале 5 лет
C) Вере 15 лет, Боре 18 лет, Ане 3 лет, Гале 5 лет
D) Вере 5 лет, Боре 8 лет, Ане 13 лет, Гале 12 лет
E) Вере 3 лет, Боре 8 лет, Ане 3 лет, Гале 5 лет

138. Саша на 10 лет младше Игоря.
Игорь на 2 года старше Лёши.
Кто младше всех?
A) Саша
B) Леша
C) Игорь
D) Дима
E) Юра

139. На улице, встав в кружок, беседуют четыре девочки: Аня, Валя, Галя и Надя.
1) Девочка в зеленом платье — не Аня и не Валя — стоит между девочкой в голубом платье и Надей.
2) Девочка, в белом платье стоит между девочкой в розовом платье и Валей.
Какого цвета платье у каждой из девочек?
Следующая задача также приводит к необходимости упорядочить пары элементов двух множеств. Это упорядочение имеет особый характер.
A) У Гали платье зеленое, у Нади — розовое, у Вали — голубое, у Ани — белое
B) У Гали – красное
C) У Нади - белое
D) У Вали — розовое
E) Аня в голубом платье

140. Четыре товарища (Петя, Боря, Алеша и Коля) пошли со своими сестрами на школьный новогодний бал.
Во время первого танца каждый из них танцевал не со своей сестрой. Лена танцевала с Петей, а Светлана — с братом Наташи, Оля танцевала с братом Светланы, Боря — с сестрой Алеши, а Алеша — с сестрой Пети.
Кто чей брат? Кто с кем танцевал?

A) Петя — брат Оли, и Петя танцевал с Леной;
Боря — брат Наташи, и Боря танцевал со Светланой;
Алеша — брат Светланы, и Алеша танцевал с Олей;
Коля — брат Лены, и Коля танцевал с Наташей
B) Петя — брат Наташи, и Боря танцевал со Светланой
C) Коля —— брат Оли, и Петя танцевал с Леной
D) Брат Светланы, и Алеша танцевал с Олей
E) Алеша — брат Лены, и Коля танцевал с Наташей

141. Миша сильнее Олега,
Миша слабее Пети.
Кто сильнее всех?
A) Петя
B) Миша
C) Олег
Д) Алексей
E) Иван
катались на «Колесе Обозрения».

142. Какая обезьяна считается самой крупной?

A) Горилла
B) Непальский серый лангур
C) Мандрил
D) Тибетская макака
E) Желтые бабуины

143. Какова сумма чисел до ста?
A) Сумма чисел от 1 до 100 (включительно) равна 5050, а сумма чисел от 1 до 100 (исключая 100)
равна 4950
Б) 5050
В) 5000
Г) 4500
Д) 4900

144. Каким образом крот заготавливает на зиму червей?

A) Обезглавливает их и складывает в кладовую
B) Закапывает в землю
C) Заварачивает в листья
D) Сушит
E) Раздробляет и прячет

145. Какие птицы являются первыми вестниками весны?

A) Грачи
B) Трясогузки
C) Скворцы
D) Жаворонки
E) Дрозд-рябинник

146. В какой стране вывели петухов с трехметровыми хвостами?

A) В Японии
B) В Австралии
C) В Австрии
D) В Тайланде
E) В Индонезии

147. У какого насекомого нет слуха?

A) У мухи

B) У стрекозы
C) У комора
D) У бабочки
E) У таракана

148. Определите, в каком отношении находятся объемы имен «студент» и «спортсмен»:

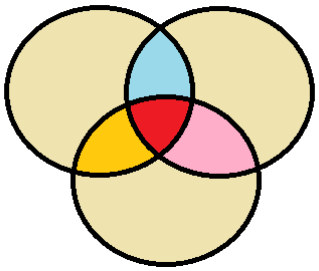

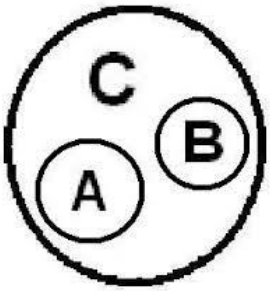

A) Пересечение
B) Подчинение
C) Исключение
Д) Совпадение
E) Противоречие

149. (Любовь без взаимности).

Трое юношей: Коля, Петя и Юра — влюблены в трех девушек: Таню, Зину и Галю. Но это любовь без взаимности.
Коля любит девушку, влюбленную в юношу, который любит Таню.
Петя любит девушку, влюбленную в юношу, который любит Зину.
Зина не любит Юру.
Кто в кого влюблен?
A) Коля влюблен в Галю, Галя — в Петю, Петя — в Таню, Таня — в Юру, Юра — в Зину и Зина — в Колю
B) Коля любит Таню
C) Петя любит Зину
D) Таня любит Юру
E) Петя влюблен в Галю

150. Какие земноводные животные переодеваются - меняют кожу четыре раза в год и

всякий раз съедают предыдущую.

A) Лягушки
B) Гадюки
C) Раки
D) Осьминоги
E) Угри и скаты

151. Где родилось искусство составления букета «икебана»

A) В Японии
B) В Китае
C) В Тайланде
D) В Тайланде
E) В Малайзии

152. Какой цветок является символом Солнца и символом Японии?

A) Хризантема
B) Пионы
C) Тюльпаны
D) Гербер
E) Гортензии

153. Какой цветок всю жизнь любуется собой?

A) Нарцисс
B) Гортензии
C) Хризантема
D) Гербер
E) Пионы

154. Какие существа имеют три сердца?

A) Осьминоги, каракатицы, кальмары.
B) Лягушки, гадюки
C) Раки, осьминоги
Д) Угри и скаты
E) Киты, инфузории

155. Какого цвета у моллюсков кровь?

A) Голубая
B) Прозрачного
C) Красного
D) Серого
E) Черного

156. Какое растение дает лучший мед?

A) Липа
B) Мята
C) Гречиха
D) Клевер
E) Одуванчик

157. Самое быстрое животное суши?

A) Гепард, 110 км в ч.
B) Страус
C) Кенгуру
D) Леопард
E) Тигр

158. Какая нить в природе самая тонкая?

A) Паутина
B) Натуральная нить
C) Синтетическая нить
D) Капроновая нить
E) Шелковая нить

159. Какая змея плюется?

A) Кобра
B) Удав
C) Гадюка
D) Мамба
E) Анаконда

160. У кого самый длинный язык?

A) Муравьед, длина 61 см.
B) З*мей*
C) Корова
D) Жираф
E) Комодский варан

161. Где у кузнечика ухо?

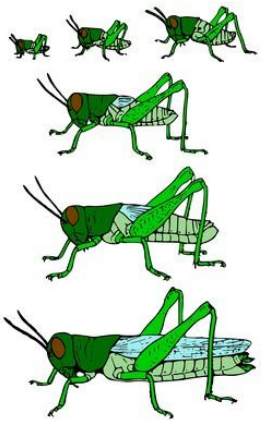

A) На ноге
B) На лбу
C) На крыльях
D) На спине
E) На хвосте

162. Чем блеет бекас?

A) Хвостом
B) Животом
C) Головой
D) Чешуей
E) Всем телом

163. Какой зверь после еды чистит зубы? Полощет рот.

A) Тигр
B) Верблюд
C) Медведь
D) Слон

E) Жираф

164. У каких птиц крылья покрыты чешуей?

A) Пингвины
B) Пеликан
C) Цапля
D) Аист
E) Гусь

165. У кого больше позвонков?

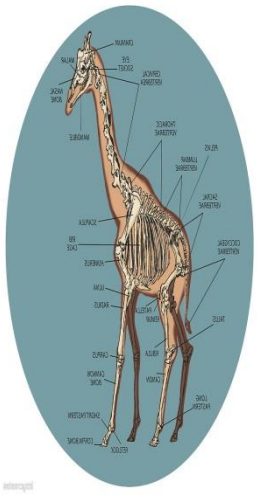

A) Жираф
B) Свинья
C) Слон
D) Крокодил
E) Змея

166. Где хранит свои запасы воды верблюд?

A) В крови
B) На горбах
C) В желудке
D) Под кожей

E) На теле

167. Из какого дерева делают спички?

A) Осина
B) Береза
C) Клен
D) Дуб
E) Ива

168. Какая рыба может превратиться в шахматную доску?



A) Камбала
B) Карп
C) Иваси
D) Килька
E) Карась

169. Чем стрекочет кузнечик?

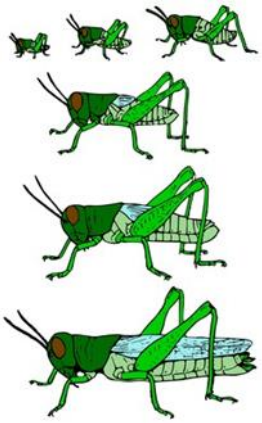

A) Трением ноги о крыло

B) Животом
C) Головой
D) Чешуей
E) Всем телом

170. Какая птица совсем не имеет крыльев?

A) Киви-киви
B) Пингвин
C) Страус
D) Попугай
E) Чайка

171. У какого животного цвет жира зеленый?



A) Крокодил
B) Бегемот
C) Носорог
D) Змей
E) Лягушка

172. Листья каких растений способны указать на стороны света?



A) Латук дикий, сильфиум, эвкалипт
B) Грецкие орехи

C) Хвойные *деревья*
D) Хосна
E) Кипарис

173. Самый большой паук на свете?

A) Heteropoda maxima (лат.) из семейства Sparassidae самый большой паук в мире, обитает в лаосской провинции Кхаммуан. Длина тела самок составляет до 4,6 см, самцов — примерно 3,0 см. Размах конечностей составляет от 25 до 30 см.
Птицеед-голиаф из Южной Америки уступает ему в размахе конечностей, но заметно превосходит по размерам тела
B) Клещи (Acari)
B) Скорпионы
Г) Крабы
E) Черный дрозд

174. Самая большая змея на земле

A) Анаконда, до 9 м.
B) Мулга
C) Черная мамба
D) Кайсака
E) Бумсланг

175. У какой акулы глаза расположены в 2 метрах друг от друга?

A) Рыба – молот (Кархаринообразные)
B) Белая акула (Ламнообразные)
C) Чёрная колючая акула (Катранообразные)
D) Пятнистая шорная акула (Воббегонгообразные)
E) Японский пилонос (Пилоносообразные)

176. Какая бабочка любит путешествовать? Осенью она улетает, как птица на юг, в Африку, а весной возвращается в наши края.

A) Бабочка-репейница
B) Адмирал
C) Аполлон Мнемозина
D) Бархатница Автоноя
E) Бабочка-мокрица

177. Какая лягушка для своих головастиков строит дом, но без окон, крыши и дверей.

A) Квакша-кузнец
B) Дальневосточная
C) Сибирская
Д) Травяная
E) Озёрная

178. Какая змея «видит» тепло, даже слепая, без слуха и обоняния.

A) Щитомордник
B) А*наконда*
C) Гадюка
D) Аспид
E) Африканский бумсланг

179. Самые высокие деревья в мире



A) Эвкалипты до 187 м.
B) С*еквойя*
C) Ель
D) Пихта
E) *Кипарис*

180. Самое большое дерево

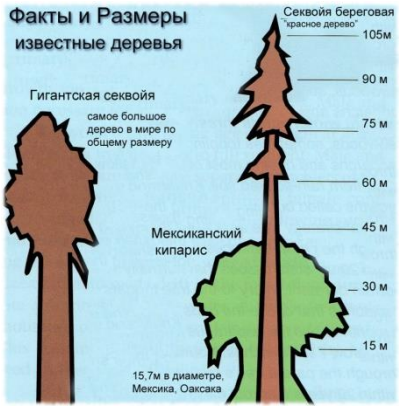

A) Секвойя
B) Ель
C) К*ипарис*
D) Эвкалипт
E) **П**ихта

181. Самая крепкая древесина

A) Железное дерево – «парротия персидская»
B) Пандо
C) Дуб Джурупа
D) Старый Тикко
E) Старый Расмус

182. Самое крупное плавающее растение?

A) «Виктория-регия», ее листья достигают диаметра до 2 м. И могут выдерживать рассредоточенный груз до 50 кг.
B) Водоросли макроцистис, могут достигать 200 метров в длину
C) Нереоцистис, могут достигать 200 метров в длину
D) Морская капуста
E) Большая кувшинка: виктория боливийская — лист диаметром 3 м.

183. Самые большие цветы?

A) «Рафлезия Арнольда»- ее метровый цветок весит до 10 кг
B) Титановый арум
C) Магнолия Кампбелла
D) Талипотовая пальма
E) Гигантский лотос

184. Какая птица выводит птенцов в лютые морозы?

A) Клест
B) Зимородок
C) Дятел
D) Синица
E) Белые совы

185. Какое дерево используют для изготовления лыж?



A) Береза
B) Осина
C) Клен
D) Дуб
E) Ива

186. Слово или словосочетание, которое обозначает строго определенное понятие:
A) Термин
B) Омонимы
C) Синонимы
D) Категории
E) Предикат

187. Есть ли у улитки зубы?

A) Да, улитка имеет 135 рядов зубов, расположенных на языке. Каждый ряд содержит по 105 зубов, в сумме 14175!
B) Нет зубов
C) 100 зубов
D) 80 зубов
E) 40 зубов

188. Назовите средний возраст сосны





A) 120-140 лет
B) 100 лет
C) 110 лет
D) 115 лет
E) 130 лет

189. Выберите причину несостоятельности рассуждения: «Куры летают, так как куры — птицы, а все птицы летают»:
A) Недостоверность аргумента
B) Противоречие в аргументах
C) Недостаточность аргументов
D) Нарушение правил обобщения
E) Нарушение правил ограничения

190. Сколько на каштане в среднем листьев?

A) 19 тысяч
B) 18 тысяч
C) 20 тысяч
D) 10 тысяч
E) 15 тысяч

191. Сколько в среднем листьев на тополе?



A) От 70 тыс. до 119 тыс.
B) От 60 тыс. до 120 тыс.
C) От 50 тыс. до 110 тыс.
D) От 40 тыс. до 119 тыс.
E) От 30 тыс. до 119 тыс.

192. Какого уровня достигает естественный шумовой фон, без которого невозможна

жизнь человека?
A) Допустимая граница громкости - 80-85 децибелов, 130 д. вызывает у человека болевые ощущения, в 150 д. звук становится непереносимым
B) Шелест травы - 10 децибелов
C) Громкая речь - 60-70 децибелов
D) Шум уличного транспорта 80-100 децибелов
E) Максимальный уровень звука не должен превышать 110 дБА, а для импульсного шума - 125 дБА. Запрещается даже кратковременное пребывание в зонах с уровнями звукового давления свыше 135 дБ в любой октавной полосе

193. Какая самая крупная в мире ящерица?

A) Варан с острова Комодо
B) Мегалания (Varanus priscus, [syn. Megalania prisca])
C) Зелёная игуана — длина 1,5 метров, вес – 7 кг.
D) Крокодилы
E) Летучие драконы (лат. Draco) — род ящериц из семейства агамовых, обитающий в Юго-Восточной Азии

194. Самый крупный в мире хищник?

A) Белый медведь
B) Черные кайманы
C) Миссисипский аллигатор
D) Бурые медведи
E) Стаи волков

195. Самое крупное лесное копытное млекопитающее?

A) Лось
B) Горные *козы*
C) З*ебры*
D*) Зайгаки*
E) Кабаны

196. Самое крупное в мире ластоногое млекопитающее?

A) Морж
B) Тангалунга
C) Антарктический тюлень-ююжный морскóй слон (лат. Mirounga leonina)
D) Пятнистая гиена
E) Полосатый мангуст

197. Из какого дерева делают пианино?

A) Из ели
B) Из осины
C) Береза
Д) Клен
E) Дуб

198. Самая крупная в мире бабочка?

A) Агриппина (размах крыльев 27 см.
B) Павлиноглазка геркулес, или косциноцера геркулес (лат. Coscinocera hercules) размах крыльев достигает 27 см.
C) Сатурния павлиноглазка Атлас Атлас - размах крыльев до 26 см.
D) Парусник Маака — с размахом крыльев до 13,5 см.
E) Бражник «мертвая голова» - Размер бабочки 46—60 мм. Размах крыльев - 80-120 мм.

199. Самый сильный из сумчатых на Земле?



A) Сумчатый волк
B) Гигантский кенгуру
C) Виргинский опоссум
D) Тасманийский дьявол
E) Рыжий кенгуру

200. Самое крупное млекопитающее ?

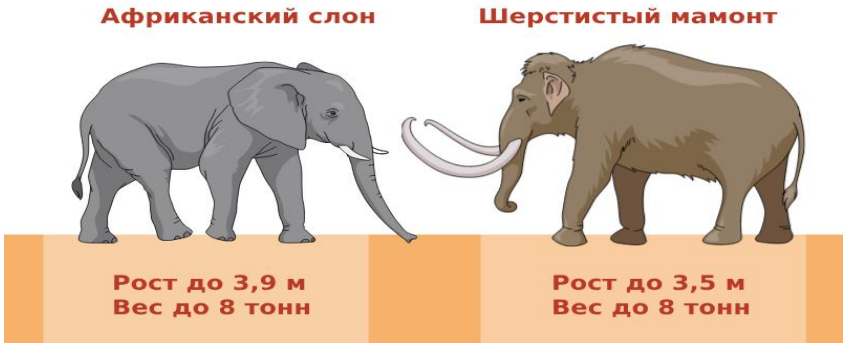

A) Африканский слон - высота 4 м, вес до 7 тонн.
B) Гребнистый крокодил - масса 800 кг.
C) Финвал (Balaenoptera physalus), крупнейшее морское млекопитающее - длина до 26 метров и вес 80 тонн.
D) Кашалот (Physeter macrocephalus) — огромный зубастый хищник, длины до 24 метров и веса до 50 тонн.
E) Белый медведь (Ursus maritimus) — масса 800 кг.

Учебники:

1. Селевко Г.К. Энциклопедия образовательных технологий / Г.К.Селевко. – Москва: Народное образование, 2005. – 535 с.
2. Загашев И.О. Критическое мышление: технология развития / И.О.Загашев. – Санкт-Петербург: Альянс-Дельта, 2003. -284 с.
3. Никита Непряхин, Тарас Пащенко. «Критическое мышление. Железная логика на все случаи жизни». Издательство: Альпина.Дети, 2022.
4. Том Чатфилд «Критическое мышление». Издательство: Альпина.Дети, 2022. ISBN: 978-5-9614-2081-4; Количество страниц: 328.
5. Виктория Шиманская, Никита Карпов “Критическое мышление. Железная логика на все случаи жизни”. Издательство: Альпина.Дети, 2022.

Данное задание требует тщательной проверки информации, самостоятельного решения логических задач.

29. На ферме было два коня, один кролик, один щенок, одна кошка, свинья и поросенок, корова и теленок, индюк и гусь. Пришел хозяин с собакой. Сколько на ферме стало ног?
A) Две
B) 44
C) 46
D) 34
E) 26
F)

Учебники:

1. Селевко Г.К. Энциклопедия образовательных технологий / Г.К.Селевко. – Москва: Народное образование, 2005. – 535 с.
2. Загашев И.О. Критическое мышление: технология развития / И.О.Загашев. – Санкт-Петербург: Альянс-Дельта, 2003. -284 с.

3. Никита Непряхин, Тарас Пащенко. «Критическое мышление. Железная логика на все случаи жизни». Издательство: Альпина.Дети, 2022.
4. Том Чатфилд «Критическое мышление». Издательство: Альпина.Дети, 2022. ISBN: 978-5-9614-2081-4; Количество страниц: 328.
5. Виктория Шиманская, Никита Карпов “Критическое мышление. Железная логика на все случаи жизни”. Издательство: Альпина.Дети, 2022.

Данное задание требует навыков сопоставления фактов, грамотного отбора информации, умения критически оценить происходящее и умения быть рациональным.

30. Кто лишний в этом списке? Сельдь, кит, акула, тунец, треска.

A) Кит
B) Сельдь
C) Акула
D) Тунец
E) Треска

Учебники:

1. Селевко Г.К. Энциклопедия образовательных технологий / Г.К.Селевко. – Москва: Народное образование, 2005. – 535 с.
2. Загашев И.О. Критическое мышление: технология развития / И.О.Загашев. – Санкт-Петербург: Альянс-Дельта, 2003. -284 с.
3. Никита Непряхин, Тарас Пащенко. «Критическое мышление. Железная логика на все случаи жизни». Издательство: Альпина.Дети, 2022.
4. Том Чатфилд «Критическое мышление». Издательство: Альпина.Дети, 2022. ISBN: 978-5-9614-2081-4; Количество страниц: 328.
5. Виктория Шиманская, Никита Карпов “Критическое мышление. Железная логика на все случаи жизни”. Издательство: Альпина.Дети, 2022.

Данное задание требует навыков сопоставления фактов, грамотного отбора информации, умения критически оценить происходящее и умения быть рациональным.