Университет «Мирас»

УТВЕРЖДАЮ
Председатель приемной комиссии
университета «Мирас»
_____Халыкберген Н.Г.
(подпись)
«10» 06 2024 г.

Программа вступительных испытании

По образовательных программе 7М04108 – «Управление и право» (EMBA)

Шымкент 2024 г.

Содержание

1	Термины и определения.....	3
2	Нормативные документы.....	3
3	Общие положения.....	3
4	Порядок организации и проведения собеседования.....	3
5	Проведение вступительных испытаний.....	4
	Приложение 1 Примерные вопросы собеседования.....	6
	Приложение 2 Примерный перечень тестовых вопросов по Блоку «Управление и право».....	7
	Приложение 3 Примерный перечень тестовых вопросов по Блоку «Логика и критическое мышление».....	83

1. Термины и определения

1. Магистратура — ступень высшего образования, следующая после бакалавриата, позволяющая углубить специализацию по определенному профессиональному направлению и предусматривающая качественную подготовку к предстоящей аналитической, научно-исследовательской и консультативной деятельности;

2. ГОСО – Государственный общеобязательный стандарт образования;

3. Образовательная программа – единый комплекс основных характеристик образования, включающий цели, результаты и содержание обучения, организацию образовательного процесса, способы и методы их реализации, критерии оценки результатов обучения;

4. *Учебные достижения обучающихся* – знания, умения, навыки и компетенции обучающихся, приобретаемые ими в процессе обучения и отражающие достигнутый уровень развития личности.

2. Нормативные документы

Программа вступительных испытаний по образовательной программе 7М04108 – «Управление и право» (EMBA) разработана на основе следующих нормативно-правовых актов:

1. Типовых правил приема на обучение в организации образования, реализующие образовательные программы высшего и послевузовского образования;
2. Приказа МНВО от 16 августа 2023 года №406 «Об определении Университета «Мирас» экспериментальной площадкой»;
3. Закона Республики Казахстан «Об образовании» от 27 июля 2007 года № 319-III (с изменениями и дополнениями);
4. Академической политики Университета «Мирас».

3. Общие положения

Прием на образовательную программу магистратуры 7М04108 — «Управление и право» (EMBA) осуществляется по результатам собеседования и (или) тестирования.

Форма вступительного испытания определяется университетом.

Собеседование и тестирование направлены на глубокую оценку мотивации кандидата, его академического и профессионального опыта, лидерских качеств, навыков решения проблем, аналитических и критических способностей, а также коммуникационных навыков.

4 Порядок организации и проведения собеседования

Собеседование проводится в соответствии с расписанием, утвержденным председателем приемной комиссии до начала академического периода.

Собеседование проводится в устной форме и включает развернутые ответы поступающего на заданные вопросы в соответствии с программой собеседования, утвержденной председателем приемной комиссии. На подготовку к ответам и само собеседование поступающему предоставляется не более 15 минут. Каждый поступающий должен ответить не более чем на 5 вопросов.

Во время собеседования запрещается:

- использовать любые справочные материалы (учебники, методические пособия, справочники, любые шпаргалки и т.п.);
- пользоваться средствами сотовой связи.

Эти требования доводятся до сведения поступающих членами комиссии во время инструктажа перед началом собеседования.

Процедура собеседования оформляется протоколом, установленным приемной комиссией (Приложение 4). Результаты собеседования сообщаются поступающему в день его проведения. Выписка из протокола комиссии вкладывается в личное дело поступающего (Приложение 5).

Университет обеспечивает видеозапись или аудиозапись собеседования. Записи хранятся в течение месяца, после чего уничтожаются по акту (Приложение 6) в присутствии председателя приемной комиссии, ответственного секретаря и не менее трех членов комиссии.

Поступающие, не согласные с результатами собеседования, имеют право подать апелляцию.

Для рассмотрения апелляций создается апелляционная комиссия, состоящая из представителей администрации университета и преподавателей, не участвовавших в первичной оценке.

Апелляции подается на имя председателя апелляционной комиссии лично лицом, сдавшим вступительное испытание, до 13.00 часов следующего дня после объявления их результатов и рассматривается апелляционной комиссией в течение одного дня.

Поступающий заполняет форму апелляции (Приложение 7), которая содержит следующие данные:

- Полное имя;
- Контактные данные (номер телефона, электронная почта);
- Дата проведения собеседования;
- Основания для апелляции (конкретные моменты несогласия с результатами, ссылки на критерии оценки).

Решение апелляционной комиссии оформляется в виде протокола (Приложение 8) и доводится до сведения абитуриента в день завершения рассмотрения. Решение апелляционной комиссии является окончательным и пересмотру не подлежит.

5. Проведение вступительных испытаний

1. Вступительные испытания проводятся в рамках настоящей Программы, разработанной на основе рабочих учебных программ дисциплин, входящих в образовательную программу.

2. Вступительное испытание по образовательным программам 7M04108 — «Управление и право» (EMBA) проводится в форме компьютерного тестирования.

3. Проведение вступительного испытания организуется техническими секретарями, назначаемыми приказом ректора университета или уполномоченного лица на период проведения вступительных испытаний.

4. В качестве технических секретарей могут быть назначены преподаватели, сотрудники университета, представители общественных организаций и средств массовой информации, обучающиеся, а также лица, имеющие профильное образование.

5. Для участия во вступительном испытании поступающий предоставляет:

- документ об образовании (с подлинником для сверки);
- при наличии — документ, подтверждающий освоение академических кредитов;
- при наличии — документ, дающий право на освобождение от вступительного испытания.

6. Подача заявлений на участие в испытании осуществляется в течение календарного года через образовательный портал университета. После обработки заявления поступающему направляется уведомление о дате и времени экзамена.

7. Доступ к тестированию предоставляется через систему идентификации личности на образовательном портале университета.

8. Университет обеспечивает возможность дистанционной сдачи вступительного испытания с использованием информационных технологий и видеоконференцсвязи. В целях обеспечения прозрачности и исключения нарушений академической честности осуществляется аудио- и видеозапись процесса тестирования.

9. Записи хранятся в течение одного месяца и подлежат уничтожению по акту с участием председателя экзаменационной комиссии, ответственного секретаря и не менее трёх членов комиссии.

10. Результаты тестирования оформляются в электронной ведомости и передаются ответственному секретарю приёмной комиссии для публикации. Протокол заседания подписывается с использованием цифровой подписи всеми членами комиссии.

11. Результаты вступительного испытания объявляются в день проведения экзамена. Поступающему предоставляется электронный сертификат, сформированный системой автоматически.

12. На период проведения вступительных испытаний создается апелляционная комиссия по приказу ректора или уполномоченного лица. Комиссия формируется из нечетного числа членов и включает председателя.

13. Заявление на апелляцию подается поступающим лично на имя председателя апелляционной комиссии до 13:00 следующего дня после публикации результатов.

14. При подаче апелляции поступающий обязан предъявить удостоверение личности.

15. Апелляционная комиссия рассматривает каждое заявление индивидуально. В случае неявки поступающего заявление не рассматривается.

16. Комиссия рассматривает только вопросы, указанные в апелляционном заявлении.

17. Заседание апелляционной комиссии считается правомочным при наличии не менее 2/3 её состава. Решения принимаются большинством голосов. При равенстве голосов решающим является голос председателя. Результаты оформляются протоколом и подписываются всеми присутствующими членами комиссии

Приложение 1

Примерные вопросы собеседования

1. Мотивация и цели

- Почему вы решили поступить на программу EMBA? Какие у вас цели?
- Какую проблему или задачу вы планируете решить с помощью обучения на EMBA?
- Какие карьерные результаты вы ожидаете достичь после завершения программы?

2. Профессиональный опыт

- Расскажите о вашем текущем или предыдущем опыте работы. Какие ключевые навыки вы приобрели?
- С какими управленческими вызовами вам приходилось сталкиваться на работе?
- Приведите пример проекта, которым вы управляли, и какие результаты были достигнуты?

3. Лидерские и управленческие качества

- Как вы определяете свой стиль лидерства? Как он помогает вам в работе?
- Расскажите о ситуации, когда вам пришлось управлять командой или проектом в условиях неопределенности.
- Как вы решаете конфликты внутри команды?

4. Навыки принятия решений

- Приведите пример сложного решения, которое вам пришлось принять. Какие факторы вы учли?
- Как вы оцениваете риски в процессе принятия управленческих решений?
- Какие инструменты и подходы вы используете для анализа и решения бизнес-задач?

5. Финансовая и стратегическая грамотность

- Какой опыт в управлении бюджетами или финансовыми проектами у вас есть?
- Как вы подходите к разработке и реализации стратегий в компании?
- Какие ключевые индикаторы эффективности (KPI) вы используете в своей работе?

6. Коммуникационные навыки

- Как вы налаживаете и поддерживаете эффективные рабочие отношения с коллегами и партнерами?
- Как вы работаете с обратной связью? Приведите пример, когда критика помогла вам улучшить свои результаты.
- Как вы справляетесь с ситуациями, когда ваша позиция не совпадает с позицией коллег?

7. Глобальный взгляд и адаптивность

- Какой опыт работы в международной среде у вас есть? Как это повлияло на ваше понимание бизнеса?
- Как вы адаптируетесь к быстрым изменениям на рынке и в бизнес-среде?
- Какие современные тенденции в бизнесе или управлении вы считаете наиболее важными?

8. Личностные качества и саморазвитие

- Какие ваши сильные и слабые стороны, и как вы работаете над их улучшением?
- Какую роль самообразование и профессиональное развитие играют в вашей жизни?
- Какая книга или курс повлияли на ваше мышление или подход к работе?

Приложение 2

Примерный перечень тестовых вопросов по Блоку «Управление и право (eMBA)»

1. Что такое управление?
A) Процесс координации и организации деятельности для достижения целей
B) Финансовый учет
C) Производство товаров
D) Юридическое обслуживание
E) Маркетинговая стратегия

2. Кто такой менеджер?
A) Человек, организующий и координирующий работу команды
B) Работник технической службы
C) Финансовый аналитик
D) Юрист компании
E) Продавец-консультант

3. Основная цель управления — это:
A) Достижение поставленных целей организации
B) Разработка рекламы
C) Контроль за бюджетом
D) Повышение цен
E) Регистрация компании

4. Что включает процесс управления?
A) Планирование, организация, мотивация, контроль
B) Только контроль
C) Лишь финансирование
D) Производственные операции
E) Создание отчетов

5. Что такое планирование?
A) Установление целей и определение путей их достижения
B) Составление графиков работы
C) Оптимизация расходов
D) Разработка новой продукции
E) Контроль за проектами

6. Организация в управлении — это:
A) Процесс распределения задач и ресурсов для выполнения плана
B) Создание нового продукта
C) Принятие юридических решений
D) Проведение тренингов
E) Маркетинговое исследование

7. Что такое мотивация?
A) Стимулирование сотрудников на достижение целей
B) Проведение собраний
C) Планирование бюджета

D) Назначение руководителей
E) Анализ рынка

8. Контроль в управлении означает:
A) Сравнение фактических результатов с запланированными
B) Проведение встреч с партнерами
C) Установление заработной платы
D) Создание финансовых отчетов
E) Принятие законов

9. Какая функция менеджмента предполагает оценку эффективности работы сотрудников?
A) Контроль
B) Планирование
C) Организация
D) Мотивация
E) Координация

10. Что такое делегирование?
A) Передача задач и полномочий от руководителя подчиненным
B) Увольнение сотрудников
C) Распределение прибыли
D) Финансирование проектов
E) Проведение собраний

11. Какой стиль руководства предполагает участие сотрудников в принятии решений?
A) Демократический
B) Авторитарный
C) Либеральный
D) Бюрократический
E) Харизматический

12. Что означает термин "мотивация" в контексте управления?
A) Побуждение сотрудников к эффективной работе
B) Назначение на должность
C) Проведение собраний
D) Разработка стратегии
E) Установление цен

13. Какой документ определяет миссию и цели организации?
A) Стратегический план
B) Финансовый отчет
C) Маркетинговое исследование
D) Техническое задание
E) Должностная инструкция

14. Что такое контроль в процессе управления?
A) Сравнение фактических результатов с плановыми
B) Назначение руководителей
C) Разработка новых продуктов

D) Проведение рекламных кампаний
E) Обслуживание клиентов

15. Какой стиль руководства характеризуется жестким контролем и единоличным принятием решений?
A) Авторитарный
B) Демократический
C) Либеральный
D) Харизматический
E) Трансформационный

16. Что такое делегирование полномочий?
A) Передача задач и ответственности подчиненным
B) Повышение заработной платы
C) Назначение на руководящую должность
D) Проведение тренингов
E) Разработка корпоративной стратегии

17. Какой из перечисленных факторов относится к внутренней среде организации?
A) Корпоративная культура
B) Экономическая ситуация в стране
C) Законодательные изменения
D) Рыночная конкуренция
E) Технологические тенденции

18. Что такое стратегическое управление?
A) Долгосрочное планирование и реализация целей организации
B) Ежедневное руководство персоналом
C) Финансовый учет и отчетность
D) Организация корпоративных мероприятий
E) Техническое обслуживание оборудования

19. Какой из следующих методов относится к административным методам управления?
A) Издание приказов и распоряжений
B) Предоставление бонусов
C) Проведение тренингов
D) Организация тимбилдингов
E) Разработка маркетинговых стратегий

20. Что такое организационная структура?
A) Система распределения ролей, обязанностей и связей в организации
B) Финансовый план компании
C) Маркетинговая стратегия
D) Техническое оборудование
E) Рекламная кампания

21. Как называется процесс привлечения и выбора сотрудников для компании?
A) Рекрутинг
B) Мотивация
C) Обучение

D) Адаптация
E) Оценка

22. Что из перечисленного является основным мотиватором для работников на рабочем месте?
A) Заработная плата
B) Разнообразие задач
C) Социальные гарантии
D) Рейтинг компании
E) Престиж профессии
23. Что такое "корпоративная культура"?
A) Совокупность ценностей и норм, которые разделяются сотрудниками компании
B) Описание производственных процессов
C) Структура отдела кадров
D) Организация тренингов и семинаров
E) Режим работы компании

24. Какой тип лидерства основан на авторитарном управлении?
A) Авторитарный стиль
B) Демократичный стиль
C) Либеральный стиль
D) Ситуационный стиль
E) Партнерский стиль

25. Что такое "мотивация на основе вознаграждения"?
A) Мотивация, основанная на бонусах и премиях
B) Мотивация, основанная на личной инициативе
C) Мотивация, основанная на критике
D) Мотивация, основанная на командной работе
E) Мотивация, основанная на обучении

26. Как называется процесс, в ходе которого сотрудники компании обучаются новым навыкам?
A) Обучение
B) Привлечение
C) Адаптация
D) Оценка
E) Развитие

27. Какой фактор не является основным при создании эффективной команды?
A) Отсутствие конкуренции между участниками
B) Командный дух
C) Совместное принятие решений
D) Хорошая коммуникация
E) Личные амбиции

28. Что из перечисленного является показателем эффективности работы персонала?
A) Выполнение поставленных задач в срок
B) Уровень зарплаты
C) Количество отпусков

D) Частота штрафов
E) Продолжительность рабочего дня

29. Что такое "оценка персонала"?
A) Процесс анализа работы сотрудников для определения их вклада в компанию
B) Процесс увольнения сотрудников
C) Процесс повышения заработной платы
D) Процесс организационной реорганизации
E) Процесс подачи заявок на повышение

30. Какой метод используется для повышения квалификации сотрудников?
A) Обучающие курсы и тренинги
B) Регулярные собрания
C) Публичные выступления
D) Рабочие поездки
E) Личное наставничество

31. Что из перечисленного является основным способом разрешения конфликта в коллективе?
A) Диалог и компромисс
B) Увольнение конфликтующих сторон
C) Игнорирование проблемы
D) Увеличение заработной платы
E) Назначение наказания

32. Какую роль играет администратор в решении конфликта между сотрудниками?
A) Медиатор и координатор решения конфликта
B) Наблюдатель
C) Участник конфликта
D) Эксперт по выбору сторон
E) Лидер команды

33. Какой стиль поведения в конфликтной ситуации предполагает стремление к максимальному удовлетворению интересов всех сторон?
A) Сотрудничество
B) Противостояние
C) Принуждение
D) Уход
E) Компромисс

34. Какой метод разрешения конфликта характеризуется временным уходом от проблемы?
A) Уход
B) Примирение
C) Арбитраж
D) Принуждение
E) Переговоры

35. В каком случае конфликт на рабочем месте может привести к улучшению ситуации?
A) Когда стороны находят взаимопонимание и начинают работать эффективнее
B) Когда одна из сторон проигрывает

C) Когда конфликт длится длительное время
D) Когда конфликт не решается
E) Когда конфликт затягивается

36. Что из перечисленного является важным элементом эффективного управления компанией?
A) Четкая постановка целей и задач
B) Частые корпоративные мероприятия
C) Постоянное увеличение прибыли без изменений в процессе
D) Строгая иерархия без возможности обсуждения
E) Игнорирование мнений сотрудников

37. Какая из следующих стратегий управления компанией наиболее эффективна для повышения производительности?
A) Установление четких и реалистичных целей для сотрудников
B) Постоянное повышение зарплаты без изменений в процессе
C) Увеличение рабочего времени сотрудников
D) Полная централизация принятия решений
E) Отсутствие анализа работы команды

38. Какой из стилей управления в организации предполагает делегирование полномочий и вовлечение сотрудников в процесс принятия решений?
A) Демократичный стиль
B) Авторитарный стиль
C) Либеральный стиль
D) Командный стиль
E) Критический стиль

39. Что из перечисленного не является примером эффективной коммуникации в управлении компанией?
A) Открытое обсуждение проблем и решений с командой
B) Отсутствие обратной связи
C) Регулярные встречи с сотрудниками для обмена мнениями
D) Прямое и четкое изложение мыслей
E) Применение активного слушания

40. Какой подход в управлении компанией помогает предотвратить появление конфликтов?
A) Прозрачность и открытость в коммуникациях
B) Игнорирование мнений сотрудников
C) Постоянное давление на сотрудников
D) Разделение сотрудников на конкурентные группы
E) Отсутствие гибкости в принятии решений

41. Что из перечисленного является основным элементом успешного бизнеса?
A) Четкое планирование и стратегия
B) Большие финансовые вложения
C) Высокая заработная плата сотрудников
D) Регулярные праздники для команды
E) Ограничение на риски

42. Какая из следующих задач является частью процесса управления бизнесом?
A) Определение долгосрочных целей компании
B) Игнорирование изменений на рынке
C) Принятие решения только на основе интуиции
D) Увеличение расходов без анализа
E) Отказ от оценки эффективности

43. Какое из следующих утверждений верно для успешной бизнес-стратегии?
A) Стратегия должна быть гибкой и адаптируемой
B) Стратегия должна быть зафиксированной и неизменной
C) Стратегия не должна учитывать риски
D) Стратегия не требует участия команды
E) Стратегия не должна учитывать изменения в потребностях клиентов
44. Что важно при управлении командой в бизнесе?
A) Умение эффективно делегировать задачи
B) Постоянный контроль над каждым шагом сотрудника
C) Игнорирование мнений сотрудников
D) Применение жесткой дисциплины без учета ситуации
E) Неучастие в процессе принятия решений

45. Какую роль в бизнесе играет маркетинг?
A) Обеспечение привлечения и удержания клиентов
B) Управление финансами компании
C) Контроль за соблюдением трудового законодательства
D) Разработка корпоративной культуры
E) Обучение сотрудников новым навыкам

46. Какая из функций бизнеса включает в себя управление производственными процессами?
A) Операционное управление
B) Маркетинг
C) Финансовое планирование
D) Стратегическое руководство
E) Обучение сотрудников

47. Что из следующего является примером стратегического планирования в бизнесе?
A) Разработка долгосрочных целей компании
B) Определение ежедневных задач для сотрудников
C) Увеличение рабочей недели сотрудников
D) Установка фиксированной цены на все товары
E) Отказ от конкурентного анализа

48. Какой из факторов имеет наибольшее влияние на рост бизнеса?
A) Инновации и адаптация к рынку
B) Высокая стоимость продукции
C) Отсутствие маркетинга
D) Ограничение в ресурсах
E) Ригидная структура компании

49. Что важно для построения успешных деловых отношений с партнерами?
A) Открытость и доверие

B) Принуждение к сотрудничеству
C) Отсутствие интереса к мнению партнера
D) Постоянные угрозы и давление
E) Игнорирование изменений в партнерских отношениях

50. Какое из утверждений соответствует эффективному управлению рисками в бизнесе?
A) Идентификация рисков и разработка планов их минимизации
B) Игнорирование возможных рисков для ускорения принятия решений
C) Принятие рисков без предварительного анализа
D) Игнорирование анализа рынка и конкурентов
E) Увеличение рисков для получения более высокой прибыли

51. Какой орган уполномочен на реализацию государственной политики в сфере государственной службы?
A) Агентство по делам государственной службы
B) Министерство труда и социальной защиты
C) Правительство РК
D) Аппарат Президента РК
E) Счетный комитет

52. Что входит в понятие государственной службы?
A) Профессиональная деятельность по исполнению государственных функций
B) Выполнение частных заказов от государства
C) Работа в коммерческой организации
D) Депутатская деятельность
E) Деятельность волонтеров

53. Что означает принцип меритократии в госслужбе?
A) Продвижение по заслугам и компетенциям
B) Назначение по семейным связям
C) Продвижение по возрасту
D) Назначение по партийной принадлежности
E) Продвижение по выслуге лет

54. Кто имеет право на поступление на государственную службу?
A) Граждане Республики Казахстан, соответствующие установленным требованиям
B) Любые иностранцы
C) Только представители определённых партий
D) Лица с высшим военным образованием
E) Несовершеннолетние

55. Что является обязанностью государственного служащего?
A) Соблюдать Конституцию и законы Республики Казахстан
B) Следовать указаниям без ограничений
C) Работать без оплаты
D) Участвовать в политической деятельности в рабочее время
E) Использовать служебное положение в личных целях

56. Что представляет собой конфликт интересов в государственной службе?
A) Ситуация, при которой личные интересы противоречат служебным обязанностям
B) Любое несогласие с руководством

C) Разногласия между коллегами
D) Нарушение закона
E) Пренебрежение служебными обязанностями

57. Каков основной источник финансирования государственной службы?
A) Государственный бюджет
B) Пожертвования физических лиц
C) Благотворительные фонды
D) Международные организации
E) Частные инвесторы

58. Какая ответственность предусмотрена за нарушение законодательства о государственной службе?
A) Дисциплинарная, административная и уголовная ответственность
B) Только моральная ответственность
C) Только административная ответственность
D) Отсутствие ответственности
E) Только материальная ответственность

59. Какие сведения относятся к государственной тайне?
A) Информация, доступ к которой ограничен законом
B) Любая служебная информация
C) Открытая информация
D) Данные о зарплате всех служащих
E) Информация о семейном положении

60. Какие основания для прекращения государственной службы предусмотрены?
A) По собственному желанию, в связи с нарушением, по достижении пенсионного возраста
B) Только увольнение по инициативе работодателя
C) Исключительно по болезни
D) Только по решению суда
E) По семейным обстоятельствам

61. Что является основным принципом государственной службы?
A) Законность и профессионализм
B) Лояльность к работодателю
C) Прибыль и эффективность
D) Индивидуальная инициатива
E) Неограниченная власть

62. Каковы требования к кандидатам на государственную службу?
A) Гражданство РК, наличие необходимого образования и опыта
B) Любое гражданство и стаж работы
C) Только высшее образование
D) Только опыт в частном секторе
E) Опыт работы в фирме

63. Что регулирует служебная дисциплина в государственной службе?
A) Порядок исполнения должностных обязанностей и соблюдение правил поведения
B) Количество рабочих часов в неделю

C) Только оплату труда
D) Личный распорядок дня
E) Взаимоотношения в семье

64. Как осуществляется подбор кадров на государственную службу?
A) Через конкурсные процедуры и профессиональный отбор
B) По рекомендации родственников
C) По решению работодателя без конкурсного отбора
D) Через политические партии
E) По результатам лотереи

65. Какие меры применяются в случае нарушения этики государственной службы?
A) Вынесение замечания, выговора или увольнение
B) Наложение штрафа работодателем
C) Привлечение к уголовной ответственности
D) Запрет на работу в частном секторе
E) Публичное порицание

66. Какая информация о государственном служащем считается конфиденциальной?
A) Личные данные и сведения о здоровье
B) Информация, опубликованная в СМИ
C) Общедоступные сведения о должности
D) Информация, размещенная на официальных сайтах
E) Открытые отчёты

67. Что такое коррупция?
A) Злоупотребление властью для личной выгоды
B) Строгое соблюдение закона
C) Помощь коллегам
D) Государственное управление
E) Официальное распоряжение

68. Какой нормативный акт регулирует антикоррупционную деятельность в РК?
A) Закон РК «О противодействии коррупции»
B) Конституция РК
C) Закон РК «О государственной службе»
D) Трудовой кодекс
E) Предпринимательский кодекс

69. Что понимается под конфликтом интересов?
A) Противоречие между личными и служебными интересами
B) Взаимопомощь между коллегами
C) Служебная необходимость
D) Дружеские отношения
E) Спор о зарплате

70. Кто несет ответственность за коррупционные действия?
A) Все лица, независимо от должности
B) Только чиновники
C) Только депутаты
D) Только госслужащие

E) Только судьи

71. Что способствует снижению коррупции?
A) Прозрачность работы госорганов
B) Сокрытие информации
C) Закрытые заседания
D) Низкая отчетность
E) Отказ от контроля

72. Какое из перечисленного не является формой коррупции?
A) Добровольное пожертвование на благотворительность
B) Вымогательство взятки
C) Дача взятки
D) Покровительство
E) Присвоение имущества

73. Кто может сообщить о факте коррупции?
A) Любой гражданин
B) Только сотрудник правоохранительных органов
C) Только чиновник
D) Только депутат
E) Только юрист

74. Какая мера может применяться к юридическим лицам за коррупцию?
A) Ликвидация
B) Увольнение директора
C) Назначение нового бухгалтера
D) Предупреждение
E) Отзыв лицензии

75. Какова роль СМИ в борьбе с коррупцией?
A) Освещение фактов и профилактика
B) Уклонение от темы
C) Только развлечение
D) Манипуляция фактами
E) Информирование о погоде

76. Что должно содержаться в антикоррупционной политике организации?
A) Механизмы выявления и предупреждения коррупции
B) Список сотрудников
C) Бюджет организации
D) График отпусков
E) План мероприятий

77. Что означает принцип «нулевой терпимости к коррупции»?
A) Безусловное наказание за любые проявления коррупции
B) Игнорирование мелких нарушений
C) Только предупреждение
D) Применение только штрафов
E) Освобождение от ответственности по заявлению

78. Что такое государственное управление?
A) Деятельность органов государственной власти по реализации публичных функций
B) Частная предпринимательская деятельность
C) Работа международных организаций
D) Производственная функция
E) Деятельность общественных объединений

79. Что является основным субъектом государственного управления?
A) Органы исполнительной власти
B) Политические партии
C) Средства массовой информации
D) Частные компании
E) Профсоюзы

80. Что означает принцип подотчетности в государственном управлении?
A) Обязанность органов власти отчитываться перед обществом и вышестоящими органами
B) Передача полномочий в частные руки
C) Самостоятельность органов
D) Принцип конфиденциальности
E) Финансовая независимость

81. Что входит в механизмы государственного управления?
A) Органы власти, правовые акты, управленческие решения
B) Акции и облигации
C) Реклама и пиар
D) Личное мнение
E) Программы обмена

82. Какой документ определяет стратегические цели государства?
A) Государственная программа развития
B) Отчет о доходах
C) Обращение гражданина
D) Постановление акимата
E) Финансовая сводка

83. Что такое децентрализация?
A) Передача части полномочий от центральных органов власти к местным
B) Усиление централизации управления
C) Сокращение количества работников
D) Контроль за частным сектором
E) Ликвидация местных органов

84. На кого распространяется дисциплинарная ответственность?
A) Работникам, нарушившим трудовую дисциплину
B) Лицам, совершившим преступление
C) Лицам, нарушившим контрактные обязательства
D) Лицам, совершившим гражданские правонарушения
E) Лицам, нарушившим обязанности по содержанию семьи

85. Что такое административная реформа?

A) Изменение структуры и функций государственных органов для повышения их эффективности
B) Перевыборы в парламент
C) Введение чрезвычайного положения
D) Изменение состава правительства
E) Присоединение к международной организации

86. Что является ключевым принципом электронного правительства?
A) Повышение доступности и прозрачности госуслуг через интернет
B) Отмена всех бумажных документов
C) Закрытие госорганов
D) Использование зарубежного программного обеспечения
E) Расширение полномочий банков

87. К какому типу государства относится Республика Казахстан согласно Конституции?
A) Унитарное, светское, правовое и демократическое
B) Федеративное, монархическое
C) Светское, теократическое
D) Религиозное и военное
E) Имперское и традиционное

88. Через какие каналы можно сообщить о коррупции?
A) Горячие линии, интернет-платформы
B) Только письма в прокуратуру
C) Только лично в суд
D) Только по указу акима
E) Только в штаб-квартиру партии

89. Что такое административное правонарушение?
A) Противоправное, виновное действие или бездействие, посягающее на общественный порядок
B) Действие, нарушающее уголовное право
C) Дисциплинарное проступок
D) Личное мнение
E) Гражданско-правовой спор

90. Что такое присяга государственного служащего?
A) Торжественное обещание соблюдать законы и интересы народа
B) Обычная форма заявления
C) Устная беседа
D) Секретный документ
E) Финансовый отчет

91. Какая этическая норма обязательна для госслужащего?
A) Соблюдение принципов служебной этики
B) Участие в бизнесе
C) Раскрытие служебной информации
D) Предпочтение родственных связей
E) Нейтралитет в работе

92. Что означает служебная этика госслужащего?

A) Совокупность морально-этических норм и правил поведения
B) Умение контролировать коллег
C) Четкое соблюдение бюджета
D) Защита личных интересов
E) Обязательное участие в выборах

93. Цель Кодекса этики государственных служащих —
A) Обеспечение доверия общества к государственной службе
B) Обязательная отчетность перед СМИ
C) Расширение полномочий служащих
D) Развитие политических структур
E) Разделение госвласти и бизнеса

94. Какой принцип государственной службы предполагает профессионализм и постоянное повышение квалификации?
A) Компетентность
B) Легкомыслие
C) Необязательность
D) Случайность
E) Формализм

95. Принцип, который требует от государственных служащих сохранения государственной тайны —
A) Конфиденциальность
B) Открытость
C) Разглашение
D) Публичность
E) Обнародование

96. Что такое портал «Электронное правительство» (egov.kz)?
A) Единственная платформа для получения электронных государственных услуг в РК
B) Социальная сеть для госслужащих
C) Онлайн-магазин
D) База данных налогоплательщиков
E) Платформа для онлайн обучения

97. Что такое электронная цифровая подпись (ЭЦП)?
A) Средство подтверждения личности и подписания электронных документов
B) Программа для работы с текстом
C) Система видеонаблюдения
D) Электронный кошелек
E) Виртуальная карта

98. Каковы задачи электронного правительства?
A) Повышение эффективности госуправления и улучшение качества услуг
B) Только сбор налогов
C) Мониторинг соцсетей
D) Только ведение статистики
E) Увеличение бюрократии

99. Что такое правовой нигилизм?

A) Отрицание значимости права и правовых норм
B) Полное соблюдение закона
C) Активное участие в выборах
D) Борьба с коррупцией
E) Повышение правовой грамотности

100. Что такое правовой институт?
A) Совокупность правовых норм и организаций, регулирующих определенную сферу общественных отношений
B) Только университеты
C) Только суды
D) Только государственные органы
E) Только общественные движения

Приложение 3

Примерный перечень тестовых вопросов по Блоку «Логика и критическое мышление»

1. Имеется перекрёсток двух дорог. Вдоль каждой из улиц перекрёстка можно посадить по 11 деревьев. Вдоль одной улицы, образующей перекрёсток, нужно посадить 11 деревьев, а вдоль второй улицы, образующей перекрёсток еще 11 деревьев. Какое минимальное количество деревьев нужно посадить на двух улицах, образующих перекресток?

A) Количество деревьев 21
B) Количество деревьев 23
C) Количество деревьев 15
D) Количество деревьев 17
E) Количество деревьев 19



2. Тетрадь дешевле ручки, но дороже карандаша. Что дешевле?

A) Дешевле карандаш
B) Дешевле ручка
C) Дешевле тетрадь
D) Дешевле книга
E) Дешевле Закраска

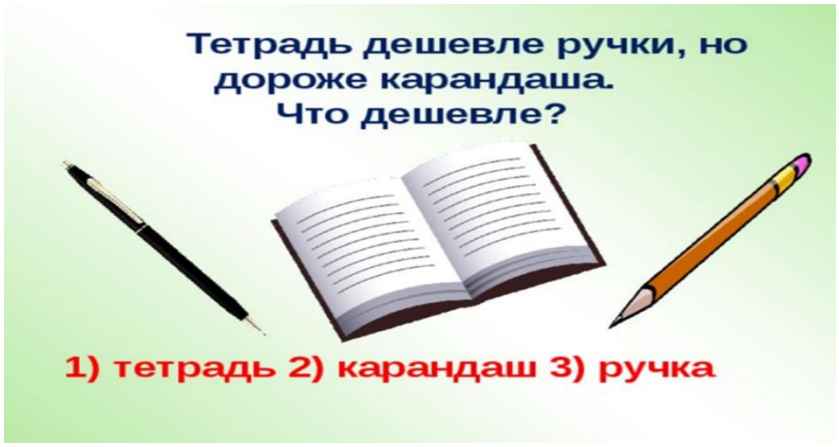

3. Отца одного гражданина зовут Николай Петрович, а сына – Алексей Владимирович. Как зовут гражданина?

A) Владимир Николаевич
B) Николай Владимирович
C) Алексей Владимирович
D) Николай Петрович
E) Алексей Петрович

4. Ваня живет выше Пети, но ниже Сени, а Коля живет ниже Пети. На каком этаже четырёхэтажного дома живёт каждый из них?

A) 1 этаж – Коля, 2 этаж – Петя, 3 этаж – Ваня, 4 этаж – Сеня
B) 1 этаж – Ваня, 2 этаж – Коля, 3 этаж – Сеня, 4 этаж – Петя
C) 1 этаж – Петя, 2 этаж – Коля, 3 этаж – Сеня, 4 этаж – Ваня
D) 1 этаж – Коля, 2 этаж – Ваня, 3 этаж – Сеня, 4 этаж – Петя
E) 1 этаж – Сеня, 2 этаж – Петя, 3 этаж – Ваня, 4 этаж – Коля

5. Двое подошли к реке. Лодка, на которой можно переправиться, выдерживает массу только одного человека! И все же, без посторонней помощи, они переправились на этой лодке. Как им это удалось?

A) Двое были на разных берегах реки. Сначала переправился один, а потом другой.
B) Двое были на одном берегу реки. Один переправился на лодке, другой - вплавь. Временами менялись местами.
C) Двое были на одном берегу реки. Оба переправились на лодке.
D) Двое были на одном берегу реки. Оба переправились вплавь.
E) Двое были на разных берегах реки. Никто переправился.

6. Полтора лимона стоят 150 теңге. Сколько стоят 10 лимонов?

A) 1000 теңге
B) 150 теңге
C) 200 теңге
D) 300 теңге
E) 1500 теңге

7. За книгу заплатили 1000 теңге и ещё половину стоимости книги. Сколько стоит книга?

A) Ответ: 2000 теңге
B) Ответ: 1000 теңге
C) Ответ: 3000 теңге
D) Ответ: 4000 теңге
E) Ответ: 5000 теңге

8. Каждую минуту от бревна отпиливают метровый кусок. За сколько минут распилят на такие куски бревно длиной 6 метров?

A) Ответ: Бревно распилят за 5 минут
B) Ответ: Бревно распилят за 10 минут
C) Ответ: Бревно распилят за 15 минут
D) Ответ: Бревно распилят за 20 минут
E) Ответ : Бревно распилят за 30 минут

9. Что тяжелее: килограммовая гиря или килограмм шариков?

A) Ответ: между ними равный вес
B) Ответ: килограммовая гиря тяжелее
C) Ответ: тяжелее килограмм шариков
D) Ответ: сначала будет равный вес, но постепенно, из-за того, что шарики имеют больший объём, на них действует бóльшая архимедова сила - чаша весов с ними будет выше.
E) Ответ: сначала будет равный вес, но масса у них разная, поэтому постепенно гири будут давить (с учетом архимедовой силы).

10. Сосчитай-ка! Ехал автобус. В нем сидело 5 человек. На остановке вошло 6 человек. На следующей вышли 4 человека и зашло 2, на следующей вышли 3 человека и зашло 4, на следующей никто не вышел, но зашло 8 человек, на следующей вышли 6 человек и зашёл 1, на следующей вышло 5, зашло 4. Сколько было остановок?

A) 8
B) 9
C) 7
D) 6
E) 5

11. Представьте, что у Вас 5 палочек. Сколько станет палочек, если разломать две из них на половинки?

A) Семь палочек.
B) Три палочки.
C) Пять палочек.
D) Десять палочек.
E) Одиннадцать палочек.

12. В одной семье у каждой из двух сестёр по три брата. Сколько всего детей в семье? Если у каждой сестры по три брата, то сколько в семье мальчиков?

A) Ответ: 5 детей: три мальчика и две девочки.
B) Ответ: 8 детей: шесть мальчиков и две девочки.
C) Ответ: 6 детей: три мальчика и три девочки.

D) Ответ: 7 детей: три мальчика и четыре девочки.
E) Ответ: 9 детей: пять мальчиков и четыре девочки.

13. В магазин пошли 4 мальчика: Дима, Коля, Никита и Андрей, по пути в магазин они нашли 4000 теңге. Сколько бы денег нашёл Никита, если бы пошёл в магазин один?

A) Ответ: 4000 теңге.
B) Ответ: 2000 теңге.
C) Ответ: 16000 теңге.
D) Ответ: 12000 теңге.
E) Ответ: 1000 теңге.

14. Сколько живут насекомые-однодневки “поденки”?

A) Ответ: 1 день
B) Ответ: 1 месяц
C) Ответ: 1 год
D) Ответ: 1 неделя
E) Ответ: 10 лет

15. Во дворе были куры и овцы. У них 3 головы и 8 ног. Сколько было кур и сколько овец?

A) Ответ: 2 курицы и 1 овца.
B) Ответ: 3 курицы и 2 овцы.
C) Ответ: 2 курицы и 2 овцы.
D) Ответ: 3 курицы и 3 овцы.
E) Ответ: 1 курица и 2 овцы.

16. Когда моему отцу было 31 год, мне было 8 лет, а теперь отец старше меня вдвое. Сколько мне лет теперь?

A) Ответ: 23, отцу 46.
B) Ответ: 16, отцу 40.
C) Ответ: 18, отцу 42.
D) Ответ: 20, отцу 40.
E) Ответ: 22, отцу 44.

17. Брату 14 лет, а сестре 10. Сколько лет будет брату, когда сестре будет столько, сколько ему сейчас?

A) Ответ: 18 лет.
B) Ответ: 16 лет.
C) Ответ: 20 лет.
D) Ответ: 22 лет.
E) Ответ: 21 лет.

18. Какое насекомое самое быстрое?

A) Ответ: Жук-скакун
B) Ответ: Таракан
C) Ответ: Улитка
D) Ответ: Муравьи
E) Ответ: Сороконожка

19. Рассеянный мальчик вышел из дома и пошел к своему другу Андрею. Расстояние между их домами 2 км. Когда он прошел половину пути и сел отдохнуть, то вспомнил, что забыл дома книгу. Мальчик вернулся домой, взял книгу и снова пошел к Андрею. Когда он подошел к дому Андрея, то вспомнил, что забыл сумку на том месте, где присел чуть отдохнуть. Мальчику пришлось вернуться за сумкой и снова идти к другу. Когда он пришел к Андрею, то понял, что вместо двух километров прошел гораздо больше. Сколько километров прошел мальчик?

A) Ответ: 6 км.
B) Ответ: 2 км.
C) Ответ: 4 км.
D) Ответ: 7 км.
E) Ответ: 8 км.

20. Две матери, две дочки и бабушка с внучкой. Сколько всех?

A) Ответ: 3
B) Ответ: 6
C) Ответ: 4
D) Ответ: 5
E) Ответ: 7

21. Чтобы разрезать бревно на 2 части, нужно уплатить за работу 1000 теңге. Сколько стоит работа по разрезанию бревна на 4 части?

A) Ответ: 3000 теңге.
B) Ответ: 4000 теңге.
C) Ответ: 2000 теңге.
D) Ответ: 1000 теңге.
E) Ответ: 5000 теңге.

22. На подоконнике лежали 8 зеленых помидоров. Через три дня они покраснели. Сколько зеленых помидоров осталось?

A) 0
B) 8
C) 16
D) 4
E) 2

23. Два маляра могут перекрасить две комнаты за два часа. Сколько потребуется маляров, чтобы покрасить 18 комнат за шесть часов?

A) 6
B) 24
C) 8
D) 18
E) 12

23. Ваня с Колей старше Сережи и Саши. Сережа и Саша старше Пети. Кто из мальчиков моложе всех?

A) Петя
B) Саша
C) Сережа
D) Ваня
E) Коля

25. В квартире живут собаки и кошки. Из всех животных только одно не является собакой, при этом все питомцы, кроме одного, — кошки. Сколько всего кошек и собак?

A) Одна собака и одна кошка
B) Три собаки и одна кошка
C) Одна собака и три кошки
D) Четыре собаки и много кошек
E) Две собаки и две кошки

26. У Маши и Вани по 9 леденцов. Маша съела 4 леденца. Ваня сделал тоже самое. Сколько леденцов осталось у Вани?

A) 5
B) 2
C) 0
D) 1
E) 3

27. Если вы принимаете участие в гонке и обошли человека, который был на третьем месте, то какое место займете вы?

A) Третье
B) Первое
C) Второе
D) Четвертое
E) Пятое

28.Сколько раз можно вычесть 2 из 100?

A) 1 раз, 100-2=98. Последующие вычитания уже будут не из 100.

B) 10
C) 100
D) 0
E) 25
F) 50

29. На ферме было два коня, один кролик, один щенок, одна кошка, свинья и поросенок, корова и теленок, индюк и гусь. Пришел хозяин с собакой. Сколько на ферме стало ног?

A) Две
B) 44
C) 46
D) 34
E) 26

30. Кто лишний в этом списке? Сельдь, кит, акула, тунец, треска.

A) Кит
B) Сельдь
C) Акула
D) Тунец
E) Треска

31. Может ли это быть?
Одного человека спросили:
— Сколько вам лет?
— Я старше некоторых моих родственников в шестьсот раз — ответил он.
Может ли это быть правдой?

A) Если деду 50 лет, а его внуку 1 месяц, то дед старше внука в 600 раз.
B) Если деду 50 лет, а его внуку 1 месяц, то дед старше внука в 50 раз.
C) Если деду 50 лет, а его внуку 1 месяц, то дед старше внука в 100 раз.
D) Если деду 50 лет, а его внуку 1 месяц, то дед старше внука в 200 раз.
E) Если деду 50 лет, а его внуку 1 месяц, то дед старше внука в 60 раз.

32. У семерых братьев на каждого по одной сестрице.
Сколько сестриц всего?

A) Одна
B) Семеро
C) Трое

D) Пятеро
E) Шесть

33. Летела стая гусей, одного убили.
Сколько осталось?

A) Остался один убитый, остальные улетели
B) Два
C) Три
D) Десять
E) Пять.

34. Летела стая уток: одна утка впереди, а две позади; одна позади и две впереди; одна между двумя и три в ряд. Сколько всего было уток?

A) 3 утки
B) 10 уток
C) 4 уток
D) 5 уток
E) 1 утка.



35. Ты да я, да мы с тобою.
Много ли нас?

A) Двое
B) Трое
C) Семеро
D) Десять
E) Один

36. Сын с отцом, да сын с отцом, да дедушка с внуком.
Много ли их было?

A) Трое
B) Двое
C) Семеро
D) Десять
E) Один

37. Шли гурьбой: тёща с зятем да муж с женой,
Мать с дочерью да бабушка с внучкой, да дочь с отцом.
Много ли всех?

A) Четверо
B) Двое
C) Трое
D) Семеро
E) Один

38. На груше росло 37 груш, а на иве меньше. Сколько груш росло на иве?

A) Груши на иве не растут

B) Бесконечное количество
C) 37
D) Много
E) 100

39. Сколько часов вместе длятся день и ночь?
A) 24 часа.
B) 48 часов.
C) 72 часов.
D) 12 часов.
E) 10 часов.

40. Последний дом на одной из сторон улицы имеет номер 27. Сколько всего домов на этой стороне улицы?
A) 14
B) 100
C) 27
D) 13
E) 12

41. Два лыжника выехали одновременно навстречу друг другу. Первый ехал до встречи 2 часа. Сколько времени ехал до встречи второй лыжник?
A) 2 часа
B) 0 минут
C) 1 час
D) 4 часа
E) 3 часа



42. Две девочки идут из школы домой, а навстречу им три мальчика. Сколько всего детей идет домой?
A) 2
B) 5
C) 7
D) 10
E) 1

43. На столе лежит яблоко. Его разделили на 4 части. Сколько яблок лежит на столе?

A) 1
B) 2
C) 4
D) 5
E) 0



44. Летели три страуса. Охотник одного подстрелил. Сколько страусов осталось?

A) 0
B) 3
C) 2
D) 1
E) 4

45. У девочки 5 яблок. Она съела все, кроме 3. Сколько яблок у нее осталось?

A) 3
B) 1
C) 2
D) 4
E) 5

46. Почему тараканы не болеют заразными болезнями, ползая по грязным местам?

A) Мозги тараканов содержат антибиотики.
B) Кольчугообразная кожа таракана защищает его от зараз.
C) Усы таракана сразу обезвреживают заразу.
D) Крылья таракана защищают его от зараз.
E) Организм таракана с ходу убивает любую внешнюю заразу.

47. У трех братьев по одной сестре. Сколько всего детей в семье?

A) 4
B) 5
C) 1
D) 2
E) 3

48. Поле пахали 6 тракторов.
2 из них остановились.
Сколько тракторов в поле?

A) 6
B) 1
C) 2
D) 3
E) 4

50. В комнате 4 угла. В каждом углу сидит кошка. Напротив каждой кошки сидят по 3 кошки. Сколько всего кошек в комнате?

A) 4
B) 1
C) 2
D) 3
E) 5

51. У палки 2 конца. Если один отпилить, то сколько останется концов?

A) 2
B) 1
C) 3
D) 0
E) 4

52. Петух, стоя на одной ноге, весит 3 кг. Сколько он будет весить, стоя на двух ногах?

A) 3кг.
B) 1кг.
C) 2кг.
D) 4кг.
E) 0 кг.

53. Тройка лошадей в час пробежала 24 км. Сколько километров пробежала каждая лошадь?

A) 24 км
B) 0 км.
C) 12 км
D) 2 км
E) 10 км

53. Одно яйцо нужно варить 5 минут. Сколько времени потребуется, чтобы сварить 6

таких яиц?

A) 5 минут.
B) 10 минут.
C) 15 минут.
D) 20 минут.
E) 30 минут.

54. Четверо играли в домино 20 минут. По сколько минут играл каждый?

A) По 20 минут.
B) По 10 минут.
C) По 30 минут.
D) По 5 минут.
E) По 40 минут.

55. В семье двое детей. Саша - брат Жени, но Женя Саше не брат.
Может ли такое быть?
Кто Женя?

A) Сестра
B) Братик
C) Дядя
D) Племянник
E) Кузен

56. По направлению в город ехало 3 автомобиля, а навстречу им ехало 5 автобусов.
Сколько машин ехало в город?

A) 3 машины
B) 0 машин
C) 1 машина
D) 2 машины
E) 5 машин

57. Три мальчика играли в шашки. Всего было сыграно три партии. По сколько партий сыграл каждый мальчик?

A) По две партии.
B) По три партии.
C) По шесть партий.
D) По пять партий.
E) По одной партии.

58. Какому насекомому “аплодирует” весь мир?

A) Моли
B) Бабочкам
C) Стрекозам
D) Комарам

E) Мухам

59. Шесть ног, две головы, а хвост один. Что это?
A) Всадник на лошади.
B) Крокодил
C) Дракон
D) Улитка
E) Горгона

60. Где находятся города без домов, реки без воды и леса без деревьев?
A) На географической карте
B) В фильмах
C) В фантазии
D) В раю
E) Во снах

61. Кто “ходит” сидя?
A) Шахматист
B) Инвалид-колясочник
C) Водитель
D) Тракторист
E) Наркоман

62. «Завязать» можно, а развязать не получится.
A) Разговор
B) Шнур
C) Ремень
D) Конфликт
E) Отношения

63. Что не является вопросом, но требует ответа?
A) Звонок в двери или по телефону.
B) Письмо
C) Телеграмма
D) Дружба
E) Конфликт

64. Когда всё видишь, то её не видишь, а когда ничего не видишь, то её видишь.
A) Темень
B) Туман
C) Огонь
D) Зарево
E) Дождь

65. Профессор решил угостить друзей своим фирменным овощным салатом. Для этого ему понадобилось: перца - 3 штуки и столько же помидоров; огурцов меньше, чем помидоров, но больше, чем редисок. Сколько всего штук разных овощей использовал Профессор в салате?
A) 9
B) 5
C) 6

D) 7
E) 8

66. То, что принадлежит вам, однако другие им пользуются чаще, чем вы?
A) Ваше имя
B) Ваш ум
C) Ваш рост
D) Ваша доброта
E) Ваше расположение

67. Единственная птица, у которой есть ушные раковины?
F) Сова
G) Орел
H) Страус
I) Феникс
J) Фазан

68. Римляне внесли в конструкцию вилки революционное новшество – все последующие модели стали лишь вариациями найденного решения. А какой вилка была до этого новшества?
A) Однозубой
B) Многозубой
C) Сплошной
D) Трехзубой
E) Четырехугольной

69. Назовите растение, у которого самые большие плоды.
A) Тыква
B) Кокос
C) Арбуз
D) Дыня
E) Помидор

70. Что теряет в полёте любой космонавт?
A) Вес
B) Кислород
C) Связь с миром
D) Сон
E) Страх

71. У человека двенадцать пар рёбер. А у кого рёбер около трёхсот?

A) У змеи
B) У слона
C) У сороконожки
D) У черепахи
E) У кита

72. Назовите сельскохозяйственную культуру, которая на 90% сгорает, а на 10% выбрасывается.

A) Табак
B) Кукуруза
C) Просо
D) Пшеница
E) Ячмень

73. Обладателем самого большого рога является белый носорог (до 158 см). А у какого животного самые мягкие рога?

A) У улиток
B) У коров
C) У коз
D) У сайги
E) У лягушек

74. Почему быстро погибают насекомые-однодневки “поденки”

A) Они не имеют пищеварительной системы и даже рта
B) Они заразные
C) Они не переносят холод
D) Они не переносят жару
E) Они не переносят шум и свет

75. “Это болезнь. Но очень редкая. К сожалению незаразная”, говорил Гиппократ. О чем говорил Гиппократ?

A) О гениальности
B) Об экстрасенсорике
C) О сне
D) О мужестве
E) Об юморе

76. Если тюрки хотели сказать “охраняй селение”, они говорили “кара авыл”. А как мы говорим сейчас?

A) “Карауль”
B) “Стой”
C) “Замри”
D) “Не отходи”
E) “Не смотри”

77. Юлий Цезарь приказал своим солдатам украсить щиты и оружие драгоценностями. Зачем?

A) Чтобы жалко было бросать
B) Для мотивации

C) Для престижа
D) Для поднятия духа
E) Для смелости

78. Если в 12 часов ночи идет дождь, то можно ли ожидать, что через 72 часа будет солнечная погода?

A) Нет, так как через 72 часа снова будет полночь
B) Да, будет солнечная погода
C) Будет ночь
D) Будет день
E) Будет снег

79. В светильнике было 20 лампочек, 5 из них перегорели. Сколько лампочек осталось?

A) Двадцать лампочек (15 работающих и 5 перегоревших).
B) 15
C) 19
D) 10
E) 12

80. У кого усы длиннее ног?

A) У таракана
B) У жирафа
C) У лани
D) У медузы
E) У улитки

81. Один джентльмен, показывая своему другу портрет, нарисованный по его заказу одним художником, сказал: “У меня нет ни сестер, ни братьев, но отец этого человека был сыном моего отца”. Кто изображен на портрете?

A) Сын джентльмена.
B) Дядя этого джентльмена.
C) Дед этого джентльмена.
D) Внук этого джентльмена.
E) Сам джентльмен.

82. В парке 8 скамеек. Три покрасили. Сколько скамеек стало в парке?

A) Восемь
B) Пять
C) Шесть
D) Семь
E) Десять.

83. Термометр показывает плюс 15 градусов. Сколько градусов покажут два таких термометра?

A) + 15 градусов
B) + 30 градусов
C) + 45 градусов
D) + 60 градусов
E) 0 градусов

84. Что легче: 1 кг ваты или 1 кг железа?

A) Одинаково
B) 1 кг ваты
C) 1 кг яблок
D) 1 кг пшеницы
E) 1 кг соли

85. Два раза рождается, один раз умирает. Кто это?
A) Цыплёнок
B) Лягушка
C) Черепаха
D) Краб
E) Раки

86. Что всегда увеличивается и никогда не уменьшается?
A) Возраст
B) Гордость
C) Ум
D) Вес
E) Дружба.

87. Чем больше из нее берешь, тем больше становится. Что это?
A) Яма
B) Деньги
C) Память
D) Любовь
E) Непрязнь

88. Что идет то в гору, то с горы, но остается на месте?
A) Дорога
B) Солнце
C) Луна
D) Дождь
E) Речка

89. Единственное животное, в которое забивают гвозди. Кто это?
A) Лошадь
B) Бык
C) Носорог
D) Слон
E) Собака

90. Из кожи именно этого животного были впервые изготовлены напильники, которыми полировали дерево и даже мрамор.
A) Акулы
B) Быка
C) Носорога
D) Слона
E) Лошади

91. Сколько яиц можно съесть натощак?
A) Одно (остальные уже будут не натощак).

B) 10
C) 2
D) 3
E) 0

92. Сын моего отца, но мне не брат.
A) Я сам
B) Кузен
C) Дядя
D) Собственный сын
E) Мой внук

93. Накормите его, и он оживет. Напоите его, и он умрет. Что это такое?
A) Огонь
B) Животные
C) Растения
D) Дружба
E) Конфликты

94. Что в огне не горит и в воде не тонет?
A) Лёд
B) Титан
C) Стекло
D) Пластик
E) Труды ученых

95. Кого австралийцы называют морской осой?
A) Медузу
B) Пингвинов
C) Тюленей
D) Морских ежей
E) Инфузории

96. Три курицы несут три яйца за три дня. Сколько яиц снесут 12 куриц за 12 дней?
A) 48
B) 12
C) 24
D) 36
E) 48

97. Какие насекомые одомашнены человеком?
A) Пчёлы
B) Бабочки
C) Стрекоза
D) Комары
E) Мухи

98. На какой вопрос невозможно ответить “да”?
A) «Ты спишь?»
B) «Ты гуляешь?»
C) «Ты занимаешься?»

D) «Ты счастлив?»
E) «Ты умный?»

99. Какой узел нельзя развязать?
A) Железнодорожный
B) Родственных отношений
C) Государственный
D) Любовный
E) Преступный

100. Какие животные всегда спят с открытыми глазами?
A) Рыбы
B) Малыши
C) Обезьяны
D) Крокодилы
E) Совы

101. Двое солдат подошли к левому берегу реки, где им предстояло переправиться на следующий берег. Двое подростков катались на лодке недалеко от берега, других надувных лодок в воде не было. Однако лодка не может выдержать на воде вес более 100 кг.

Как организовать переброску солдат на правый берег и за сколько рейсов это можно сделать? Если, чтобы переправить одного солдата, требуется две поездки: в первой поездке двое подростков переправляются на противоположный берег, один из них остается там, а второй подросток возвращается на исходный берег на лодке. Во время второго рейса подросток передает лодку одному из солдат, солдат переходит на правый берег и возвращает лодку второму подростку. Второй подросток достигает первоначального берега. Итак, если для того, чтобы доставить одного солдата на паром, требуется две поездки, сколько поездок понадобится, чтобы переправить двоих из них через реку?

A) Потребуется 4 рейса
B) Потребуется 3 рейса
C) Потребуется 2 рейса
D) Потребуется 5 рейсов
E) Потребуется 1 рейс

102. В Англии этот цветок воспет поэтами в сказках. Он служит колыбелью для малюток фей и нежных эльфов. Его родина Персия, оттуда он перекочевал в Турцию, а в XIX в. в Европу. В Голландии существовал культ этого цветка. В Амстердаме за три луковицы были куплены два каменных дома.

A) Тюльпаны
B) Розы
C) Орхидеи
D) Магнолии
E) Лиандры

103. Что бывает страшнее огня?

A) Дым
B) Пробуждение вулкана
C) Землетрясение
D) Война
E) Сель

104. Как называется исполнение песни без музыки?

A) Акапелла
B) Ария
C) Хор
D) Соло
E) Речитатив

105. Вес какого животного может достигать 190 тонн?

A) Синий кит
B) Бегемот
C) Слон
D) Носорог
E) Крокодил

106. Катя быстрее Иры,
Ира быстрее Лены.
Кто быстрее всех?
A) Катя
B) Ира
C) Лена
D) Надя
E) Оля

107. Один из двух автомобилей едет по широкой дороге, другой — по узкой.
Грузовик не едет по узкой дороге.
По какой дороге едет легковой автомобиль?
А грузовик?

A) Грузовик едет по широкой дороге
B) Легковой автомобиль едет по широкой дороге
C) Грузовик не едет по широкой дороге
D) Грузовик не едет по широкой дороге
E) Легковой автомобиль не едет по узкой дороге

108. Вера немного темнее, чем Люда.
Вера намного светлее Кати.
Кто светлее всех?

A) Вера
B) Люда
C) Катя
D) Оля
E) Наташа

109. Что можно приготовить, но нельзя съесть?
A) Домашнее задание по уроку
B) Пирог
C) Еда
D) Напиток
E) Баурсаки

Если нужно, могу дать дополнительные пояснения по значениям или употреблению.

110. Толя выше Игоря,
Игорь выше Коли.
Кто выше всех?
A) Толя
B) Игорь
C) Коля
D) Юра
E) Андрей

111. Какой болезнью на суше никто не болеет?
A) Морской болезнью
B) Бешенством
C) Тифом
D) Летаргическим сном
E) Синдромом Туретто

112. Саша веселее Толи,
Толя веселее Вани.
Тогда кто самый весёлый?
A) Саша
B) Толя
C) Ваня
D) Юра
E) Андрей

113. Какие черви не имеют кишечника?

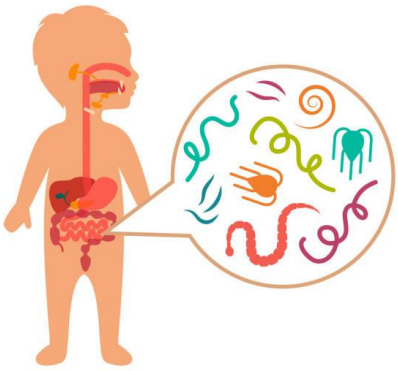

A) Ленточные черви
B) Безногие земноводные
C) Звездчатые черви
D) Земляные черви
E) Ледяные черви

114. Каких моллюсков едят живыми?

A) Устрицы (Ostreidae)
B) Панцирные (Polyplacophora)
C) Двустворчатые (Bivalvia)
D) Лопатоногие (Scaphopoda)
E) Брюхоногие (Gastropoda)

115. Кто самый крупный зверь?

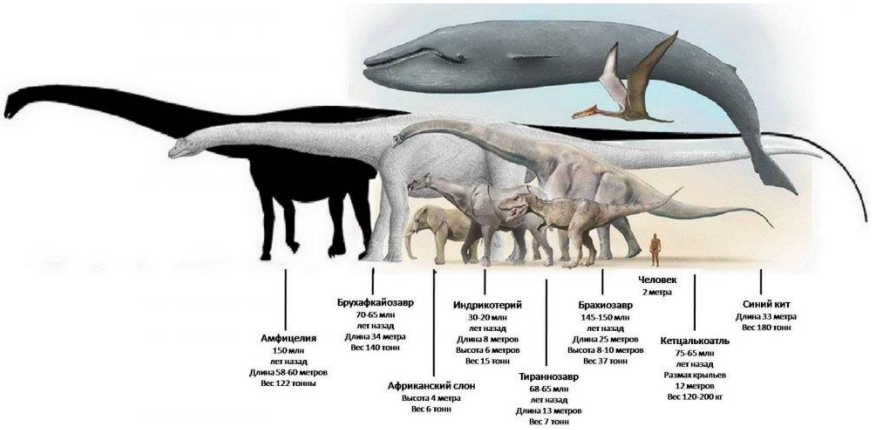

A) Синий кит – «полосатик»

B) Бегемот
C) Носорог
D) Слон
E) Мегалодон

116. Как называются организмы, живущие за счет других, питаясь соками его тела?

A) Паразиты
B) Ч*ервяк*
C) Тунеядец
D) Чужеяд
E) Нахлебник

117. Кто умеет строить острова?

A) Коралловые полипы
B) Рыбы
C) Черви
D) Осы
E) Птицы

118. Какие птицы не умеют летать?

A) Страусы
B) Попугаи
C) Голуби
D) Совы
E) Грачи

119. Пирог был разрезан на три части.
Сколько всего разрезов было сделано, чтобы разделить пирог на три части?
A) Два
B) Три
C) Один
D) Четыре
E) Пять

120. Один из пяти братьев разбил окно.
Андрей сказал: «Это или Витя, или Толя».
Витя сказал: «Это сделал не я и не Юра».
Дима сказал: «Нет, один из них сказал правду, а другой неправду».
Юра сказал: «Нет, Дима, ты не прав».
Их отец, которому можно доверять, уверен, что не менее трех братьев сказали правду.
Кто разбил окно?
A) Окно разбил Толя
B) Окно разбил Андрей
C) Окно разбил Витя
D) Окно разбил Дима
E) Окно разбил Юра

121. Маша бегает быстрее, чем Света.
Света быстрее Оли.
Кто из девочек быстрее всех?
A) Маша
B) Света
C) Оля
D) Надя
E) Галя

122. Лиза и Петя пошли в лес собирать грибы и ягоды.
Лиза грибы не собирала.
Что собирал Петя?
A) Петя собирал грибы
Б) Петя не собирал грибы

В) Петя собирал ягоды
Г) Петя не собирал ягоды
Д) Лиза собирала грибы

123. Ира на 3 см ниже Клавы.
Клава на 5 см ниже, чем Люба.
Кто выше всех?
A) Люба
B) Клава
C) Ира
D) Мая
E) Надя

124. Растут две березы. На каждой березе по четыре шишки.
Сколько всего шишек?
A) На березе шишки не растут
B) Всего 8 шишек
C) Всего 7 шишек
D) Всего 6 шишек
E) Всего 12 шишек

125. Какое насекомое может поднять груз в 10 раз превышающий его собственный вес?

A) Муравей
B) Ежик
C) Белка
D) Оса
E) Черепаха

126. Температура воды в водоеме 17 градусов Цельсия.
Какова температура тела, рыб обитающих в нем?
A) 18 градусов Цельсия
B) 20 градусов Цельсия
C) 25 градусов Цельсия
D) 22 градусов Цельсия
E) 23 градусов Цельсия

127. Вы поймали карася. Как узнать, сколько ему лет?

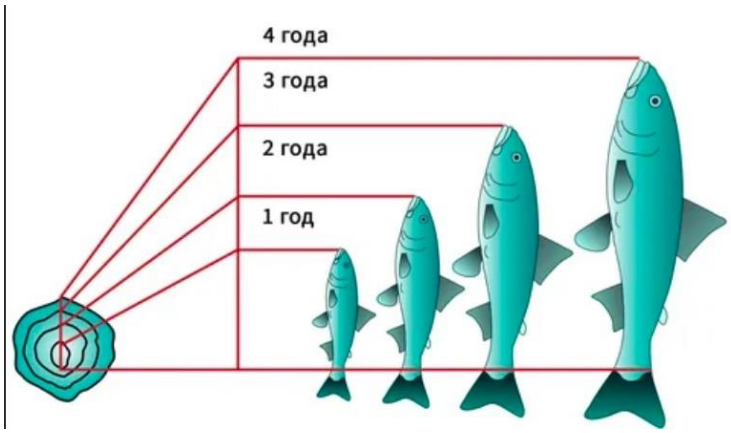

A) Сосчитать кольца на чешуе
B) Измерить длину рыбы
C) Измерить от вершины рыла до лопасти хвостового плавника
D) Измерить чешуйчатый покров
E) Измерить толщину рыбы

128. Какие организмы растут всю жизнь?

A) Кораллы
B) Киты
C) Караси
D) Инфузории
E) Осьминоги

129. Существа, которые не могут жить в среде, не содержащей кислорода?

A) Рыбы
B) Водоросли
C) Гельминты
D) Анаэробные микроорганизмы
E) Аскариды

130. В колесе 8 спиц.
Сколько между спицами промежутков?
A) 7
B) 8
C) 6
D) 5
E) 3

131. Летела стая птиц на рощу.
Сели по две на дерево - одно осталось;
сели по одной - одного не досталось.
Сколько в роще деревьев, а в стае птиц?



A) Три дерева, четыре птицы
B) Четыре дерева, четыре птицы
C) Четыре дерева, три птицы
D) Три дерева, три птицы

E) Четыре дерева, пять птиц

132. Толя и Игорь рисовали.
Один — дом, другой — ветку с листьями.
Что рисовал Толя, если Игорь не рисовал дом?
A) Толя рисовал дом
B) Толя рисовал листик
C) Толя рисовал самолет
Д) Толя рисовал машину
E) Толя рисовал дерево

133. Три подруги вышли в белом, зеленом и синем платьях и туфлях. Известно, что только у Ани цвета платья и туфель совпадали. Ни туфли, ни платье Вали не были белыми. Наташа была в зеленых туфлях.

Определите цвет платья и туфель на каждой из подруг.
A) Наташа вышла в синем платье и зеленых туфлях, Валя — в зеленом платье и синих туфлях, Аня — в белом платье и белых туфлях. Наташа вышла в синем платье и зеленых туфлях, Аня — в зеленом платье и синих туфлях. Валя — в зеленом платье и синих туфлях
B) Наташа вышла в синем платье и зеленых туфлях, Аня — в зеленом платье и синих туфлях
C) Валя — в зеленом платье и синих туфлях
D) Валя — в зеленом платье и синих туфлях
E) Аня — в белом платье и белых туфлях

134. На международном конгрессе встретились четверо ученых: физик, историк, биолог и математик. Национальности их были различными и, хотя каждый из ученых владел двумя языками из четырех (русский, английский, французский и итальянский), не было такого языка, на котором они могли бы разговаривать вчетвером. Был язык, на котором могли разговаривать сразу трое. Никто из ученых не владел французским и русским одновременно. Хотя физик не говорил по-английски, он мог быть переводчиком, если биолог и историк хотят поговорить друг с другом. Историк говорит по-французски и может говорить с математиком, хотя тот не знает ни одного русского слова. Физик, биолог и математик не могут беседовать втроем на одном языке.
Какими двумя языками владеет каждый из ученых?

A) Физик владеет французским и итальянским языками, историк — русским и итальянским, биолог — английским и французским, математик — английским и итальянским

B) Физик владеет русским и итальянским, биолог — английским и французским, математик — английским и итальянским

C) Физик владеет английским и французским языками, историк — русским и итальянским, биолог — английским и французским, математик —французским и итальянским

D) Физик владеет арабским и итальянским языками, историк — французским и испанским, биолог — английским и французским, математик — английским и итальянским

E) Физик владеет французским и итальянским языками, историк — русским и итальянским, биолог — английским и французским, математик — английским и итальянским

135. В очереди за билетами в кино стоят: Юра, Миша, Володя, Саша и Олег.
Известно, что:
1) Юра купит билет раньше, чем Миша, но позже Олега
2) Володя и Олег не стояли рядом
3) Саша не находится рядом ни с Олегом, ни с Юрой, ни с Володей

Кто за кем стоит?

A) Мальчики стоят в очереди в следующем порядке: Олег, Юра, Володя, Миша и Саша
B) Миша и Саша, Олег, Юра, Володя
C) Юра, Володя, Миша и Саша, Олег
D) Саша, Олег, Юра Миша и Володя
E) Саша, Миша, Володя, Олег, Юра

136. В семье трое детей.
Сестёр больше, чем братьев.
Сколько сестёр в семье?
A) Сестер двое
B) Сестер двое
C) Одна сестра
D) Четыре
E) Пять

137. В семье четверо детей. Им 5, 8, 13 и 15 лет. Детей зовут Аня, Боря, Вера и Галя. Сколько лет каждому ребенку, если одна девочка ходит в детский сад, Аня старше Бори, и сумма лет Ани и Веры делится на три?
A) Вере 5 лет, Боре 8 лет, Ане 13 лет, Гале 15 лет
B) Вере 5 лет, Боре 8 лет, Ане 13 лет, Гале 5 лет
C) Вере 15 лет, Боре 18 лет, Ане 3 лет, Гале 5 лет
D) Вере 5 лет, Боре 8 лет, Ане 13 лет, Гале 12 лет
E) Вере 3 лет, Боре 8 лет, Ане 3 лет, Гале 5 лет

138. Саша на 10 лет младше Игоря.
Игорь на 2 года старше Лёши.
Кто младше всех?
A) Саша
B) Леша
C) Игорь
D) Дима
E) Юра

139. На улице, встав в кружок, беседуют четыре девочки: Аня, Валя, Галя и Надя.
1) Девочка в зеленом платье — не Аня и не Валя — стоит между девочкой в голубом платье и Надей.
2) Девочка, в белом платье стоит между девочкой в розовом платье и Валей.
Какого цвета платье у каждой из девочек?
Следующая задача также приводит к необходимости упорядочить пары элементов двух множеств. Это упорядочение имеет особый характер.
A) У Гали платье зеленое, у Нади — розовое, у Вали — голубое, у Ани — белое
B) У Гали – красное
C) У Нади - белое
D) У Вали — розовое
E) Аня в голубом платье

140. Четыре товарища (Петя, Боря, Алеша и Коля) пошли со своими сестрами на школьный новогодний бал.
Во время первого танца каждый из них танцевал не со своей сестрой. Лена танцевала с Петей, а Светлана — с братом Наташи, Оля танцевала с братом Светланы, Боря — с сестрой Алеши, а Алеша — с сестрой Пети.

Кто чей брат? Кто с кем танцевал?

A) Петя — брат Оли, и Петя танцевал с Леной;
Боря — брат Наташи, и Боря танцевал со Светланой;
Алеша — брат Светланы, и Алеша танцевал с Олей;
Коля — брат Лены, и Коля танцевал с Наташей
B) Петя — брат Наташи, и Боря танцевал со Светланой
C) Коля —— брат Оли, и Петя танцевал с Леной
D) Брат Светланы, и Алеша танцевал с Олей
E) Алеша — брат Лены, и Коля танцевал с Наташей

141. Миша сильнее Олега,
Миша слабее Пети.
Кто сильнее всех?
A) Петя
B) Миша
C) Олег
Д) Алексей
E) Иван
катались на «Колесе Обозрения».

142. Какая обезьяна считается самой крупной?

A) Горилла
B) Непальский серый лангур
C) Мандрил
D) Тибетская макака
E) Желтые бабуины

143. Какова сумма чисел до ста?
A) Сумма чисел от 1 до 100 (включительно) равна 5050, а сумма чисел от 1 до 100 (исключая 100)
равна 4950
Б) 5050
В) 5000
Г) 4500
Д) 4900

144. Каким образом крот заготавливает на зиму червей?

A) Обезглавливает их и складывает в кладовую
B) Закапывает в землю
C) Заварачивает в листья
D) Сушит
E) Раздробляет и прячет

145. Какие птицы являются первыми вестниками весны?

A) Грачи
B) Трясогузки
C) Скворцы
D) Жаворонки
E) Дрозд-рябинник

146. В какой стране вывели петухов с трехметровыми хвостами?

A) В Японии
B) В Австралии
C) В Австрии
D) В Тайланде
E) В Индонезии

147. У какого насекомого нет слуха?

A) У мухи

B) У стрекозы
C) У комора
D) У бабочки
E) У таракана

148. Определите, в каком отношении находятся объемы имен «студент» и «спортсмен»:

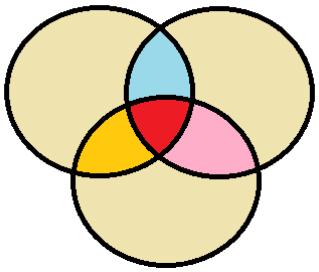

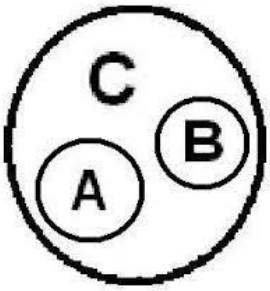

A) Пересечение
B) Подчинение
C) Исключение
Д) Совпадение
E) Противоречие

149. (Любовь без взаимности).

Трое юношей: Коля, Петя и Юра — влюблены в трех девушек: Таню, Зину и Галю. Но это любовь без взаимности.
Коля любит девушку, влюбленную в юношу, который любит Таню.
Петя любит девушку, влюбленную в юношу, который любит Зину.
Зина не любит Юру.
Кто в кого влюблен?
A) Коля влюблен в Галю, Галя — в Петю, Петя — в Таню, Таня — в Юру, Юра — в Зину и Зина — в Колю
B) Коля любит Таню
C) Петя любит Зину
D) Таня любит Юру
E) Петя влюблен в Галю

150. Какие земноводные животные переодеваются - меняют кожу четыре раза в год и

всякий раз съедают предыдущую.

A) Лягушки
B) Гадюки
C) Раки
D) Осьминоги
E) Угри и скаты

151. Где родилось искусство составления букета «икебана»

A) В Японии
B) В Китае
C) В Тайланде
D) В Тайланде
E) В Малайзии

152. Какой цветок является символом Солнца и символом Японии?

A) Хризантема
B) Пионы
C) Тюльпаны
D) Гербер
E) Гортензии

153. Какой цветок всю жизнь любуется собой?

A) Нарцисс
B) Гортензии
C) Хризантема
D) Гербер
E) Пионы

154. Какие существа имеют три сердца?

A) Осьминоги, каракатицы, кальмары.
B) Лягушки, гадюки
C) Раки, осьминоги
Д) Угри и скаты
E) Киты, инфузории

155. Какого цвета у моллюсков кровь?

A) Голубая
B) Прозрачного
C) Красного
D) Серого
E) Черного

156. Какое растение дает лучший мед?

A) Липа
B) Мята
C) Гречиха
D) Клевер
E) Одуванчик

157. Самое быстрое животное суши?

A) Гепард, 110 км в ч.
B) Страус
C) Кенгуру
D) Леопард
E) Тигр

158. Какая нить в природе самая тонкая?

A) Паутина
B) Натуральная нить
C) Синтетическая нить
D) Капроновая нить
E) Шелковая нить

159. Какая змея плюется?

A) Кобра
B) Удав
C) Гадюка
D) Мамба
E) Анаконда

160. У кого самый длинный язык?

A) Муравьед, длина 61 см.
B) З*мей*
C) Корова
D) Жираф
E) Комодский варан

161. Где у кузнечика ухо?

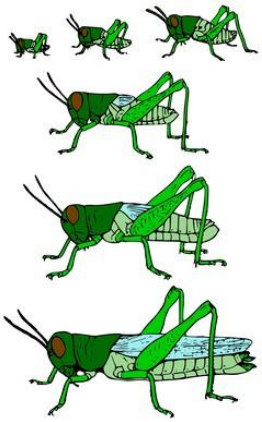

A) На ноге
B) На лбу
C) На крыльях
D) На спине
E) На хвосте

162. Чем блеет бекас?

A) Хвостом
B) Животом
C) Головой
D) Чешуей
E) Всем телом

163. Какой зверь после еды чистит зубы? Полощет рот.

A) Тигр
B) Верблюд
C) Медведь

D) Слон
E) Жираф

164. У каких птиц крылья покрыты чешуей?

A) Пингвины
B) Пеликан
C) Цапля
D) Аист
E) Гусь

165. У кого больше позвонков?

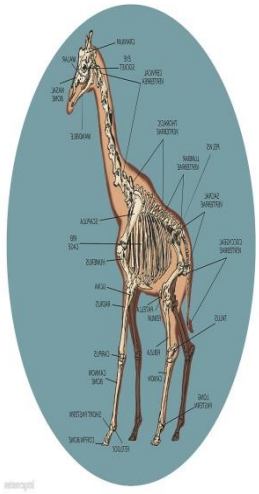

A) Жираф
B) Свинья
C) Слон
D) Крокодил
E) Змея

166. Где хранит свои запасы воды верблюд?

A) В крови
B) На горбах
C) В желудке

D) Под кожей
E) На теле

167. Из какого дерева делают спички?

A) Осина
B) Береза
C) Клен
D) Дуб
E) Ива

168. Какая рыба может превратиться в шахматную доску?



A) Камбала
B) Карп
C) Иваси
D) Килька
E) Карась

169. Чем стрекочет кузнечик?

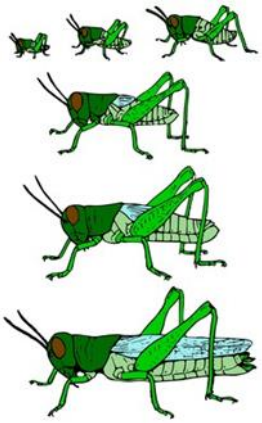

A) Трением ноги о крыло
B) Животом
C) Головой
D) Чешуей
E) Всем телом

170. Какая птица совсем не имеет крыльев?

A) Киви-киви
B) Пингвин
C) Страус
D) Попугай
E) Чайка

171. У какого животного цвет жира зеленый?



A) Крокодил
B) Бегемот
C) Носорог
D) Змей
E) Лягушка

172. Листья каких растений способны указать на стороны света?



A) Латук дикий, сильфиум, эвкалипт
B) Грецкие орехи
C) Хвойные *деревья*
D) Хосна
E) Кипарис

173. Самый большой паук на свете?

A) Heteropoda maxima (лат.) из семейства Sparassidae самый большой паук в мире, обитает в лаосской провинции Кхаммуан. Длина тела самок составляет до 4,6 см, самцов — примерно 3,0 см. Размах конечностей составляет от 25 до 30 см.
Птицеед-голиаф из Южной Америки уступает ему в размахе конечностей, но заметно превосходит по размерам тела
B) Клещи (Acari)
B) Скорпионы
Г) Крабы
E) Черный дрозд

174. Самая большая змея на земле

A) Анаконда, до 9 м.
B) Мулга
C) Черная мамба
D) Кайсака
E) Бумсланг

175. У какой акулы глаза расположены в 2 метрах друг от друга?

A) Рыба – молот (Кархаринообразные)
B) Белая акула (Ламнообразные)
C) Чёрная колючая акула (Катранообразные)
D) Пятнистая шорная акула (Воббегонгообразные)
E) Японский пилонос (Пилоносообразные)

176. Какая бабочка любит путешествовать? Осенью она улетает, как птица на юг, в Африку, а весной возвращается в наши края.

A) Бабочка-репейница
B) Адмирал
C) Аполлон Мнемозина
D) Бархатница Автоноя
E) Бабочка-мокрица

177. Какая лягушка для своих головастиков строит дом, но без окон, крыши и дверей.

A) Квакша-кузнец
B) Дальневосточная
C) Сибирская
Д) Травяная

E) Озёрная

178. Какая змея «видит» тепло, даже слепая, без слуха и обоняния.

A) Щитомордник
B) А*наконда*
C) Гадюка
D) Аспид
E) Африканский бумсланг

179. Самые высокие деревья в мире



A) Эвкалипты до 187 м.
B) С*еквойя*
C) Ель
D) Пихта
E) *Кипарис*

180. Самое большое дерево

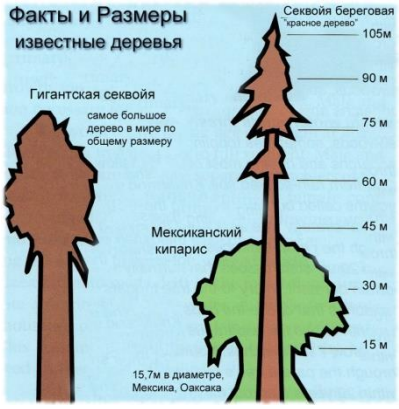

A) Секвойя
B) Ель
C) К*ипарис*
D) Эвкалипт
E) **П**ихта

181. Самая крепкая древесина

A) Железное дерево – «парротия персидская»
B) Пандо
C) Дуб Джурупа
D) Старый Тикко
E) Старый Расмус

182. Самое крупное плавающее растение?

A) «Виктория-регия», ее листья достигают диаметра до 2 м. И могут выдерживать рассредоточенный груз до 50 кг.
B) Водоросли макроцистис, могут достигать 200 метров в длину
C) Нереоцистис, могут достигать 200 метров в длину
D) Морская капуста
E) Большая кувшинка: виктория боливийская — лист диаметром 3 м.

183. Самые большие цветы?

A) «Рафлезия Арнольда»- ее метровый цветок весит до 10 кг
B) Титановый арум
C) Магнолия Кампбелла
D) Талипотовая пальма
E) Гигантский лотос

184. Какая птица выводит птенцов в лютые морозы?

A) Клест
B) Зимородок
C) Дятел
D) Синица
E) Белые совы

185. Какое дерево используют для изготовления лыж?



A) Береза
B) Осина
C) Клен
D) Дуб
E) Ива

186. Слово или словосочетание, которое обозначает строго определенное понятие:
A) Термин
B) Омонимы
C) Синонимы
D) Категории
E) Предикат

187. Есть ли у улитки зубы?

A) Да, улитка имеет 135 рядов зубов, расположенных на языке. Каждый ряд содержит по 105 зубов, в сумме 14175!
B) Нет зубов
C) 100 зубов
D) 80 зубов
E) 40 зубов

188. Назовите средний возраст сосны





A) 120-140 лет
B) 100 лет
C) 110 лет
D) 115 лет
E) 130 лет

189. Выберите причину несостоятельности рассуждения: «Куры летают, так как куры — птицы, а все птицы летают»:
A) Недостоверность аргумента
B) Противоречие в аргументах
C) Недостаточность аргументов
D) Нарушение правил обобщения
E) Нарушение правил ограничения

190. Сколько на каштане в среднем листьев?

A) 19 тысяч
B) 18 тысяч
C) 20 тысяч
D) 10 тысяч
E) 15 тысяч

191. Сколько в среднем листьев на тополе?

A) От 70 тыс. до 119 тыс.
B) От 60 тыс. до 120 тыс.
C) От 50 тыс. до 110 тыс.
D) От 40 тыс. до 119 тыс.
E) От 30 тыс. до 119 тыс.

192. Какого уровня достигает естественный шумовой фон, без которого невозможна

жизнь человека?
A) Допустимая граница громкости - 80-85 децибелов, 130 д. вызывает у человека болевые ощущения, в 150 д. звук становится непереносимым
B) Шелест травы - 10 децибелов
C) Громкая речь - 60-70 децибелов
D) Шум уличного транспорта 80-100 децибелов
E) Максимальный уровень звука не должен превышать 110 дБА, а для импульсного шума - 125 дБА. Запрещается даже кратковременное пребывание в зонах с уровнями звукового давления свыше 135 дБ в любой октавной полосе

193. Какая самая крупная в мире ящерица?

A) Варан с острова Комодо
B) Мегалания (Varanus priscus, [syn. Megalania prisca])
C) Зелёная игуана — длина 1,5 метров, вес – 7 кг.
D) Крокодилы
E) Летучие драконы (лат. Draco) — род ящериц из семейства агамовых, обитающий в Юго-Восточной Азии

194. Самый крупный в мире хищник?



A) Белый медведь
B) Черные кайманы
C) Миссисипский аллигатор
D) Бурые медведи
E) Стаи волков

195. Самое крупное лесное копытное млекопитающее?

A) Лось
B) Горные *козы*
C) З*ебры*
D*) Зайгаки*
E) Кабаны

196. Самое крупное в мире ластоногое млекопитающее?

A) Морж
B) Тангалунга
C) Антарктический тюлень-ююжный морскóй слон (лат. Mirounga leonina)
D) Пятнистая гиена
E) Полосатый мангуст

197. Из какого дерева делают пианино?

A) Из ели
B) Из осины
C) Береза
Д) Клен
E) Дуб

198. Самая крупная в мире бабочка?

A) Агриппина (размах крыльев 27 см.
B) Павлиноглазка геркулес, или косциноцера геркулес (лат. Coscinocera hercules) размах крыльев достигает 27 см.
C) Сатурния павлиноглазка Атлас Атлас - размах крыльев до 26 см.
D) Парусник Маака — с размахом крыльев до 13,5 см.
E) Бражник «мертвая голова» - Размер бабочки 46—60 мм. Размах крыльев - 80-120 мм.

199. Самый сильный из сумчатых на Земле?



A) Сумчатый волк
B) Гигантский кенгуру
C) Виргинский опоссум
D) Тасманийский дьявол
E) Рыжий кенгуру

200. Самое крупное млекопитающее ?

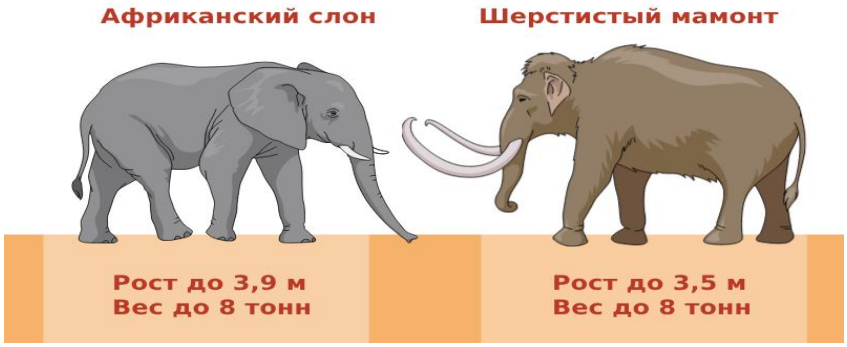

A) Африканский слон - высота 4 м, вес до 7 тонн.
B) Гребнистый крокодил - масса 800 кг.
C) Финвал (Balaenoptera physalus), крупнейшее морское млекопитающее - длина до 26 метров и вес 80 тонн.
D) Кашалот (Physeter macrocephalus) — огромный зубастый хищник, длины до 24 метров и веса до 50 тонн.
E) Белый медведь (Ursus maritimus) — масса 800 кг.

Приложение 4

Мирас Университеті мекемесі
160012, Шымкент қ, Ғ. Іляев, 3
тел. 8 (7252) 33-77-77
e-mail: info@miras.edu.kz
www.miras.edu.kz

Учреждение Университет Мирас
160012, г. Шымкент, ул. Г. Иляева, 3
тел. 8 (7252) 33-77-77
e-mail: info@miras.edu.kz
www.miras.edu.kz

Университет «Мирас»

Протокол заседания комиссии
по проведению собеседования с поступающими на образовательную программу
магистратуры 7М04108 - Управление и право (EMBA)
№

«___»_____20___ г. г. Шымкент

Присутствовали:
Председатель: (Ф.И.О. председателя)

Члены комиссии: (Ф.И.О членов комиссии)

Повестка дня: Собеседование (указать категорию абитуриентов, принимающих участие в собеседовании)

Комиссией проведено собеседование (указать категорию абитуриентов), поступающими на образовательную программу 7М04108 - Управление и право (EMBA). Поступающим заданы вопросы в соответствии с Программой собеседования.

Решение:

По итогам обсуждения результатов собеседования комиссией рекомендованы к зачислению следующие поступающие:

1.
2.
3.
4.

По итогам обсуждения результатов собеседования комиссией не рекомендованы к зачислению следующие поступающие

1.
2.
3.
4.

ИЛИ

Не рекомендованные к зачислению не имеются.

Председатель комиссии: (Ф.И.О. председателя)

Члены комиссии: (Ф.И.О члена комиссии)

(Ф.И.О члена комиссии)

Приложение 5

Мирас Университеті мекемесі
160012, Шымкент к, Ғ. Іляев, 3
тел. 8 (7252) 33-77-77
e-mail: info@miras.edu.kz
www.miras.edu.kz

Учреждение Университет Мирас
160012, г. Шымкент, ул. Г. Иляева, 3
тел. 8 (7252) 33-77-77
e-mail: info@miras.edu.kz
www.miras.edu.kz

Выписка из Протокола заседания комиссии
по проведению собеседования с поступающими на образовательную программу
магистратуры 7М04108 - Управление и право (EMBA)
№

№____ от «___» _____ 202_ года

Повестка дня: Собеседование (указать категорию абитуриентов, принимающих участие в собеседовании)

Слушали: _____
(Ф.И.О. лица, проходившего собеседование)

Решение комиссии: Рекомендован (а) к зачислению

Выписка верна

Ответственный секретарь
приемной комиссии _____ **.....**

Приложение 6

Акт об уничтожении видеоматериалов собеседований с поступающими на образовательную программу магистратуры 7М04108 - Управление и право (EMBA)
№ _

Составлен членами приемной комиссии

Председатель приемной комиссии: ….
Ответственный секретарь приемной комиссии: ….

Члены приемной комиссии: …

Настоящий акт составлен о том, что в присутствии председателя, ответственного секретаря и членов приемной комиссии были уничтожены, как утратившие практическое значение следующие видеоматериалы:

1. Видеозаписи заседания комиссии по проведению собеседования с поступающими на образовательную программу магистратуры 7М04108 - Управление и право (EMBA) от __ _____202_ года в количестве __ штук.

Всего ___ видеозаписей (_____).

Видеозаписи уничтожены путем удаления с жесткого диска компьютера, размещенного в аудитории № ____ (адрес ул. _____) ___ сентября 202____года

Настоящий акт составлен в 2-х экземплярах на казахском и русском языках ____ сентября 202__года.

Председатель приемной комиссии:
Ответственный секретарь приемной комиссии:
Члены приемной комиссии:

Приложение 7

Мирас Университеті мекемесі
160012, Шымкент қ, Ғ. Іляев, 3
тел. 8 (7252) 33-77-77
e-mail: info@miras.edu.kz
www.miras.edu.kz

Учреждение Университет Мирас
160012, г. Шымкент, ул. Г. Иляева, 3
тел. 8 (7252) 33-77-77
e-mail: info@miras.edu.kz
www.miras.edu.kz

Университет «Мирас»

Форма апелляции на результаты собеседования

---

1. Личные данные заявителя:

- Фамилия, имя, отчество (полностью): _____
- Контактный номер телефона: _____
- Электронная почта: _____

2. Данные о собеседовании:

- Дата проведения собеседования: _____
- Наименование образовательной программы: _____

3. Основания для апелляции:

(Укажите, с какими результатами вы не согласны. Опишите детали, укажите конкретные моменты и причины несогласия, а также, если возможно, ссылайтесь на критерии оценки.)

_____

_____

_____

4. Подтверждающие материалы (если есть):

(Приложите документы, записи или другие материалы, которые могут быть полезны для рассмотрения вашей апелляции.)

- 1. _____
- 2. _____

5. Подпись заявителя:

- Дата подачи апелляции: _____
- Личная подпись: _____

Приложение 8

Мирас Университеті мекемесі
160012, Шымкент қ, Ғ. Іляев, 3
тел. 8 (7252) 33-77-77
e-mail: info@miras.edu.kz
www.miras.edu.kz

Учреждение Университет Мирас
160012, г. Шымкент, ул. Г. Иляева, 3
тел. 8 (7252) 33-77-77
e-mail: info@miras.edu.kz
www.miras.edu.kz

Университет «Мирас»

Протокол решения апелляционной комиссии по результатам собеседования №

«___»_____20___ г. г. Шымкент

Присутствовали:
Председатель: (Ф.И.О. председателя)
Члены комиссии: (Ф.И.О членов комиссии)

Повестка дня: Рассмотрение апелляции по результатам собеседования (указать данные абитуриента)

Основания для апелляции:

Рассмотрение апелляции:

- Проведенные действия комиссии:
- Выводы комиссии:

6. Решение апелляционной комиссии:

Председатель комиссии:	(Ф.И.О. председателя)
Члены комиссии:	(Ф.И.О члена комиссии)
	(Ф.И.О члена комиссии)